제 4 교시

직업탐구 영역(상업 경제)

성명		수험 번호	

1. 다음은 환경 관련 행사에 대한 기사이다. 이에 나타난 행사의 목적을 달성하기 위한 경제 주체의 활동으로 적절한 것을 〈보기〉에서 고른 것은?

A기관에서는 아지랑e(아끼자 · 지키자 · 사랑하자 · energy) 페스티벌을 개최하였다. 이 행사에서는 온실가스 감축과 에너지 절약의 필요성을 전달하기 위한 목적으로 신재생 에너지 발전기 체험, 에너지 절약형 제품 홍보, 친환경 전기 자동차 전시 등의 다채로운 행사가 진행되었다.

– ○○신문, 2017년 9월 19일 자 –

〈보 기〉

ㄱ. 정부는 화석 연료 사용을 권장한다.
ㄴ. 기업은 저탄소 인증 제품 개발에 투자한다.
ㄷ. 기업은 산업 유해 폐기물을 소각하여 처리한다.
ㄹ. 가계는 에너지 효율이 높은 등급의 제품을 사용한다.

① ㄱ, ㄴ ② ㄱ, ㄷ ③ ㄴ, ㄷ
④ ㄴ, ㄹ ⑤ ㄷ, ㄹ

2. 다음은 ○○(주)의 대금 지급 내역 일부이다. 이에 나타난 결제 수단에 대한 설명으로 옳은 것을 〈보기〉에서 고른 것은?

월	적 요	결제 수단	금액(원)
9월	상품 운송비	직불 카드	200,000
	상품 구입 대금	신용 카드	400,000
10월	사무용품 구입 대금	당좌 수표	300,000
	상품 광고비	약속 어음	150,000

〈보 기〉

ㄱ. 9월에 지급한 결제 수단의 금액은 상환급이 후급보다 많다.
ㄴ. 9월에 상품 운송비로 지급한 결제 수단의 금액은 예금 잔액 한도 내에서 결제된다.
ㄷ. 10월에 지급한 450,000원의 결제 수단은 금전 증권에 해당한다.
ㄹ. 10월에 상품 광고비로 지급한 결제 수단은 인수 제시 절차가 필요하다.

① ㄱ, ㄴ ② ㄱ, ㄷ ③ ㄴ, ㄷ
④ ㄴ, ㄹ ⑤ ㄷ, ㄹ

3. 다음은 A씨의 창업 과정이다. A씨의 상업 활동에 나타난 보조 상인에 대한 설명으로 옳은 것을 〈보기〉에서 고른 것은?

현재 상황		사업 계획		상업 활동
A씨는 영업 사원으로 근무한 경험을 살려 유통업 창업을 계획하고 있음.	⇨	고객이 판매를 의뢰한 ○○상품에 대해 시가 위탁 방식의 판매 대행을 제안함.	⇨	고객과 지가 위탁 방식으로 판매 대행 계약을 체결하고 ○○상품을 판매함.

〈보 기〉

ㄱ. 자기 명의로 거래를 한다.
ㄴ. 경업 금지 의무를 지닌다.
ㄷ. 고객이 지정한 가격을 준수한다.
ㄹ. ○○상품의 판매 차액을 수수료로 받는다.

① ㄱ, ㄴ ② ㄱ, ㄷ ③ ㄴ, ㄷ
④ ㄴ, ㄹ ⑤ ㄷ, ㄹ

[4~5] 다음은 ○○(주)의 경영 활동 보고서 일부이다. 물음에 답하시오.

경영 활동 보고서

[현재 상황]
기존 제품의 단점을 보완하고 사용하기 편리하게 개선한 기술을 관련 기관에 출원·등록하여 10년간의 독점적 권한을 부여받아 기존 제품보다 높은 판매 수익을 창출할 수 있을 것으로 기대함.

[판매 전략]
- 매장을 방문한 고객들에게 상품 팸플릿이나 안내 카탈로그를 발송하기로 결정함.
- 기존 상품보다 높은 가격 전략으로 판매 이익을 극대화하기로 함.
- 일정한 자격 요건을 갖춘 판매점에만 상품을 공급하기로 결정함.

4. 위 경영 활동 보고서의 [현재 상황]을 통해 알 수 있는 무형 재화로 옳은 것은?

① 상표권 ② 영업권 ③ 저작권
④ 디자인권 ⑤ 실용신안권

5. 위 경영 활동 보고서의 [판매 전략]에 대한 설명으로 적절한 것을 〈보기〉에서 고른 것은? [3점]

〈보 기〉

ㄱ. 박리다매 가격 전략을 도입한다.
ㄴ. 직접 광고(DM) 전략을 실시한다.
ㄷ. 선택적 유통 경로 정책을 도입한다.
ㄹ. 공중 관계(PR)를 통한 홍보 활동을 실시한다.

① ㄱ, ㄴ ② ㄱ, ㄷ ③ ㄴ, ㄷ
④ ㄴ, ㄹ ⑤ ㄷ, ㄹ

이 문제지에 관한 저작권은 한국교육과정평가원에 있습니다.

6. 다음은 ○○(주)의 경영 관리 활동과 관련된 회의 장면이다. 이 회의 내용에 따라 강화해야 할 경영 관리 부문으로 가장 적절한 것은?

① 생산 관리 ② 재무 관리 ③ 회계 관리
④ 마케팅 관리 ⑤ 인적 자원 관리

7. 다음은 A, B 기업의 수출 사례이다. (가), (나)에 해당하는 무역의 종류에 대한 설명으로 옳은 것을 〈보기〉에서 고른 것은? [3점]

(가) A 기업은 미국의 의류 업체와 수출 계약을 체결하고, 중국 업체가 생산한 의류를 수입하여 보세 구역에서 재포장한 후 수출하였다.
(나) B 기업은 해외 마케팅 능력이 부족하기 때문에 브랜드 인지도가 높은 미국 C 기업의 브랜드를 부착한 운동화 생산을 의뢰받아 생산된 운동화를 수출하였다.

〈보 기〉
ㄱ. (가)는 수출액과 수입액의 차액을 획득한다.
ㄴ. (나)는 관세 장벽을 회피하기 위한 무역이다.
ㄷ. (가)는 중계 무역, (나)는 OEM 무역에 해당한다.
ㄹ. (가)와 (나)는 제3자가 개입하는 간접 무역 형태이다.

① ㄱ, ㄴ ② ㄱ, ㄷ ③ ㄴ, ㄷ
④ ㄴ, ㄹ ⑤ ㄷ, ㄹ

8. 다음은 ○○(주)의 조직 개편 내용의 일부이다. 이에 나타난 개편할 조직 구조에 대한 설명으로 가장 적절한 것은?

• 현재 상황
급변하는 시장 환경에 빠르게 대응하기 위해 신속한 의사 결정의 필요성이 제기되고 있지만 현재의 조직 구조에서는 의사 결정 지연 등의 문제가 발생함.
• 조직 진단
- 기능식 조직 구조로 업무 중복에 따른 관리비가 많이 소요됨.
- 조직의 효율적인 통제가 어렵고, 문제 발생 시 조정이 곤란함.
• 개편 방안 및 기대 효과
- 기존 조직 구조를 금융 부문, 유통 부문, IT 부문으로 개편하고자 함.
- 각 부문별 독립채산제에 따른 업무의 효율성이 향상될 것으로 기대됨.

① 사업 부문별 책임 경영 체제로 운영된다.
② 특정 사업을 위한 일시적인 조직의 형태로 운영된다.
③ 라인 조직과 스텝 조직이 상호 연결된 형태로 운영된다.
④ 프로젝트 조직과 기능식 조직을 절충한 형태로 운영된다.
⑤ 다른 기업과 네트워크 방식으로 기업 간 조직을 연결하여 운영된다.

9. 다음은 ○○(주)의 해외 진출에 대한 내용이다. 이에 나타난 해외 진출 방식으로 가장 적절한 것은? [3점]

• 현재 상황
○○(주)는 현재 국내에서 A 브랜드로 100여 개의 한식 전문점을 운영 중이나 국내 시장의 경쟁 과다로 영업 수익이 감소하여 자금 운영에 어려움이 있다.
• 해외 진출 방식
한류 열풍이 확산되고 있는 동남아를 중심으로 현지 기업과 가맹점 계약을 체결하였다. 이를 통해 상호의 사용권, 관리 시스템 및 경영 방법을 이전한 대가인 사용료를 획득하여 영업 수익을 높일 수 있으며, A 브랜드의 인지도가 높아지므로 한식 전문점 매장 수를 확대할 수 있다.

① 국제 라이선싱 ② 국제 컨소시엄 ③ 경영 관리 계약
④ 해외 직접 투자 ⑤ 국제 프랜차이징

10. 그래프는 기준금리의 추이를 나타낸 것이다. (가)~(라) 기간별 기준금리 정책을 시행하게 된 원인이 될 수 있는 각 기간별 경제 상황으로 적절한 것만을 〈보기〉에서 있는 대로 고른 것은? (단, 기준금리와 통화량만 고려한다.) [3점]

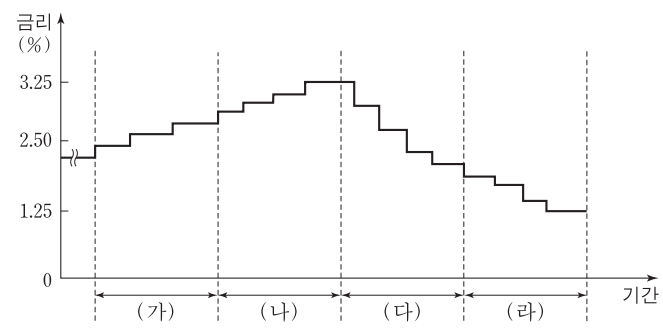

〈보 기〉
ㄱ. (가) 기간 내에서는 소비자 물가 상승률이 증가하고 있었을 것이다.
ㄴ. (다) 기간 내에서는 기업의 신규 투자가 위축되고 있었을 것이다.
ㄷ. (나) 기간 내에서는 경기 과열, (라) 기간 내에서는 경기 침체 현상이 나타나고 있었을 것이다.

① ㄱ ② ㄴ ③ ㄱ, ㄷ
④ ㄴ, ㄷ ⑤ ㄱ, ㄴ, ㄷ

11. 다음은 ○○(주)의 유통 정보 시스템을 도입하기 위한 의사 결정 과정이다. (가)에 해당하는 시스템으로 가장 적절한 것은?

현재 상황	수출 물량이 급격히 증가하고 있으나, 담당자가 팩스나 이메일을 통해 업무를 처리하고 있음.
⇩	
문제점	비표준화된 문서의 사용으로 인하여 업무 처리 속도가 느리고, 오류가 자주 발생하고 있음.
⇩	
대안 선택	(가) 을 도입함.
⇩	
도입 효과	전자 문서 표준화를 통해 업무 처리 속도 향상, 관련 비용 감소 및 서류 처리 오류를 방지할 수 있음.

① CVO 시스템 ② EDI 시스템 ③ EOS 시스템
④ POS 시스템 ⑤ RFID 시스템

이 문제지에 관한 저작권은 한국교육과정평가원에 있습니다.

[12~13] 다음은 A씨가 보유하고 있는 금융 상품 비중을 나타낸 것이다. 물음에 답하시오.

A씨는 증권회사와 은행을 통해 금융 상품을 거래하고 있으며, 금융 상품의 [변경 전]과 [변경 후] 보유 비중은 다음과 같다.

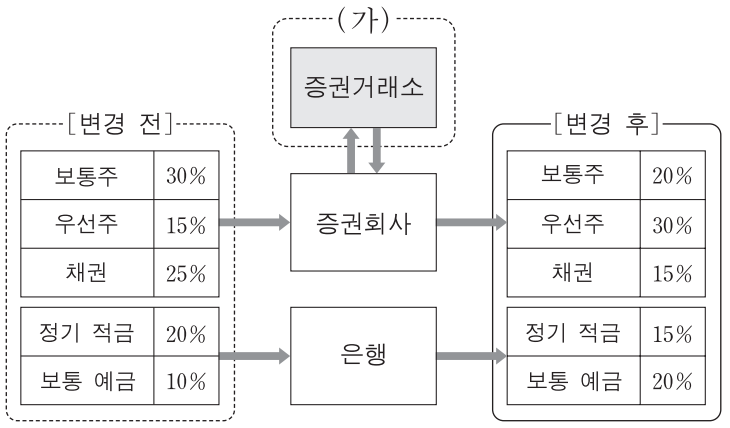

12. 위 자료의 (가)에서 이용하는 경쟁 매매 방식에 대한 설명으로 옳은 것을 〈보기〉에서 고른 것은?

〈보 기〉
ㄱ. 최고 가격을 신청한 자에게 낙찰된다.
ㄴ. 동시 경쟁을 통한 균형 가격으로 거래된다.
ㄷ. 경매와 동일한 방식으로 증권 거래가 이루어진다.
ㄹ. 다수의 판매자와 다수의 구매자 간에 이루어진다.

① ㄱ, ㄴ ② ㄱ, ㄷ ③ ㄴ, ㄷ
④ ㄴ, ㄹ ⑤ ㄷ, ㄹ

13. 위 자료에서 [변경 전] 대비 [변경 후]의 금융 상품 보유 비중에 대한 설명으로 옳은 것은? [3점]

① 의결권을 가진 금융 상품의 총비중이 높아졌다.
② 이자를 받을 수 있는 금융 상품의 총비중이 높아졌다.
③ 자본 증권에 해당하는 금융 상품의 총비중이 낮아졌다.
④ 요구불 예금에 해당하는 금융 상품의 총비중이 낮아졌다.
⑤ 예금자보호법이 적용되는 금융 상품의 총비중이 낮아졌다.

14. 다음은 환율 변동에 관한 뉴스이다. 이에 나타난 환율 변동 현상에 따른 우리나라 기업의 대책으로 적절한 것은? (단, 환율만 고려하며, 환전을 전제로 한다.) [3점]

올해 2분기 내국인 출국자는 1분기에 비해 6.3% 줄었지만, 우리나라 국민이 해외에서 지출하는 금액은 꾸준히 증가하고 있습니다. 이는 미 달러화 대비 원화가 강세를 보였기 때문인 것으로 분석되며, 이러한 현상은 당분간 지속될 것으로 예상됩니다.

① 미 달러화 표시 외채를 조기에 상환한다.
② 미국에 소재한 당사 건물의 매각 시기를 늦춘다.
③ 직원들의 미국 연수에 따른 비용을 조기에 집행한다.
④ 미 달러화 표시 예금을 즉시 인출하여 원화 예금에 입금한다.
⑤ 미국 현지에 신축 중인 공장 건설 대금 지급 시기를 앞당긴다.

15. 다음은 A국의 [6월 국제 수지]와 [7월 대외 거래]이다. [6월 국제 수지] 대비 7월 국제 수지에 대한 설명으로 옳은 것은? (단, 제시된 자료 외의 것은 고려하지 않는다.) [3점]

[6월 국제 수지]

(단위: 억 달러)

상품수지	서비스수지	본원소득수지	이전소득수지	금융계정	자본수지
17	−10	7	−5	14	−3

[7월 대외 거래]
- 국제기구 출연금 2억 달러 지급
- 상품 수출 대금 11억 달러 수취
- 지식재산권 사용료 5억 달러 지급
- 비금융 자산 취득 대금 2억 달러 지급
- 해외 항공 화물 운송비 3억 달러 수취
- 해외 투자에 대한 배당금 5억 달러 수취
- 외국인의 국내 증권 투자 4억 달러 수취, 내국인의 해외 증권 투자 7억 달러 지급

① 금융 계정의 경우 흑자폭이 확대되었다.
② 해외 이주비가 속하는 수지는 흑자로 전환되었다.
③ 해외여행 경비가 속하는 수지는 적자폭이 축소되었다.
④ 외국으로의 무상 원조가 속하는 수지는 흑자로 전환되었다.
⑤ 비거주자의 임금 송금이 속하는 수지는 적자로 전환되었다.

16. 다음은 전자 결제 시스템에 관한 내용이다. 이 시스템의 도입에 따라 나타날 수 있는 현상으로 적절한 것을 〈보기〉에서 고른 것은?

인터넷 통신 판매업자인 A씨는 그림과 같은 대금 결제 제도를 의무적으로 이용해야 한다는 사실을 알고 이 제도를 도입하여 온라인 쇼핑몰을 운영하고 있다.

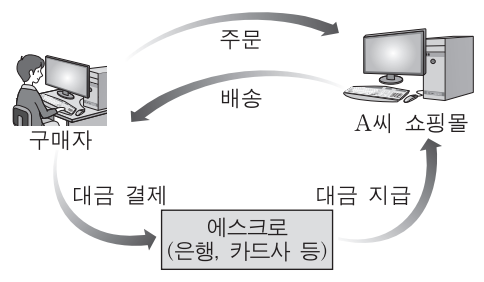

〈보 기〉
ㄱ. 구매자의 상품 인수 위험이 감소될 것이다.
ㄴ. 대금 결제 수단은 신용 카드로 단일화될 것이다.
ㄷ. 판매자와 구매자 간 거래 신뢰도가 높아질 것이다.
ㄹ. 구매 대금 결제 시 판매자에게 즉시 이체될 것이다.

① ㄱ, ㄴ ② ㄱ, ㄷ ③ ㄴ, ㄷ
④ ㄴ, ㄹ ⑤ ㄷ, ㄹ

이 문제지에 관한 저작권은 한국교육과정평가원에 있습니다.

17. 다음은 A기업의 수출 계약 내용과 업무 일정이다. 이를 바탕으로 수출 담당자가 수행할 업무로 옳은 것은? (단, 가격 조건은 인코텀즈 2010에 의한다.) [3점]

수출업자인 한국의 A기업은 수입업자인 미국의 B기업과 아래와 같은 계약 내용으로 수출 계약을 체결한 후, 해당 업무 일정을 수립하였다.

• 계약 내용

상품	품질 조건	가격 조건	대금 결제 조건
휴대폰	명세서	CIF New York	At Sight L/C

• 업무 일정

10월 11일	해상 운송 및 보험 계약 체결 협의
10월 20일	수출 화물 선적 완료 후 증권 수령
10월 25일	환어음 발행 후 거래 은행에 매입 요청
11월 2일	수출 대금 회수

① B기업에 해상 운송 계약 체결을 요청한다.
② 목적항 도착 후 상품의 수입 관세를 지급한다.
③ 선박 회사에 화물 인도지시서 발급을 요청한다.
④ B기업을 지급인으로 하는 기한부 환어음을 발행한다.
⑤ 본선수취증을 선박 회사에 제출 후 선화증권을 요청한다.

18. 다음은 경제 통합 [변경 전]과 [변경 후]를 나타낸 것이다. [변경 후] A~D국의 입장에서 나타날 수 있는 경제 현상으로 적절한 것을 〈보기〉에서 고른 것은? (단, 제시된 자료 외의 것은 고려하지 않는다.) [3점]

[변경 전]
• A국과 B국은 경제 협정이 체결되지 않았고, C국과 D국은 FTA 체결 및 발효됨.

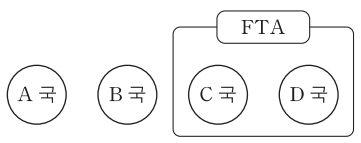

[변경 후]
• C국과 D국은 공동시장 체결 및 발효됨.
• B국은 C국, D국과 관세동맹 체결 및 발효됨.

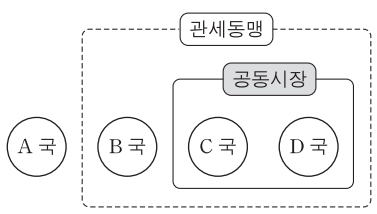

〈보 기〉

ㄱ. C국과 D국 간에는 단일 화폐를 사용하게 될 것이다.
ㄴ. C국과 D국 간에는 노동, 자본의 이동이 자유로워질 것이다.
ㄷ. B국은 C국, D국과 공동의 경제 정책을 수립하여 적용할 것이다.
ㄹ. C국과 D국은 A국에 대해 독자적 관세 부과에서 B국과 함께 공동 관세 부과로 변경할 것이다.

① ㄱ, ㄴ ② ㄱ, ㄷ ③ ㄴ, ㄷ
④ ㄴ, ㄹ ⑤ ㄷ, ㄹ

19. 다음은 사회 보험의 목적에 대한 내용이다. (가), (나)에 해당하는 보험에 대한 설명으로 옳은 것은?

(가) 실업의 예방 및 근로자 직업 능력의 개발과 향상을 꾀하고, 근로자가 실업한 경우 생활에 필요한 급여를 실시하여 생활 안정과 구직 활동을 촉진함으로써 경제·사회 발전에 이바지하는 것을 목적으로 한다.
(나) 국민의 노령, 장애 또는 사망에 대하여 연금 급여를 실시함으로써 국민의 생활 안정과 복지 증진에 이바지하는 것을 목적으로 한다.

① (가)는 저축성 기능을 가진 보험이다.
② (가)는 보험 가액에 따라 보험금이 결정된다.
③ (나)는 보험료를 사업주가 전액 부담한다.
④ (나)는 소득에 비례하여 보험료를 납부한다.
⑤ (가)는 국민연금보험, (나)는 국민건강보험이다.

20. 다음은 ○○학생이 작성한 기업 탐방 보고서 일부이다. 이에 나타난 A, B기업의 무역 대금 결제 방식의 이용 비중을 비교한 설명으로 옳은 것을 〈보기〉에서 고른 것은? (단, 제시된 자료 외의 것은 고려하지 않는다.) [3점]

기업 탐방 보고서

• 목적: 기업의 무역 대금 결제 방식별 이용 비중 조사
• 방법: 직접 방문
• 조사 결과

(단위: %)

대금 결제 방식	A기업	B기업
T/T	20	21
M/T	10	6
D/A	21	17
D/P	17	29
일람불 L/C	15	11
기한부 L/C	17	16
계	100	100

〈보 기〉

ㄱ. A기업은 송금환 방식 중 전신환을 이용하여 대금을 결제하는 방식의 비중이 낮다.
ㄴ. B기업은 추심환 방식 중 일람불 어음을 이용하여 대금을 결제하는 방식의 비중이 높다.
ㄷ. A기업은 B기업보다 어음 인수 후 만기에 대금을 결제하는 방식의 비중이 높다.
ㄹ. B기업은 A기업보다 발행 은행이 수입 대금 지급을 보증하는 방식의 비중이 높다.

① ㄱ, ㄴ ② ㄱ, ㄷ ③ ㄴ, ㄷ
④ ㄴ, ㄹ ⑤ ㄷ, ㄹ

* 확인 사항
○ 답안지의 해당란에 필요한 내용을 정확히 기입(표기)했는지 확인하시오.

이 문제지에 관한 저작권은 한국교육과정평가원에 있습니다.