제 4 교시

# 직업탐구 영역(회계원리)

| 성명 | | 수험 번호 | |
|---|---|---|---|

1. 그림은 회계의 순환 과정을 나타낸 것이다. (가), (나)에 해당하는 절차상의 용어로 옳은 것은?

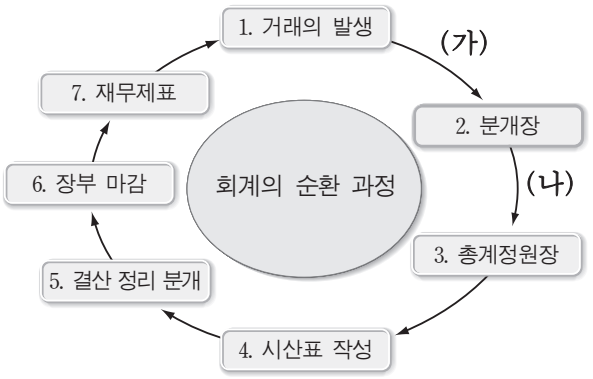


| | (가) | (나) |
|---|---|---|
| ① | 분개 | 이월 |
| ② | 분개 | 전기 |
| ③ | 이월 | 전기 |
| ④ | 전기 | 분개 |
| ⑤ | 전기 | 이월 |

2. 다음은 주식회사의 증자 형태를 구분한 것이다. (가)에 의해 납입된 자금을 회계 처리하였을 때 나타나는 결과로 옳은 것은?

| 증자 | | |
|---|---|---|
| | (가) | 신주를 발행하여 자금을 조달하는 방법으로 실질적 증자라고도 한다. |
| | 무상 증자 | 자본잉여금이나 이익잉여금을 자본금으로 대체하는 방법으로 형식적 증자라고도 한다. |

① 자산과 자본이 감소한다.
② 자산과 자본이 증가한다.
③ 자산과 자본은 변동이 없다.
④ 자산은 증가하나 자본은 변동이 없다.
⑤ 자산은 변동이 없으나 자본은 증가한다.

3. 다음은 (주)○○의 사내 체육대회와 관련한 업무일지의 일부이다. 이를 회계 처리한 결과가 손익계산서에 미치는 영향으로 옳은 것은? [3점]

업 무 일 지

작성자: 이철수

| | |
|---|---|
| 일 시 | 2011년 5월 20일<br>(09 : 00 ~ 17 : 00) |
| 내 용 | 1. 사내 체육대회 행사 실시<br>가. 행사비 내역<br>– 중 식 비: 800,000원<br>– 기념품 제작: 3,000,000원<br>– 시 상 비 용: 2,000,000원<br>총 액: 5,800,000원 |

① 매출원가가 감소한다.
② 당기순이익이 증가한다.
③ 매출총이익이 감소한다.
④ 영업외비용이 증가한다.
⑤ 판매비와관리비가 증가한다.

4. 그림은 (주)○○의 창고 임대료에 관한 대화 내용이다. 이를 회계 처리한 후 나타난 결과로 옳은 것을 〈보기〉에서 고른 것은?

〈보 기〉

ㄱ. 유동자산이 증가한다.
ㄴ. 비유동자산이 증가한다.
ㄷ. 영업외수익이 증가한다.
ㄹ. 판매비와관리비가 증가한다.

① ㄱ, ㄴ ② ㄱ, ㄷ ③ ㄴ, ㄷ
④ ㄴ, ㄹ ⑤ ㄷ, ㄹ

5. 다음은 ○○상점의 상품 관련 자료이다. 5월의 매출원가와 매출총이익을 계산한 금액으로 옳은 것은? (단, 제시된 자료 외에는 고려하지 않는다.) [3점]

매 입 장

| 월 | 일 | 적 요 | 금 액 |
|---|---|---|---|
| 5 | ⋮ | ⋮ | ⋮ |
| | 31 | 총 매 입 액 | 80,000 |
| | 〃 | 환출 및 에누리, 할인액 | 5,000 |
| | 〃 | 순 매 입 액 | 75,000 |

매 출 장

| 월 | 일 | 적 요 | 금 액 |
|---|---|---|---|
| 5 | ⋮ | ⋮ | ⋮ |
| | 31 | 총 매 출 액 | 120,000 |
| | 〃 | 환입 및 에누리, 할인액 | 10,000 |
| | 〃 | 순 매 출 액 | 110,000 |

[5월 상품 재고 내역]
○ 월초 상품 재고액 ₩15,000
○ 월말 상품 재고액 ₩20,000

| | 매출원가 | 매출총이익 |
|---|---|---|
| ① | ₩70,000 | ₩40,000 |
| ② | ₩70,000 | ₩45,000 |
| ③ | ₩75,000 | ₩50,000 |
| ④ | ₩80,000 | ₩40,000 |
| ⑤ | ₩80,000 | ₩45,000 |

6. 다음은 ○○기업의 사원이 제출한 출장비 정산서와 이에 따른 [분개]이다. (가), (나)의 계정과목으로 옳은 것은?

출장비 정산서

2011년 5월 16일

| 소 속 | 영업부 | 직 위 | 대리 | 성 명 | 홍길동 |
|---|---|---|---|---|---|
| 여비 개산액 | · 현금 300,000원 (5월 12일 수령) | | | | |
| 여비 정산 내역 | · 숙박비 70,000원<br>· 식 비 30,000원<br>· 교통비 160,000원<br>· 잔액은 현금 반환 (5월 16일 정산) | | | | |

[분개]

5월 12일 (차변) (가) 300,000 (대변) 현 금 300,000

5월 16일 (차변) 여비교통비 260,000 (대변) (나) 300,000

현 금 40,000

| | (가) | (나) |
|---|---|---|
| ① | 가수금 | 가수금 |
| ② | 가수금 | 가지급금 |
| ③ | 선급금 | 가수금 |
| ④ | 가지급금 | 선급금 |
| ⑤ | 가지급금 | 가지급금 |

7. 다음은 단기간 내의 매매차익을 목적으로 취득한 (주)○○ 주식의 주가 변동 추이와 [거래 내역]이다. 결산 후 단기매매증권의 장부금액으로 옳은 것은? (단, 취득한 주식은 매수와 매도가 적극적이고 빈번하게 이루어지며, 제시된 자료 외에는 고려하지 않는다.)

(주)○○ 주식의 주가 변동 추이

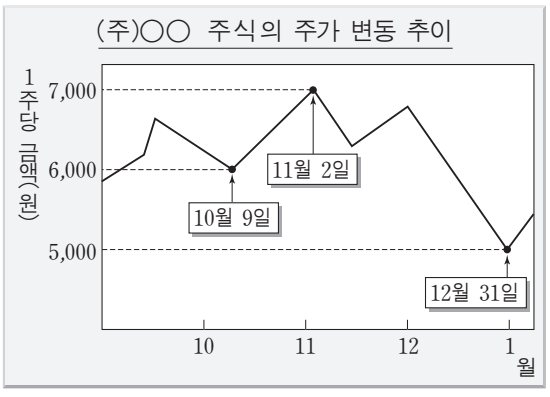


[거래 내역]

○ 10월 9일 주식 500주를 1주당 ₩6,000에 취득하다.

○ 11월 2일 주식 300주를 1주당 ₩7,000에 처분하다.

○ 12월 31일 결산 시 주식 1주당 공정가치를 ₩5,000으로 평가하다.

※ 개정 전 기업회계기준에서 장부금액은 장부가액으로, 공정가치는 공정가액으로 표현하였다.

① ₩900,000 ② ₩1,000,000 ③ ₩1,200,000
④ ₩1,400,000 ⑤ ₩1,500,000

8. 다음은 (주)○○의 결산일 현재 [총계정원장 계정 잔액]과 재무상태표의 일부이다. (가), (나)의 금액으로 옳은 것은? [3점]

[총계정원장 계정 잔액]

| | | | |
|---|---|---|---|
| 현 금 | ₩100,000 | 외상매출금 | ₩350,000 |
| 받을어음 | ₩150,000 | 외상매입금 | ₩200,000 |
| 지급어음 | ₩50,000 | | |

재무상태표

(주)○○ 2010년 12월 31일 현재 (단위: 원)

| | | | |
|---|---|---|---|
| 현금및현금성자산 | 100,000 | 매 입 채 무 | (나) |
| 매 출 채 권 | (가) | ⋮ | ⋮ |
| ⋮ | ⋮ | | |

| | (가) | (나) |
|---|---|---|
| ① | ₩350,000 | ₩200,000 |
| ② | ₩350,000 | ₩250,000 |
| ③ | ₩500,000 | ₩200,000 |
| ④ | ₩500,000 | ₩250,000 |
| ⑤ | ₩550,000 | ₩200,000 |

9. 다음 [거래]를 전표에 기표할 때 (가)에 들어갈 전표의 종류로 옳은 것은? [3점]

[거래]

5월 2일 ○○상점에 대한 외상매출금 ₩100,000 중 ₩50,000은 자기앞수표로 받고 잔액은 동점이 발행한 당좌수표로 받다.

( 가 )

NO. 29 2011년 5월 2일

| 계 | 과장 | 부장 |
|---|---|---|
| | | |

| 계정과목 | 외상매출금 | 거 래 처 | ○○상점 | | | | | |
|---|---|---|---|---|---|---|---|---|
| 적 요 | | | 금 액 | | | | | |
| 외상 대금 회수 | | | | 1 | 0 | 0 | 0 | 0 | 0 |
| | | | | | | | | |
| 합 계 | | | ₩ | 1 | 0 | 0 | 0 | 0 | 0 |

① 대체전표 ② 매입전표 ③ 매출전표
④ 입금전표 ⑤ 출금전표

10. 그림은 (주)○○의 손익 계산 단계의 일부이다. (가)에 해당하는 거래로 옳은 것은?

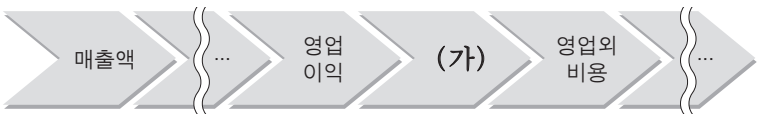


① 비품 ₩100,000을 무상으로 기증받다.
② 상품 ₩200,000을 외상으로 매출하다.
③ 전화요금 ₩30,000을 현금으로 납부하다.
④ 화재로 인하여 건물 ₩500,000이 소실되다.
⑤ 업무용 자동차세 ₩70,000을 현금으로 납부하다.

11. 그림은 상품 매입에 관한 대화 내용이다. 이를 회계 처리할 때 대변 계정과목으로 옳은 것은?

① 당좌예금 ② 받을어음 ③ 보통예금
④ 부도어음 ⑤ 지급어음

12. 다음 기사에 나타난 계정과목이 포함되는 자산의 분류 항목으로 옳은 것은? [3점]

**△△기업, 보안 관련 특허권 취득**

△△기업은 RFID 태그 분실에 대한 보안 방법과 관련된 특허권을 취득했다고 공시했다. 이 기술은 공동 주택 단지 등에서 사용하는 출입 카드를 분실했을 경우 그 카드가 범죄에 이용될 수 없도록 하는 기술이다.

– ○○신문, 2011년 4월 6일자 –

① 당좌자산 ② 무형자산 ③ 유형자산
④ 재고자산 ⑤ 투자자산

13. 다음은 (주)○○의 거래 내용과 이자수익 계정이다. (가)의 계정과목으로 옳은 것은?

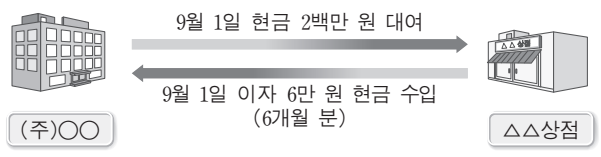


이 자 수 익

| | | | | | |
|---|---|---|---|---|---|
| 12/31 | (가) | 20,000 | 9/1 | 현 금 | 60,000 |
| 12/31 | 손 익 | 40,000 | | | |
| | | 60,000 | | | 60,000 |

① 현금 ② 선급이자 ③ 선수이자
④ 미수이자 ⑤ 미지급이자

14. 다음은 개인기업인 ○○상점의 수정 전 잔액시산표, 손익계정과 이월시산표의 일부이다. (가)의 금액으로 옳은 것은? [3점]

잔액시산표(수정 전)

○○상점 2010년 12월 31일 현재 (단위: 원)

| 차 변 | 원면 | 계 정 과 목 | 대 변 |
|---|---|---|---|
| 180,000 | 생략 | 현 금 | |
| 20,000 | | 외 상 매 출 금 | |
| 20,000 | | 이 월 상 품 | |
| | | 외 상 매 입 금 | 50,000 |
| | | 자 본 금 | 100,000 |
| | | 매 출 | 150,000 |
| 60,000 | | 매 입 | |
| 20,000 | | 보 험 료 | |
| 300,000 | | | 300,000 |

손 익

| | | | |
|---|---|---|---|
| 매 입 | 70,000 | 매 출 | 150,000 |
| ⋮ | | | |
| 자 본 금 | (가) | | |

이월시산표

○○상점 2010년 12월 31일 현재 (단위: 원)

| | | | |
|---|---|---|---|
| ⋮ | | ⋮ | |
| 이 월 상 품 | 10,000 | 자 본 금 | 160,000 |
| ⋮ | | | |

① ₩60,000 ② ₩70,000 ③ ₩80,000
④ ₩90,000 ⑤ ₩150,000

15. 다음은 [기계장치 관련 자료]이다. (가), (나)의 감가상각 방법과 관련된 설명으로 옳은 것을 〈보기〉에서 고른 것은? (단, 회계연도는 1월 1일부터 12월 31일까지이다.) [3점]

[기계장치 관련 자료]
○ 취 득 일: 2006년 1월 1일
○ 사용시점: 취득일부터
○ 취득원가: ₩100,000
○ 내용연수: 5년
○ 잔존가치: 없음
○ 정 률: 연 45%
○ 기장방법: 간접법

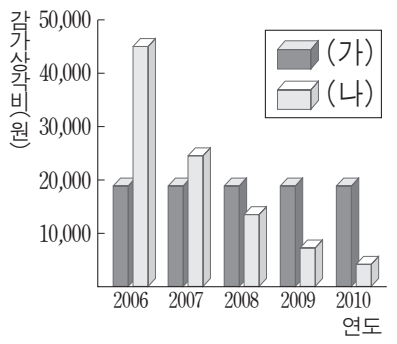


※ 개정 전 기업회계기준에서 잔존가치는 잔존가액으로, 장부금액은 장부가액으로 표현하였다.

〈보 기〉
ㄱ. (가)는 감가상각누계액이 점차 감소한다.
ㄴ. (가)는 매 회계연도의 감가상각비가 일정하다.
ㄷ. (나)는 감가상각누계액이 일정하게 증가한다.
ㄹ. (나)는 장부금액에 정률을 곱하여 감가상각비를 계산한다.

① ㄱ, ㄴ ② ㄱ, ㄷ ③ ㄴ, ㄷ
④ ㄴ, ㄹ ⑤ ㄷ, ㄹ

16. 다음 기사 내용과 관련된 손익계산서 항목과 계정과목으로 옳은 것은?

> **기업의 사회 공헌 활동 확대**
>
> △△기업은 총 20억 원 규모의 지역 사회 교육 지원 사업을 벌였고, 이웃 돕기 성금 70억 원과 생활 필수품 지원 10억 원 등 총 100억 원 규모의 사회 공헌 활동을 펼쳤다. 또한 이러한 활동을 일회성이 아닌 연중 행사로 진행하겠다고 밝혔다.
>
> — ○○신문, 2010년 11월 2일자 —

| | 손익계산서 항목 | 계정과목 |
|---|---|---|
| ① | 영업외비용 | 기부금 |
| ② | 영업외비용 | 접대비 |
| ③ | 영업외비용 | 광고선전비 |
| ④ | 판매비와관리비 | 기부금 |
| ⑤ | 판매비와관리비 | 접대비 |

17. 다음은 [결산 정리 사항]과 현금과부족 계정이다. 이를 회계처리하였을 때 (가)의 계정과목이 재무제표에 미치는 영향으로 옳은 것은?

> [결산 정리 사항]
>
> 12월 31일 현금과부족 계정 잔액은 원인을 알 수 없다.

현금과부족

| | | | | | |
|---|---|---|---|---|---|
| 10/1 | 현 금 | 20,000 | 10/14 | 통 신 비 | 12,000 |
| | | | 12/31 | (가) | 8,000 |
| | | 20,000 | | | 20,000 |

① 당좌자산이 증가한다.
② 유동부채가 증가한다.
③ 영업이익이 감소한다.
④ 매출총이익이 감소한다.
⑤ 영업외비용이 증가한다.

18. 다음은 개인기업인 ○○상점의 재무상태와 경영성과에 관한 내용이다. (가), (나)의 금액으로 옳은 것은? (단, 제시된 자료 외에는 고려하지 않는다.) [3점]

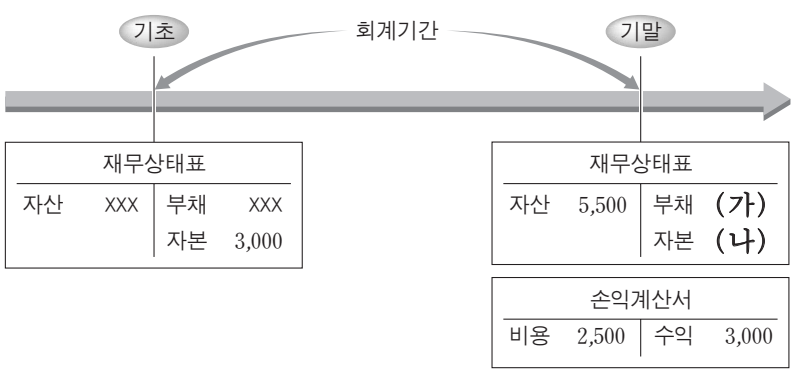


| | (가) | (나) |
|---|---|---|
| ① | ₩1,000 | ₩4,500 |
| ② | ₩1,500 | ₩4,000 |
| ③ | ₩2,000 | ₩3,500 |
| ④ | ₩2,500 | ₩3,000 |
| ⑤ | ₩3,000 | ₩2,500 |

19. 다음은 거래의 종류를 분류한 것이다. (가)에 해당하는 거래로 옳은 것은? [3점]

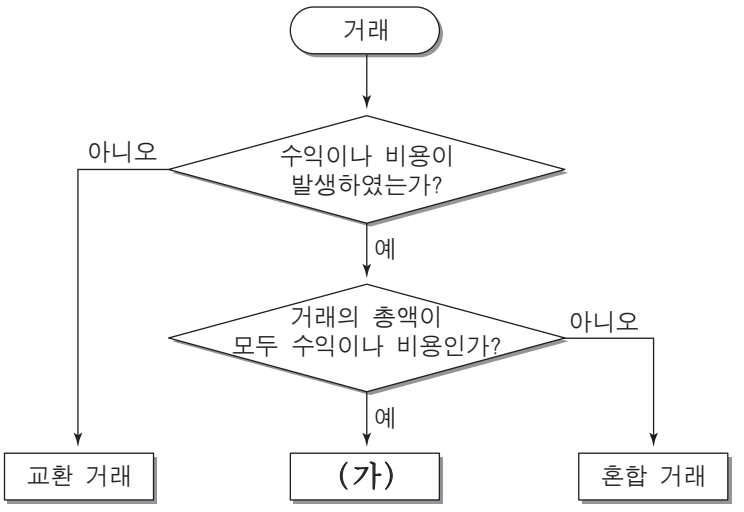


① 현금 ₩50,000을 당좌예입하다.
② 현금 ₩800,000을 출자하여 영업을 개시하다.
③ 수도요금과 전기요금 ₩20,000을 현금으로 납부하다.
④ 외상매입금 ₩80,000을 당좌수표를 발행하여 지급하다.
⑤ 비품 ₩300,000을 구입하고 대금은 월말에 지급하기로 하다.

20. 다음은 (주)○○의 [사채 관련 자료]이다. 사채와 관련된 항목과 금액의 변화를 나타낸 그래프로 옳은 것만을 〈보기〉에서 있는 대로 고른 것은? [3점]

> [사채 관련 자료]
>
> ○ 사 채 발 행 일: 2006년 1월 1일
> ○ 사 채 만 기 일: 2010년 12월 31일
> ○ 액 면 금 액: ₩1,000,000
> ○ 이 자 율: 액면이자율 연 10%, 유효이자율 연 12%
> ○ 상각(환입)방법: 유효이자율법
> ○ 이 자 지 급 일: 12월 31일(연 1회)
> ○ 상 환 방 법: 만기일 일시 상환

〈보 기〉

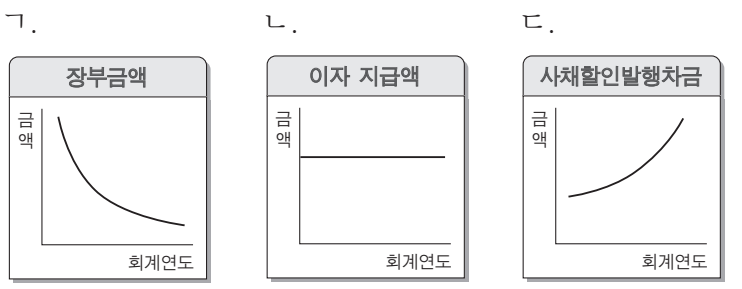


※ 개정 전 기업회계기준에서 장부금액은 장부가액으로, 액면금액은 액면가액으로 표현하였다.

① ㄱ ② ㄴ ③ ㄱ, ㄷ
④ ㄴ, ㄷ ⑤ ㄱ, ㄴ, ㄷ

> ＊ 확인 사항
>
> ○ 답안지의 해당란에 필요한 내용을 정확히 기입(표기)했는지 확인하시오.