제 4 교시

사회탐구 영역 (경제)

성명		수험번호						3				

- 자신이 선택한 과목의 문제지인지 확인하시오.
- 문제지에 성명과 수험번호를 정확히 써 넣으시오.
- 답안지에 성명과 수험번호를 써 넣고, 또 수험번호와 답을 정확히 표시하시오.
- 과목을 선택한 순서대로 풀고, 답은 답안지의 '제1선택'란에서부터 차례대로 표시하시오.
- 문항에 따라 배점이 다르니, 각 물음의 끝에 표시된 배점을 참고하시오. 3점 문항에만 점수가 표시되어 있습니다. 점수 표시가 없는 문항은 모두 2점입니다.

1. 그림은 경제 문제 해결 방식에 따라 경제 체제를 구분한 것이다. 이에 대한 옳은 설명을 <보기>에서 고른 것은?

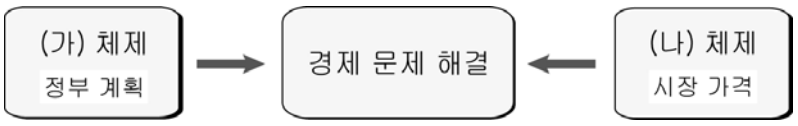

<보 기>

ㄱ. (가)에서 경제 활동의 동기는 공동 목표를 추구하는 것이다.
ㄴ. (나)는 민간 부문의 자율성을 최대한 보장한다.
ㄷ. (나)는 모든 재화를 원하는 수준까지 생산할 수 있다.
ㄹ. (가)는 (나)에 비해 자원이 효율적으로 배분된다.

① ㄱ, ㄴ ② ㄱ, ㄷ ③ ㄴ, ㄷ ④ ㄴ, ㄹ ⑤ ㄷ, ㄹ

2. 그래프는 정부의 가격 통제 정책이 실시되고 있는 어떤 시장에서 수요와 공급의 변동을 나타낸 것이다. 이에 대한 분석으로 옳은 것은?

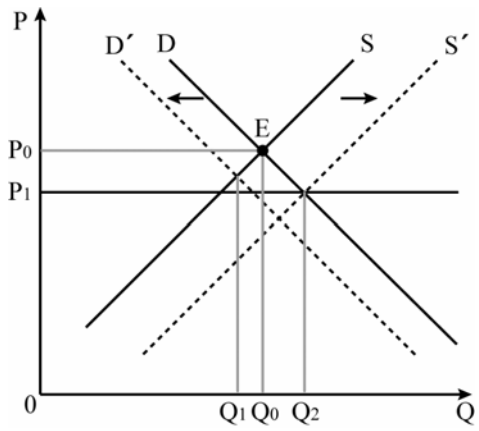

① 수요와 공급의 변동 후 시장의 균형 거래량은 Q_2이다.
② 수요와 공급의 변동 후 가격 통제의 실효성은 없어진다.
③ 수요와 공급의 변동 후 P_1에서는 초과 수요가 발생한다.
④ 정부의 가격 통제가 없어지면 시장 가격은 P_0보다 상승한다.
⑤ 수요와 공급의 변동 후 P_1보다 높은 가격으로 거래되는 암시장이 형성된다.

3. 그림은 어느 가계의 소득별 구성비 변화이다. 이에 대한 분석으로 옳지 않은 것은? [3점]

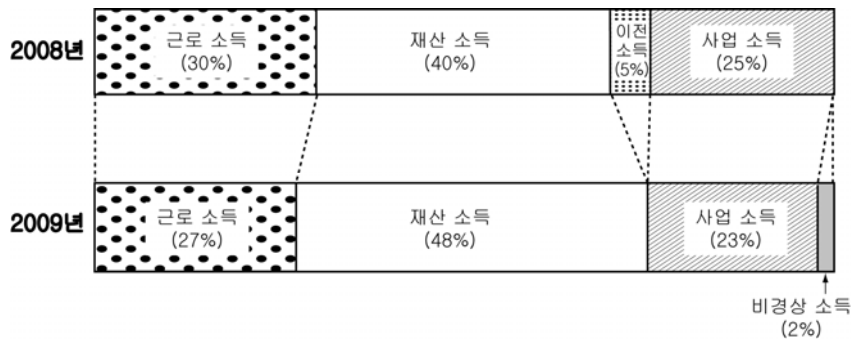

① 무상으로 얻은 소득은 없어졌다.
② 일시적으로 얻은 소득은 추가되었다.
③ 가계 구성원들의 경상 소득액은 감소하였다.
④ 생산 요소를 제공하고 얻은 소득 비중은 증가하였다.
⑤ 자본이나 토지 등을 활용하여 얻은 소득 비중은 증가하였다.

4. 그래프는 각 재화의 특성에 따른 수요 곡선이다. 이에 대한 타당한 분석만을 <보기>에서 있는 대로 고른 것은? [3점]

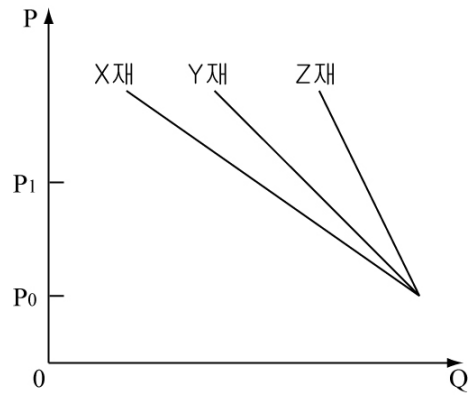

* Y재 수요의 가격 탄력성은 1이다.

<보 기>

ㄱ. 가격 인상($P_0 \rightarrow P_1$)과 가격 인하($P_1 \rightarrow P_0$)에 따른 가격 변동률은 동일하지 않다.
ㄴ. 수요량의 변동률이 동일할 때 X재의 가격 변동률이 가장 작다.
ㄷ. Y재는 가격이 2% 변동할 때 기업의 총 판매 수입은 2% 변동한다.
ㄹ. Z재는 가격이 1% 상승하면 판매 수입은 증가하지만 판매 수입 증가분은 1% 미만이다.

① ㄱ, ㄴ ② ㄱ, ㄷ ③ ㄷ, ㄹ
④ ㄱ, ㄴ, ㄹ ⑤ ㄴ, ㄷ, ㄹ

5. 자료에 대한 분석으로 타당한 것은?

<Y재 가격이 2만 원일 때 X재의 수요량과 공급량>

X재 가격 \ 수량(개)	수요량	공급량
1만 원	60	20
2만 원	50	30
3만 원	40	40
4만 원	30	50

<Y재 가격이 3만 원일 때 X재의 수요량과 공급량>

X재 가격 \ 수량(개)	수요량	공급량
1만 원	80	20
2만 원	70	30
3만 원	60	40
4만 원	50	50

① X재와 Y재는 대체재 관계에 있다.
② X재는 열등재, Y재는 정상재이다.
③ X재와 Y재는 자동차와 휘발유 같은 관계이다.
④ Y재 가격이 인상되면 X재의 수요는 감소한다.
⑤ Y재 가격이 인상되면 X재의 균형 거래량은 감소한다.

6. 다음 정책을 시행하는 이유를 <보기>에서 고른 것은?

○ 담배 꽁초 무단 투기에 대한 과태료 인상
○ 공원, 어린이 놀이터, 버스 정류장 금연 구역 지정

<보 기>
ㄱ. 부정적 외부 효과를 개선하기 위해
ㄴ. 사회 전체의 후생 수준을 높이기 위해
ㄷ. 사회적 비용보다 사적 비용이 크기 때문에
ㄹ. 사회적 편익보다 개인적 편익을 높이기 위해

① ㄱ, ㄴ ② ㄱ, ㄷ ③ ㄴ, ㄷ ④ ㄴ, ㄹ ⑤ ㄷ, ㄹ

7. 다음 제도의 시행에 따라 예상되는 내용으로 가장 거리가 먼 것은?

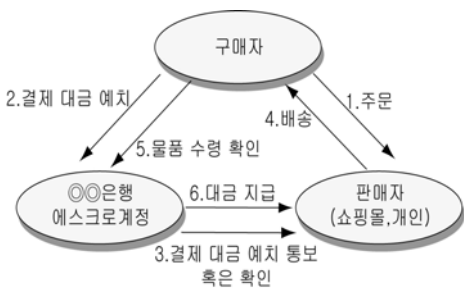

< 에스크로제도의 흐름 >

에스크로(escrow)제도란 구매자의 결제 대금을 제 3자에게 예치하고 있다가 배송이 정상적으로 완료된 후 판매자에게 지급하는 거래 안전 장치이다. 하지만 신용카드 구매나 10만 원 미만(1회 결제하는 금액 기준)의 소액 거래는 제외된다.

① 이 제도는 정보 통신의 발달로 더 활성화될 것이다.
② 판매자 권한의 확대로 구매자의 불편이 증가할 것이다.
③ 구매자와 판매자 간 자금 거래의 투명성이 제고될 것이다.
④ 10만 원 미만의 소액 구매자 보호를 위한 대책이 필요할 것이다.
⑤ 이와 같은 대금 결제 방식의 변화로 구매자의 피해가 감소할 것이다.

8. 그래프는 소득과 세율의 관계를 나타낸 것이다. 이에 대한 추론으로 타당한 것은? (단, 1,000만 원 미만의 소득은 과세대상에서 제외한다.) [3점]

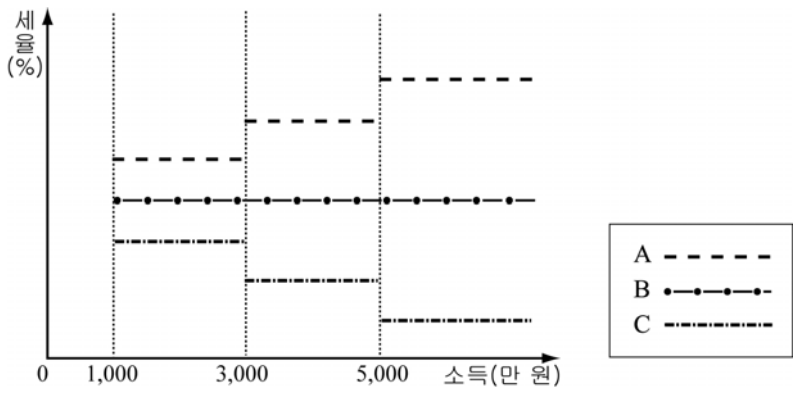

① B는 소득 증가와 관계없이 세액은 일정할 것이다.
② C는 동일 세율 적용 구간에서 소득이 증가할수록 세액도 증가할 것이다.
③ B는 A보다 정부의 재정 수입을 증가시킬 것이다.
④ A ~ C 중 소득이 2,000만 원인 사람의 가처분 소득이 가장 큰 것은 A일 것이다.
⑤ 소득이 2,000만 원에서 4,000만 원으로 증가하였을 때 세액 증가분은 A > C > B일 것이다.

9. 그래프는 공급자에게 상품 1개당 30원의 세금을 부과한 경우 균형점의 이동을 나타낸 것이다. 이에 대한 옳은 분석만을 <보기>에서 있는 대로 고른 것은? [3점]

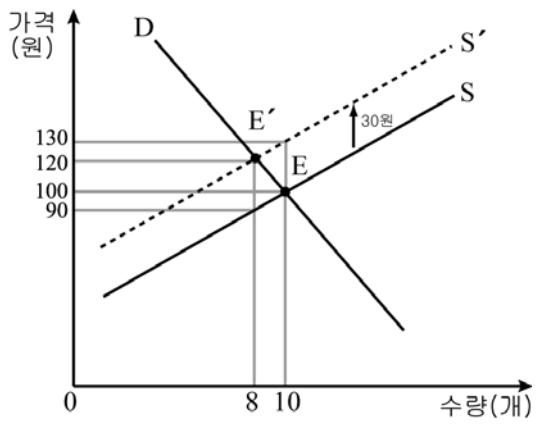

<보 기>
ㄱ. 세금 부과로 공급자의 총 판매액은 감소한다.
ㄴ. 시장 가격은 100원에서 130원으로 상승하게 된다.
ㄷ. 세금 납부 후 상품 1개당 공급자의 판매 수입은 90원이다.
ㄹ. 소비자는 세금 부과 전보다 상품 1개당 20원을 더 부담하게 된다.

① ㄱ, ㄴ ② ㄱ, ㄹ ③ ㄴ, ㄷ
④ ㄱ, ㄷ, ㄹ ⑤ ㄴ, ㄷ, ㄹ

10. 다음 변동 내용에 따른 결과로 옳은 것만을 <보기>에서 있는 대로 고른 것은? (단, 다른 조건은 일정하다.)

현재 상황	민간 소비 + 민간 투자 + 정부 지출 + 순수출 = GDP
⬇	
변동 내용	○ 일본산(産) 자동차의 국내 수입 증가 ○ 정부의 노후차(老朽車) 교체 지원 정책 실시

<보 기>

ㄱ. 총수요는 증가하고 총공급은 감소한다.
ㄴ. 물가 변동의 방향은 정확히 알 수 없다.
ㄷ. 새로운 균형점으로의 이동 결과 국민 소득이 증가한다.

① ㄱ ② ㄴ ③ ㄱ, ㄷ
④ ㄴ, ㄷ ⑤ ㄱ, ㄴ, ㄷ

11. 그림은 배제성과 경합성에 따라 재화의 종류를 구분한 것이다. 이에 대한 옳은 설명을 <보기>에서 고른 것은?

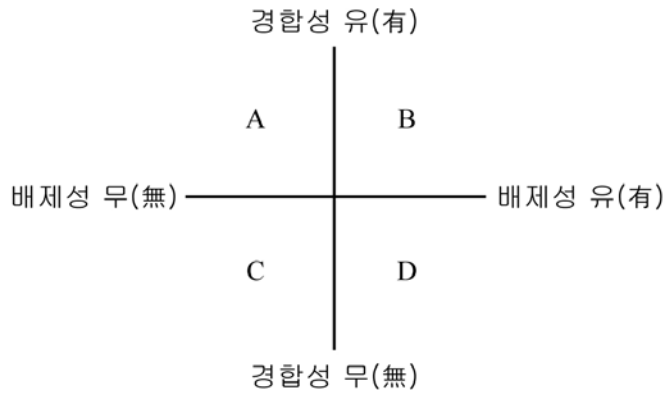

<보 기>

ㄱ. A는 다수를 위해 재화의 소비에 일정한 제약이 따르기도 한다.
ㄴ. B는 재화가 갖는 특성 때문에 기업이 생산을 기피한다.
ㄷ. C는 대가를 지불하지 않은 사람들의 재화 소비를 막을 수 없다.
ㄹ. D는 많은 사람이 사용할수록 재화의 편익은 줄어든다.

① ㄱ, ㄴ ② ㄱ, ㄷ ③ ㄴ, ㄷ ④ ㄴ, ㄹ ⑤ ㄷ, ㄹ

12. 다음 기업에 대한 옳은 설명을 <보기>에서 고른 것은?

사회적 기업이란 취약 계층에게 사회 서비스 또는 일자리를 제공하여 지역 주민의 삶의 질을 높이는 등의 사회적 목적을 추구하기 위해 재화 및 서비스의 생산·판매 등의 활동을 수행하는 기업을 말한다.

<보 기>

ㄱ. 비영리 조직을 지칭하는 다른 말이다.
ㄴ. 생산 활동의 주체라는 기업의 정의에 맞지 않는다.
ㄷ. 판매를 위한 고용보다 고용을 위한 판매에 더 가치를 둔다.
ㄹ. 기업이 창출한 이윤을 사회에 환원함으로써 기업의 사회적 책임을 수행한다.

① ㄱ, ㄴ ② ㄱ, ㄷ ③ ㄴ, ㄷ ④ ㄴ, ㄹ ⑤ ㄷ, ㄹ

13. 표는 ○○시장에서 갑, 을 두 공급자가 생산 선택 전략에 따라 얻을 수 있는 이윤을 나타낸 것이다. 이에 대한 타당한 분석 및 추론을 <보기>에서 고른 것은? [3점]

구 분		갑의 생산량	
		300만 개	200만 개
을의 생산량	600만 개	200억 원 / 200억 원	50억 원 / 500억 원
	500만 개	500억 원 / 50억 원	400억 원 / 400억 원

* ○○시장에는 갑, 을 두 공급자만 존재한다.

<보 기>

ㄱ. 갑의 생산량이 많아야 을이 유리하다.
ㄴ. 을의 전략을 모를 경우 갑은 적은 생산량을 선택할 것이다.
ㄷ. 갑과 을이 상호 신뢰할 수 없다면 갑, 을 모두 많은 생산량을 선택할 것이다.
ㄹ. 갑과 을 사이에 담합이 이루어진다면 갑, 을 모두 적은 생산량을 선택할 것이다.

① ㄱ, ㄴ ② ㄱ, ㄷ ③ ㄴ, ㄷ ④ ㄴ, ㄹ ⑤ ㄷ, ㄹ

14. 표는 어느 나라의 연도별 경제 성장률을 나타낸 것이다. 이에 대한 분석으로 타당한 것은? [3점]

구분	2004년	2005년	2006년	2007년	2008년
명목 경제 성장률(%)	14.8	15.1	11.4	11.2	14.2
실질 경제 성장률(%)	9.5	9.1	6.8	6.5	6.2

① 실질 GDP 규모는 매년 감소하였다.
② 2005년의 명목 GDP 규모가 가장 크다.
③ 2008년의 물가가 가장 큰 폭으로 상승하였다.
④ 실질 국민 소득은 매년 10% 이상 증가하였다.
⑤ 경상 가격으로 계산한 GDP 증가율은 2008년이 가장 낮다.

15. 표는 갑국의 세출 현황을 나타낸 것이다. 이에 대한 분석으로 옳은 것은? [3점]

(단위 : 십억 원, %)

구분	2000년		2007년		2008년	
	액수	구성비	액수	구성비	액수	구성비
교육비	12,704	14.5	30,486	19.5	35,815	19.9
경제 개발비	23,879	27.3	29,734	19.0	32,586	18.1
일반 행정비	8,164	9.3	16,382	10.5	18,114	10.1
지방 재정 교부금	8,267	9.5	24,513	15.7	28,957	16.1
세출 총계	87,465	100	156,518	100	179,554	100

① GDP 대비 세출 총액의 비중은 증가하고 있다.
② 교육비, 일반 행정비의 구성비는 계속 증가하였다.
③ 복지 증진을 위해 지출되는 세출 비중은 꾸준히 감소하였다.
④ 2000년에 비해 2008년의 세출 총액은 200% 이상 증가하였다.
⑤ 2007년에 비해 2008년의 세출에서 증가액이 가장 큰 항목은 교육비이다.

16. 그림은 국민 경제의 순환을 나타낸 것이다. 이에 대한 설명으로 옳지 않은 것은?

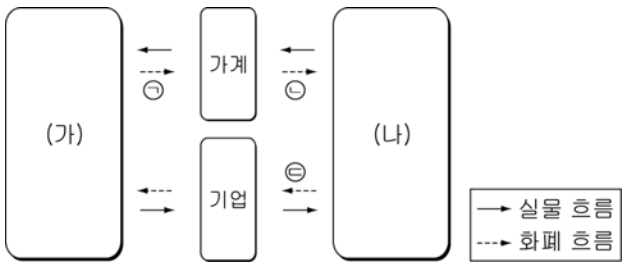

① ㉠에서 임금, 이자는 가계의 경상 소득이다.
② ㉡의 증가는 경제 성장을 의미한다.
③ ㉢은 GDP로 총공급에 포함된다.
④ 국민 소득은 ㉠, ㉡, ㉢의 측면에서 파악할 수 있다.
⑤ 경제 주체가 (가), (나)에서 수요를 늘리면 물가는 하락한다.

17. 자료에 대한 분석 및 추론으로 타당한 것은? [3점]

<로렌츠 곡선>

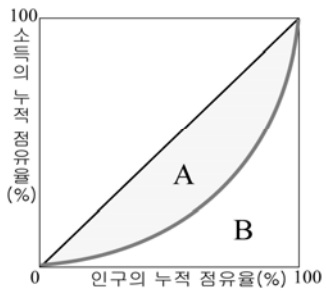

<각 국의 지니 계수>

① 무국의 평균 국민 소득 수준이 가장 낮을 것이다.
② 정국의 하위 20% 소득 누적 점유율은 을국보다 낮다.
③ 위 국가들 중에서 불평등 면적이 가장 작은 국가는 갑국이다.
④ 정국이 소비에 대한 비례세율을 인상하면 B의 면적은 증가할 것이다.
⑤ 병국의 로렌츠 곡선은 갑국의 로렌츠 곡선보다 완전 평등선에 더 가깝다.

18. 교사의 질문에 대한 옳은 발표만을 <보기>에서 있는 대로 고른 것은?

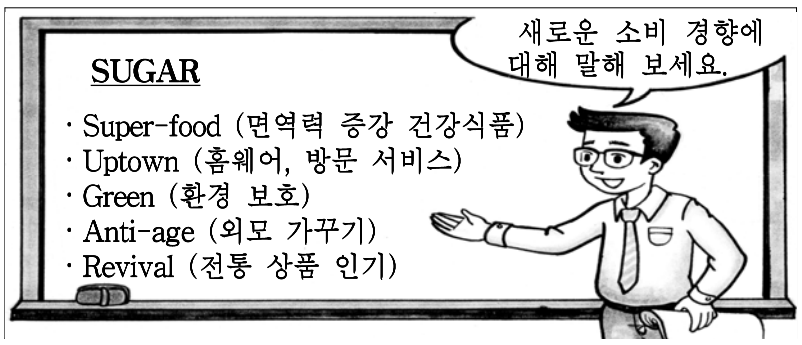

<보 기>

ㄱ. 시간의 경제적 가치도 소비의 준거로 고려합니다.
ㄴ. 바람직한 소비가 합리적 소비를 대체하게 됩니다.
ㄷ. 삶의 질적 측면을 중시하는 소비로 변화하고 있습니다.
ㄹ. 사회적 요인과 환경적 요인을 고려한 소비를 추구합니다.

① ㄱ, ㄴ ② ㄱ, ㄹ ③ ㄴ, ㄷ
④ ㄱ, ㄷ, ㄹ ⑤ ㄴ, ㄷ, ㄹ

19. 그래프는 갑, 을 두 국가가 가지고 있는 생산 요소를 활용하여 최대로 생산할 수 있는 X재와 Y재의 조합을 나타낸 곡선이다. 이에 대한 분석으로 타당한 것은? [3점]

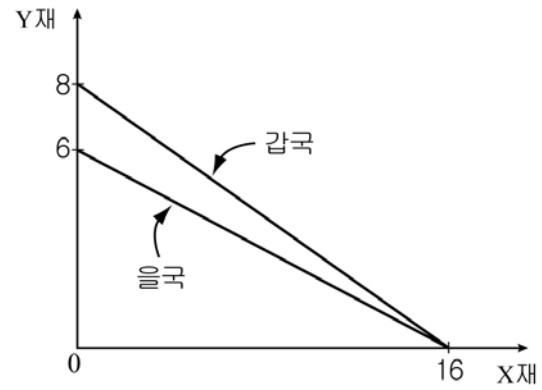

① 갑국은 현재의 기술로 X재 4단위와 Y재 3단위를 동시에 생산하기는 불가능하다.
② 갑국이 Y재 생산에 새로운 자원을 투입한다면 X재 1단위 기회 비용은 Y재 1/2단위보다 커질 것이다.
③ X재 1단위 추가 생산에 따른 기회 비용은 갑국보다 을국이 크다.
④ 을국의 X재 1단위 기회 비용이 Y재 1/2단위가 되었다면, 실업이 발생하였기 때문일 것이다.
⑤ 갑국과 을국이 소비 증가에 따라 Y재 생산량을 늘리는 것은 경제 성장을 의미한다.

20. 자료에 대한 분석으로 옳은 것은? (단, 갑과 을 두 국가만 있다고 가정한다.) [3점]

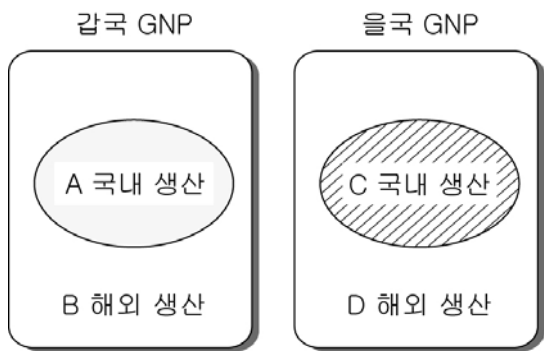

① 갑국의 전반적인 경제 활동 수준을 파악하기에는 A+B가 A+D보다 유용하다.
② 갑국의 경제 성장률이 2%에서 0.5%로 감소하면 A+D의 규모는 감소한다.
③ 을국에서 모든 재화와 용역의 생산량이 기준 연도와 같아도 물가가 상승하면 을국의 실질 GDP는 증가한다.
④ B와 D의 규모가 같다면 갑국의 GNP는 GDP보다 크다.
⑤ 갑국의 A+B와 A+D의 규모가 같다면 을국의 해외 순수취 요소 소득은 0이다.

* 확인 사항
○ 답안지의 해당란에 필요한 내용을 정확히 기입(표기)했는지 확인하시오.