2010학년도 4월 고3 전국연합학력평가 문제지

사회탐구 영역 (정치)

제 4 교시 | 성명 | | 수험번호 | | | | | | 3 | | | | |

- 자신이 선택한 과목의 문제지인지 확인하시오.
- 문제지의 해당란에 성명과 수험 번호를 정확히 기입하시오.
- 답안지의 해당란에 성명과 수험 번호를 쓰고, 또 수험 번호와 답을 정확히 표시하시오.
- 선택한 과목 순서대로 문제를 풀고, 답은 답안지의 '제1선택'란부터 차례대로 표시하시오.
- 문항에 따라 배점이 다르니, 각 물음의 끝에 표시된 배점을 참고하시오. 3점 문항에만 점수가 표시되어 있습니다. 점수 표시가 없는 문항은 모두 2점씩입니다.

1. 그림은 사회 계약론자를 구분하기 위한 모형이다. 갑 ~ 병에 대한 설명으로 옳은 것은? (단, 갑 ~ 병은 홉스, 로크, 루소 중 한 사람이다.) [3점]

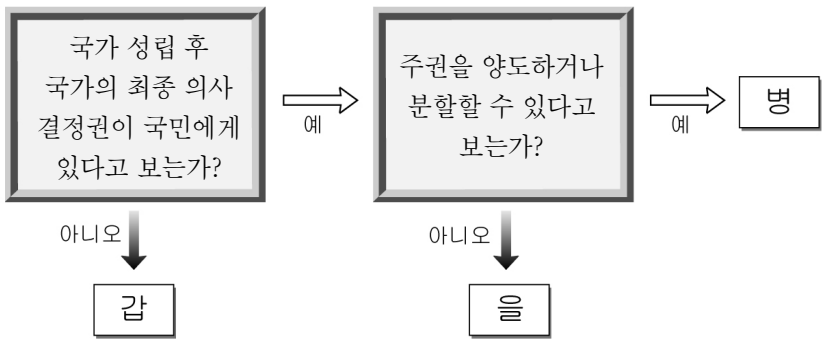

① 갑은 왕권 신수설에 기초한 군주 주권론을 주장하였다.
② 을은 이상적인 정치 형태로 입헌 군주정을 제시하였다.
③ 을은 자연 상태를 경쟁에 의한 대립과 갈등으로 보았다.
④ 병은 입법권과 집행권으로의 2권 분립론을 주장하였다.
⑤ 갑, 을, 병 모두 정치 권력에 대한 저항권을 인정하였다.

2. 다음에서 강조하는 자유에 대한 옳은 설명을 <보기>에서 고른 것은?

> 우리는 흔히 자유를 '하고 싶은 것을 할 수 있는 것'이라고 생각한다. 이를 위해서는 일단 외부의 억압과 통제가 없어야 한다. 하지만 그것만으로는 충분하지 않다. 가난한 독거 노인이 따뜻한 방에서 배부르게 식사하는 것을 아무도 막고 있지는 않지만, 실상 그에게는 춥고 배고플 자유는 있을지언정 따뜻하고 배부를 자유는 없다. 진정한 자유를 위해서는 이들이 적어도 최소한의 인간다운 생활을 할 수 있는 능력을 가질 수 있게 해 주어야 한다.

〈보 기〉
ㄱ. 차티스트 운동을 통해 기본권으로 확립되었다.
ㄴ. 국가의 적극적 개입을 통해 더 잘 보장될 수 있다.
ㄷ. 국가 권력으로부터 간섭을 받지 않는다는 의미이다.
ㄹ. 바이마르 공화국 헌법에서 최초로 기본권으로 명시되었다.

① ㄱ, ㄴ ② ㄱ, ㄷ ③ ㄴ, ㄷ
④ ㄴ, ㄹ ⑤ ㄷ, ㄹ

3. 다음 기사의 법 개정을 통해 기대되는 효과를 민주 정치의 원리에 비추어 적절하게 설명한 것을 <보기>에서 고른 것은? [3점]

> 제 OO 호 **OO 신문** 2009년 O월 O일
>
> **재외국민 투표 허용 법안 통과**
>
> 재외국민도 투표할 수 있도록 하는 공직선거법과 국민투표법 개정안이 국회 본회의를 통과했다. 이에 따라 240만 명에 달하는 재외국민은 앞으로 대통령 선거와 국회 의원 선거 비례 대표 투표권을 행사할 수 있게 됐다.
>
> 개정안은 19세 이상 대한민국 국적을 가진 영주권자 전원에게 투표권을 부여하고, 국내에 주민 등록이 있는 일시 체류자의 경우 지역구 국회의원 선거에도 부재자 투표에 준해 참여할 수 있도록 하였다.
>
> ***기자

〈보 기〉
ㄱ. 대표성을 높임으로써 대의제의 원리를 강화할 수 있다.
ㄴ. 평등 선거의 원칙과 입헌주의의 원리를 강화할 수 있다.
ㄷ. 보통 선거의 원칙과 국민 주권의 원리를 강화할 수 있다.
ㄹ. 행정부의 권력 남용을 막고 권력 분립의 원리를 강화할 수 있다.

① ㄱ, ㄴ ② ㄱ, ㄷ ③ ㄴ, ㄷ
④ ㄴ, ㄹ ⑤ ㄷ, ㄹ

4. 다음에서 알 수 있는 고대 아테네 민주 정치에 대한 내용으로 적절한 것은? [3점]

> 사람들은 보통 아테네 민주주의를 민주 정치의 전형으로 생각하지만 실상은 달랐다. 우선 전체 인구의 약 10%인 4만 여명의 성인 남자에게만 민회에 참여할 자격이 주어졌고, 그 중에서도 대부분은 생업에 종사해야 했기 때문에 최대 6천 명 정도만이 민회에 참여한 것으로 보인다. 민회는 자주 열리지 않았을 뿐만 아니라 회의 과정에서 안건에 대한 자세한 논의를 할 수도 없었다. 또한 의사 결정도 대충 손을 들어 했기 때문에 정확한 숫자를 세기도 어려웠다. 500인 회의도 반드시 추첨에 의해 선출된 것 같지는 않으며, 500인 회의에 뽑히려고 서로 싸웠다는 이야기가 전해지고 있는 것으로 보아 뇌물이나 다른 영향력이 작용했을 가능성이 매우 높다.

① 대의제를 중심으로 한 민주 정치 체제였다.
② 충분한 대화와 토론 없이 다수결의 원리를 적용하였다.
③ 대표자 선출에 있어 보통 선거의 원칙이 지켜지고 있었다.
④ 모든 시민에게 실질적으로 동등한 공직 진출의 기회가 주어졌다.
⑤ 대부분의 시민은 생산 활동에 대한 부담 없이 민회에 참가하였다.

5. 다음 두 학자가 공통적으로 주장하는 민주주의 형태에 대한 옳은 설명만을 <보기>에서 있는 대로 고른 것은?

〈 보 기 〉

ㄱ. 국민 자치 원리에 가장 충실한 제도이다.
ㄴ. 국민의 의사가 대표될 수 있음을 전제하고 있다.
ㄷ. 국민 소환제나 국민 발안제를 통해 단점을 보완할 수 있다.
ㄹ. 대규모 국가에서 정책 결정의 효율성과 전문성을 높일 수 있다.

① ㄱ, ㄴ ② ㄱ, ㄷ ③ ㄴ, ㄹ
④ ㄱ, ㄷ, ㄹ ⑤ ㄴ, ㄷ, ㄹ

6. 다음은 정치 권력에 대한 어떤 학자의 견해이다. ㉠, ㉡에 대한 설명으로 적절하지 않은 것은?

정치에 있어서 정치 권력은 경제에서의 화폐에 비유할 수 있다. 화폐는 재화와 서비스의 배분을 변화시킬 수 있는 능력, 즉 구매력을 나타내는 상징으로 우리 경제 생활에서 통화로서의 기능을 한다. 화폐가 경제 생활의 통화인 것처럼, 정치에 있어서 정치 권력은 ㉠'강제할 수 있는 결정'과 ㉡'믿을 만한 지지'의 교환을 용이하게 하는 통화, 즉 매개 수단인 것이다.

① 국가가 행사하는 ㉠은 독점적 성격을 지닌다.
② ㉠은 국민 과반수의 지지가 있어야 행사될 수 있다.
③ 정치적 자유에 대한 억압은 ㉡을 왜곡시킬 가능성이 크다.
④ 선거는 ㉠과 ㉡이 교환되는 보편적이고 민주적인 방법이다.
⑤ ㉡에 기초하지 않는 ㉠의 행사는 정당성을 갖지 못한다.

7. 다음은 어떤 선거 관리 제도와 관련된 헌법 조항이다. 이 제도의 목적으로 적절한 것만을 <보기>에서 있는 대로 고른 것은?

○ 선거와 국민 투표의 공정한 관리 및 정당에 관한 사무를 처리하기 위하여 선거 관리 위원회를 둔다. (헌법 제114조 ①항)
○ 선거에 관한 경비는 법률이 정하는 경우를 제외하고는 정당 또는 후보자에게 부담시킬 수 없다. (헌법 제116조 ②항)

〈 보 기 〉

ㄱ. 국민의 조세 부담을 경감시키고자 한다.
ㄴ. 후보자 간에 선거 운동의 기회를 균등히 하고자 한다.
ㄷ. 유권자와 후보자 간의 자율적 소통을 확대하고자 한다.
ㄹ. 후보자 간의 경쟁 심화에 따른 선거 과열을 막고자 한다.

① ㄱ, ㄴ ② ㄱ, ㄷ ③ ㄴ, ㄹ
④ ㄱ, ㄷ, ㄹ ⑤ ㄴ, ㄷ, ㄹ

8. 다음은 근대 및 현대 민주 정치와 관련된 질문과 이에 대한 답변이다. 두 답변이 모두 정답인 항목만을 있는 대로 고른 것은? [3점]

항목	질 문	답 변	
		근대 민주 정치	현대 민주 정치
(가)	간접 민주 정치가 일반적 정치 원리로서 실현되고 있는가?	예	예
(나)	보통 선거의 원칙이 실현되고 있는가?	아니오	예
(다)	재산권이 절대적 기본권으로서 보장되는가?	아니오	아니오
(라)	'국가로부터의 자유'를 보장하는가?	예	아니오

① (가), (나) ② (가), (다) ③ (나), (라)
④ (가), (다), (라) ⑤ (나), (다), (라)

9. 다음은 정부 형태 변경에 관한 설문 조사 결과이다. 응답자 대다수에 의해 지적될 수 있는 현행 우리나라 정부 형태의 문제점으로 가장 적절한 것은? [3점]

<설문 문항>

우리나라의 정부 형태를 변경한다면 어떠한 정부 형태를 도입하는 것이 가장 바람직하다고 생각하십니까?

<응답 결과>

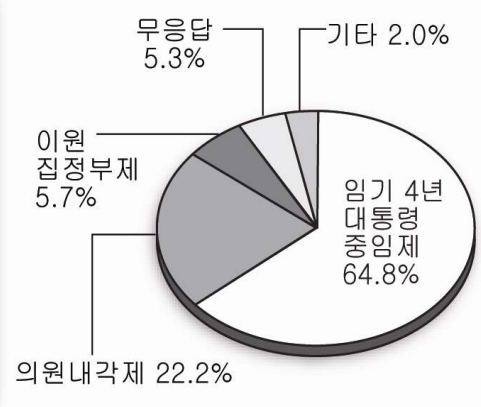

① 선거 비용이 지나치게 많이 소요되고 있다.
② 국회 다수당의 횡포를 막을 장치가 부족하다.
③ 중·장기 정책 집행의 연속성이 보장되기 어렵다.
④ 국회와 행정부 간의 정책 협조가 이루어지지 않고 있다.
⑤ 국회의 전문성 부족으로 행정부가 제출한 법률안의 가결률이 지나치게 높다.

10. 다음에서 ○○정부의 정책이 추구하는 평등의 의미를 설명한 것으로 가장 적절한 것은?

○○정부는 정책이 남녀에게 각각 미치는 영향을 따져 이를 토대로 정책의 문제점을 보완하는 '성별 영향 분석 평가제'를 도입하였다. 이에 따라 시·도에서 공중화장실을 설치할 때 공중화장실에 여성용 변기 수가 남성용 대·소변기 수보다 많거나 적어도 같도록 의무화했다. 이는 용변을 보는 평균 시간이 남성(46초)보다 여성(79초)이 더 오래 걸린다는 연구 결과를 반영한 사례이다.

① '신 앞에서의 평등'을 의미한다.
② 자유 방임주의적 국가 이념에 부합한다.
③ 형식적·절대적·기계적 평등의 원칙을 의미한다.
④ 차티스트 운동에서 추구하던 정치적 평등과 같은 입장이다.
⑤ 평균적 정의(正義)보다 배분적 정의(正義)의 개념을 중시한다.

11. 다음과 같은 정치 환경 변화로 인해 나타날 수 있는 결과로 적절한 것만을 <보기>에서 있는 대로 고른 것은?

> 디지털 혁명은 의사 소통에 있어 시·공간적 제약을 완화시켜 사이버 공간에서의 정치 토론이나 여론 조사뿐만 아니라, 투표도 가능하게 하였다. 그 결과 시민들은 보다 쉽게 공공 정책 결정 과정에 직접 참여할 수 있게 되었으며, 이는 고대 아테네의 민회 장소였던 아고라가 사이버 공간 안에서 부활하고 있는 것이다.

〈보 기〉

ㄱ. 국민의 참정권 확대로 인해 권력 분립의 원칙이 약화된다.
ㄴ. 정보 접근성의 차이에 따른 정치적 불평등 문제가 제기된다.
ㄷ. 국민 의사의 과도한 표출로 인해 정치 권력 획득의 정당성이 약화된다.
ㄹ. 검증되지 않은 정보가 확산됨에 따라 유권자의 정치적 의사가 왜곡될 수 있다.

① ㄱ, ㄴ ② ㄱ, ㄷ ③ ㄴ, ㄹ
④ ㄱ, ㄷ, ㄹ ⑤ ㄴ, ㄷ, ㄹ

12. 그림은 선거구제를 세 가지의 일반적인 특성으로 구분한 것이다. A ~ C에 들어갈 특성을 바르게 짝지은 것은? [3점]

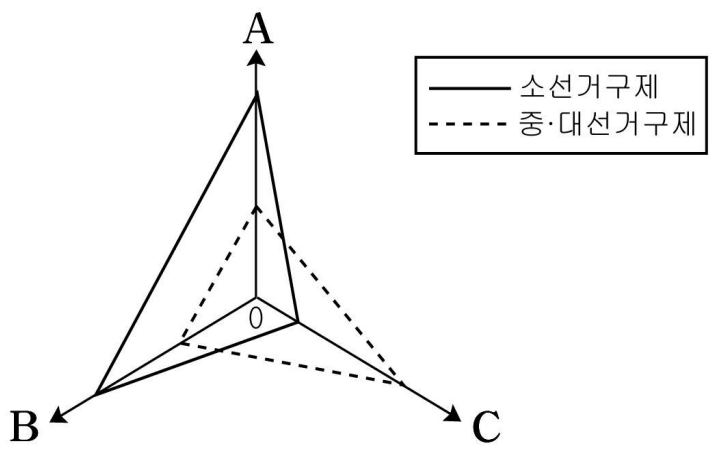

*0에서 멀어질수록 정도가 크거나 높음.

	A	B	C
①	사표의 발생 정도	입후보자 인물 파악 용이성	군소 정당의 출현 가능성
②	사표의 발생 정도	군소 정당의 출현 가능성	신진 인사의 당선 가능성
③	선거 관리의 용이성	신진 인사의 당선 가능성	사표의 발생 정도
④	득표율과 의석률의 격차	다당제의 출현 가능성	선거 관리의 용이성
⑤	득표율과 의석률의 격차	양당제의 출현 가능성	입후보자 인물 파악 용이성

13. 그림은 정책 결정 과정을 나타낸 것이다. (가)의 활동 사례로 옳은 것은?

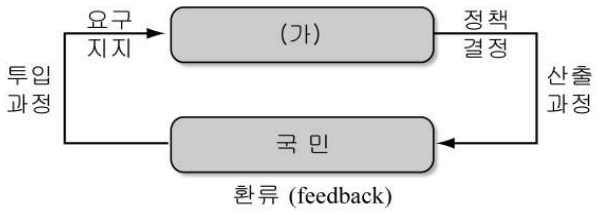

① A정당은 국회 의원 선거에 후보자를 공천하였다.
② B노동 조합은 근로 환경 개선 청원서를 제출하였다.
③ C시민 단체는 사형제 폐지를 위한 서명 운동을 전개하였다.
④ D지방 의회는 출산 보조금 인상 조례안을 심의·의결하였다.
⑤ E연구소는 자치 단체 간의 통합에 대한 보고서를 발표하였다.

14. 다음 갑국의 정부 형태에 대한 설명으로 옳은 것을 <보기>에서 고른 것은?

> 갑국의 대통령은 국민의 직접 선거로 선출되어 평상시에는 외교와 국방에 관한 실질적 권한을 행사하고, 내란 및 전쟁 등의 비상시에는 국가 긴급권에 의거하여 행정 전권을 위임받는다. 또한 대통령은 최고 사법 위원회의 의장을 겸하고 있으며, 의회에 대해서는 책임을 지지 않는다. 총리는 다수당의 대표로서 의회에서 선출되며 일반 행정에 관한 권한을 갖는다. 의회는 내각에 대해 불신임권을 가지며, 내각은 법률안 제출권을 갖는다.

〈보 기〉

ㄱ. 국가 비상 사태시 신속한 국정 수행이 가능하다.
ㄴ. 의회는 대통령에 대해 불신임권을 행사할 수 없다.
ㄷ. 행정의 이원화로 인해 대외 정책의 일관성을 갖기 어렵다.
ㄹ. 대통령과 총리의 소속 정당이 다를 경우 독재화의 위험이 높다.

① ㄱ, ㄴ ② ㄱ, ㄷ ③ ㄴ, ㄷ
④ ㄴ, ㄹ ⑤ ㄷ, ㄹ

15. 다음은 올해 선출될 우리나라 지방 자치 단체의 구성원을 도식화한 것이다. 이에 대한 설명으로 옳은 것은? [3점]

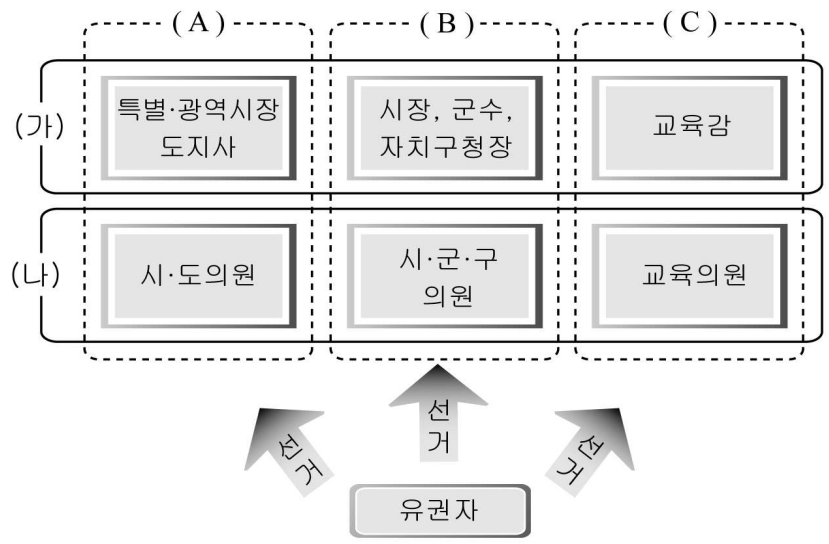

① (가)는 집행 기관으로 (나)에 대해 연대 책임을 진다.
② (가)는 다수 대표제, (나)는 소수 대표제에 의해 선출된다.
③ (C)의 집행 기관 후보자에 대해서도 정당 공천이 허용된다.
④ (A), (B)의회 구성 시 지역구 의원과 비례 대표 의원을 선출한다.
⑤ (가)는 수평적 권력 분립, (A)는 수직적 권력 분립이 나타난다.

16. 다음은 정치 학습지의 일부이다. ㉠, ㉡에 대한 설명으로 적절하지 않은 것은?

> 2. 민주주의의 이념과 원리
>
> ▣ 주요 내용 정리
> 1. 민주주의의 의미
> 1) ㉠정치 형태로서의 민주주의
> : 정부를 구성하는 방법의 하나, '다수에 의한 지배'
>
> 2) ㉡생활 원리로서의 민주주의
> : 민주적 의사 결정 태도를 포함하는 민주적 생활 양식

① 선거를 통해 국회 의원을 선출하는 것은 ㉠의 사례이다.
② ㉠은 '치자와 피치자의 동일성 원리' 실현을 중요시한다.
③ ㉡은 현대 민주 정치에서 새롭게 강조되는 의미이다.
④ 다수결의 원리, 토론, 비판, 대화와 타협 등은 ㉡의 사례이다.
⑤ ㉡은 정치를 국가 권력의 획득, 유지 및 행사의 측면에서 강조한다.

17. 다음과 같은 현대형 정치적 무관심의 원인으로 적절하지 않은 것은?

> 현대 사람들은 정치에 대한 풍부한 지식이 있음에도 불구하고, 의식적으로 정치에 무관심하거나 사적 생활에 집중하는 양상을 보인다. 이러한 현대형 정치적 무관심은 정치에 대한 무지와 통치자에 대한 복종을 내용으로 하는 전통형 정치적 무관심과는 구별된다.

① 대중 매체의 발달에 의한 상업주의 문화의 확산
② 정치적 참여 경험의 실패로 인한 냉소주의의 심화
③ 정치를 지배 계층만의 행위로 바라보는 의식의 확산
④ 현대 정치 과정의 거대화와 복잡화로 인한 무력감의 증대
⑤ 치열한 경쟁 사회 구조로 인한 피로와 휴식에 대한 요구 증대

18. 그림의 A ~ D는 전형적인 정부 형태에서 나타나는 정치적 상황이다. 이에 대한 분석으로 옳은 것은? [3점]

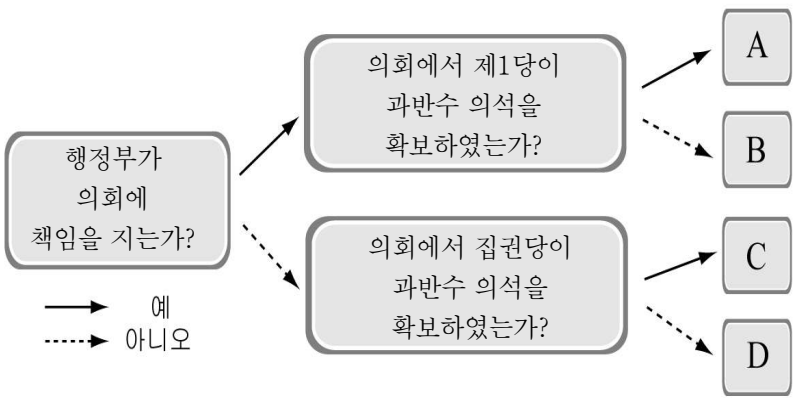

① A, B에서는 행정부 수반의 임기가 헌법을 통해 보장된다.
② C보다 A에서 행정부가 정치적 책임에 더 민감하다.
③ C, D에서는 행정부의 법률안 제출권이 인정된다.
④ D보다 B에서 의회와 행정부 간의 마찰 가능성이 더 높다.
⑤ D보다 C에서 법률안 거부권이 행사될 가능성이 더 높다.

[19 ~ 20] 다음 자료를 보고 물음에 답하시오.

> (가) ○○국 의회 의석 결정 방식
> 소선거구제에 의한 지역 대표제와 정당 명부식 비례 대표제를 병행하여 실시하며, 유권자는 지역구 후보자와 정당에 각각 한 표씩 투표한다. 정당 투표 득표율에 비례하여 각 정당별로 배정될 총 의석수가 정해지고, 이 의석수에서 각 정당의 지역구 선거 당선자 수를 뺀 나머지가 각 정당의 비례 대표 의석으로 배분된다. 단, 지역구 의석수가 정당 투표에 의해 배정된 의석수보다 많을 경우, 초과된 수만큼 전체 의석수가 증가하게 된다.
>
> (나) 가상의 정당별 득표율 현황
>
> (단위: %)

구분		A 정당	B 정당	C 정당
정당별 지역구 선거 후보자 득표율	갑 선거구	45	14	41
	을 선거구	48	11	41
	병 선거구	12	52	36
	정 선거구	47	18	35
	무 선거구	51	5	44
정당 투표 득표율		40	20	40

*의회의 총 의석수는 10석이다.

19. 현행 우리나라 국회 의원 선거 제도와 비교할 때, (가)와 같은 방식의 일반적인 특징으로 적절한 것은? [3점]

① 소수당의 원내 진출 가능성이 낮다.
② 지역구 선거에서 사표 발생이 감소한다.
③ 다수당의 과반수 의석 확보 가능성이 높다.
④ 유권자가 지역구 후보자를 파악하기 어렵다.
⑤ 정당 투표 득표율과 총 의석률 간의 격차가 작다.

20. (가) 방식을 적용하여 (나)의 선거 결과를 분석한 것으로 옳은 것은? [3점]

① A정당 총 의석수는 정당 투표 득표율에 비해 과대 대표되었다.
② 지역구 선거에서 B정당의 사표가 가장 많다.
③ B정당은 2석의 비례 대표 의석을 획득하였다.
④ C정당은 무 선거구에서 가장 많은 표를 획득하였다.
⑤ A정당 지역구 의석률과 C정당의 비례 대표 의석률은 같다.

> ※ 확인사항
> 문제지와 답안지의 해당란을 정확히 기입(표기)했는지 확인하시오.