2009학년도 10월 고3 전국연합학력평가 문제지

제 4 교시

직업탐구 영역(회계 원리)

성명		수험번호						3				

1. 다음 (가)에 해당하는 거래로 옳은 것은?

회계상의 거래		회계상의 거래 아님
분실, 천재지변 등에 의한 손실	(가)	상품의 주문 등
일상 생활상의 거래 아님	일상 생활상의 거래	

① 사용 중인 책상을 교체하기로 하다.
② 창고 1동에 대해 임대차 계약을 맺다.
③ 갑 상품 ₩100,000이 화재로 소실되다.
④ 업무용 자동차를 현금 ₩2,000,000에 구입하다.
⑤ 연봉 ₩10,000,000을 지급하는 조건으로 사원을 채용하다.

2. 다음은 퇴직금 지급 영수증이다. 2009년 9월 30일 분개로 옳은 것은? (단, 퇴직급여충당부채 ₩2,000,000이 있다.)

퇴직금 지급 영수증

성　　명 : 홍 길 동
부　　서 : 경리부
입 사 일 : 2000년 7월 1일
퇴 직 금 액 : 이백오십만 원(₩2,500,000)
퇴직금정산일 : 2009년 9월 25일
퇴직금지급일 : 2009년 9월 30일
퇴직금지급방법 : 현금 지급

위의 퇴직금을 정산하여 지급하였음을 증명합니다.

2009년 9월 30일

㈜○○유통 대표이사

	(차변)	(대변)
①	퇴직급여 2,500,000	현금 2,500,000
②	퇴직급여충당부채 2,500,000	현금 2,500,000
③	퇴직급여충당부채 2,500,000	현금 2,000,000 미지급금 500,000
④	퇴직급여충당부채 500,000 퇴직급여 2,000,000	현금 2,500,000
⑤	퇴직급여충당부채 2,000,000 퇴직급여 500,000	현금 2,500,000

3. 표의 자료를 이용하여 매출원가와 매출총이익을 계산한 금액으로 바르게 짝지은 것은? [3점]

기초 자료	기중 자료	기말 자료
기초 상품 ₩20,000	현금 매입 ₩50,000	기말 상품 ₩30,000
	매입 환출 ₩5,000	
	외상 매출 ₩45,000	
	매출 에누리 ₩7,000	

	(매출원가)	(매출총이익)
①	₩25,000	₩3,000
②	₩25,000	₩5,000
③	₩35,000	₩3,000
④	₩35,000	₩5,000
⑤	₩35,000	₩10,000

4. 다음은 상품을 고객에게 발송하고 받은 영수증이다. 분개 시 차변 계정과목으로 옳은 것은? (단, 운임은 당점 부담이다.)

① 매출　② 미수금　③ 운반비
④ 미지급금　⑤ 외상매출금

5. 다음 장부에 기록하는 항목만을 <보기>에서 있는 대로 고른 것은? [3점]

상품재고장

[선입선출법]　품명 : 갑상품　(단위 : 개)

월일	적 요	인 수			인 도			잔 액		
		수량	단가	금액	수량	단가	금액	수량	단가	금액

< 보 기 >

ㄱ. 매입 단가　ㄴ. 매입 에누리　ㄷ. 매출 에누리

① ㄱ　② ㄴ　③ ㄷ
④ ㄱ, ㄴ　⑤ ㄴ, ㄷ

6. 다음은 ○○상사의 9월 중 거래 내역이다. 이를 현금출납장에 기장했을 때 (가)~(다)에 공통적으로 들어갈 금액으로 옳은 것은? [3점]

> ○ 9월 3일 상품 ₩30,000을 판매하고 대금은 자기앞수표로 받다.
> ○ 9월 10일 외상매입금 ₩20,000을 소유하고 있던 우편환증서로 지급하다.
> ○ 9월 20일 종업원의 급여 ₩40,000을 당좌수표를 발행하여 지급하다.

현금출납장

2009년		적 요	수 입	지 출	잔 액
9	1	전월이월	50,000		50,000
	30	차월이월		(가)	
			xxxx	xxxx	
10	1	전월이월	(나)		(다)

① ₩20,000 ② ₩50,000 ③ ₩60,000
④ ₩70,000 ⑤ ₩80,000

7. 다음은 (주)○○유통의 이익잉여금처분계산서이다. 이에 대한 설명으로 옳은 것만을 <보기>에서 있는 대로 고른 것은? [3점]

이익잉여금처분계산서

제6기 2008년 1월 1일부터 2008년 12월 31일까지
(주)○○유통 처분확정일 : 2009년 2월 10일 (단위 : 원)

과 목	제6(당)기 금 액		제5(전)기 금 액
미처분이익잉여금		××××	전기분 생략
전기이월미처분이익잉여금	×××		
:	:		
당 기 순 이 익	×××		
임의적립금등의이입액			
합 계		××××	
이익잉여금처분액		(×××)	
이 익 준 비 금	10,000		
:	:		
배 당 금	100,000		
차기이월미처분이익잉여금		×××	

< 보 기 >
ㄱ. 자본금은 ₩10,000이다.
ㄴ. 배당금은 모두 현금 배당이다.
ㄷ. 이익준비금은 상법 상 배당금 최저액으로 계상되다.

① ㄱ ② ㄴ ③ ㄷ
④ ㄱ, ㄴ ⑤ ㄴ, ㄷ

8. 다음은 거래 요소의 결합관계이다. 이에 대한 거래로 옳은 것만을 <보기>에서 있는 대로 고른 것은?

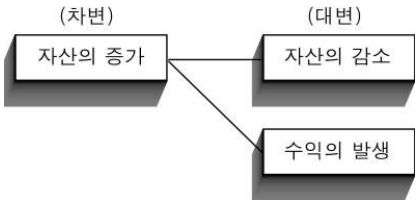

< 보 기 >
ㄱ. 거래처에 2개월 동안 현금 ₩30,000을 차입하다.
ㄴ. 단기대여금 ₩100,000과 그 이자 ₩1,000을 현금으로 받다.
ㄷ. 전화요금 ₩10,000과 수도요금 ₩5,000을 현금으로 지급하다.

① ㄱ ② ㄴ ③ ㄷ
④ ㄱ, ㄴ ⑤ ㄴ, ㄷ

9. 그림은 임대료에 대한 결산정리 사항이다. 이에 대한 설명으로 옳지 않은 것은? (단, 회계기간은 1월 1일부터 12월 31일까지이다.) [3점]

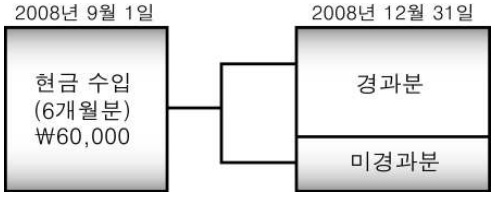

① 당기에 임대료 ₩60,000을 받다.
② 당기분의 임대료는 ₩40,000이다.
③ 임대료 중 ₩20,000은 미경과분이다.
④ 결산 시 미경과분에 대한 정리분개를 해야 한다.
⑤ 손익계산서에 임대료의 표시 금액은 ₩60,000이다.

10. 다음은 2008년 말 현재 대차대조표의 일부 자료와 기계장치의 감가상각누계액 그래프이다. 이에 대한 추정으로 옳지 않은 것은? (단, 유형자산은 기계장치 1대만 소유한 것으로 가정한다.)

대 차 대 조 표	감가상각누계액
⋮	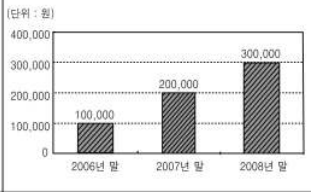
유형자산	
기 계 장 치 500,000	
(감가상각누계액 300,000)	
⋮	

① 내용연수는 3년이다.
② 감가상각 방법은 정액법이다.
③ 감가상각은 간접법으로 기장한다.
④ 감가상각누계액은 차감적 평가계정이다.
⑤ 2008년 말 결산 후 기계장치의 미상각잔액은 ₩200,000이다.

11. 다음 자료에서 (가)의 요인으로 옳은 것을 <보기>에서 고른 것은? [3점]

> **기업의 수익 구조 개선 방안**
>
> 상반기에는 전 세계적으로 경제가 침체하여 소비가 줄면서 매출이 감소했으나 기업의 실적지표인 순이익은 증가했다. 그 이유는 올해 들어 국내 증시는 20%이상 급등하여 회사 보유의 주식 가격이 상승했고, 환율 상승에 의한 환차익 등의 영업외 수익이 증가했기 때문으로 보고 있다. 이에 전문가들은 (가)영업이익을 늘리는 데 더욱 노력을 해야 한다고 조언한다.

< 보 기 >

ㄱ. 매출을 증가시킨다.
ㄴ. 건물에 대한 임대료 수입을 늘린다.
ㄷ. 소모품비와 수도광열비 등을 절약한다.
ㄹ. 안전한 국·공채 채권에 투자하여 이자수익을 늘린다.

① ㄱ, ㄴ
② ㄱ, ㄷ
③ ㄴ, ㄷ
④ ㄴ, ㄹ
⑤ ㄷ, ㄹ

12. 표는 2009년 단기매매증권의 취득 시와 처분 시 자료이다. 처분 시 분개로 옳은 것은? (단, 주식 매매는 종가 기준이다.)

	주식 시세표	매매 일반 사항
취득 시 (9월 10일)	▲상승 ▽하한 ⬆상한가 ⬇하한가 (종목코드) 종목명 종가 등락 OOXXXX OO은행 10,000 ▲1,000	매수주식 : 200주 액면가액 : ₩5,000 대금지급 : 수표 발행
처분 시 (10월 15일)	▲상승 ▽하한 ⬆상한가 ⬇하한가 (종목코드) 종목명 종가 등락 OOXXXX OO은행 12,000 ▲2,000	매도주식 : 100주 액면가액 : ₩5,000 대금수입 : 현금

* 단기매매증권은 기업회계 기준서 21호(2006.12.31 이후부터 시행)에서 단기투자자산으로 통합하여 표기한다.

	(차변)	(대변)
①	현금 500,000	단기매매증권 500,000
②	현금 1,000,000	단기매매증권 1,000,000
③	현금 1,000,000	단기매매증권 800,000 단기투자자산처분이익 200,000
④	현금 1,200,000	단기매매증권 1,000,000 단기투자자산처분이익 200,000
⑤	현금 1,200,000	단기매매증권 1,200,000

13. 다음 대손충당금계정의 설명으로 옳은 것만을 <보기>에서 있는 대로 고른 것은? [3점]

대손충당금

10/15 외상매출금	7,000	1/1 전 기 이 월	10,000
12/31 차기이월	8,000	12/31 대손상각비	5,000
	15,000		15,000

< 보 기 >

ㄱ. 외상매출금 ₩7,000이 회수 불능되다.
ㄴ. 전기 말 대손충당금 잔액은 ₩8,000이다.
ㄷ. 결산정리분개는 (차)대손상각비 15,000
(대)대손충당금 15,000이다.

① ㄱ ② ㄴ ③ ㄷ
④ ㄱ, ㄴ ⑤ ㄴ, ㄷ

14. 그림은 당좌거래에 관한 내용이다. 대화에서 알 수 있는 당좌차월 한도액은? [3점]

① ₩10,000,000 ② ₩20,000,000 ③ ₩30,000,000
④ ₩40,000,000 ⑤ ₩50,000,000

15. 표는 사채 발행에 관한 내용이다. 이에 대한 설명으로 옳지 않은 것은?(단, 사채할인발행차금상각은 정액법이다.)

	2006년 초 (발행일)	2006년 말	2007년 말	2008년 말
액면가액	₩500,000	₩500,000	₩500,000	₩500,000
지급이자	₩0	₩50,000	₩50,000	₩50,000
할인발행차금	₩30,000	₩20,000	₩10,000	₩0
장부가액	₩470,000	₩480,000	₩490,000	₩500,000

① 만기 상환액은 ₩450,000이다.
② 사채의 이자율은 연10%이다.
③ 사채발행가액은 ₩470,000이다.
④ 사채만기에는 액면가액과 장부가액이 같다.
⑤ 사채할인발행차금은 매년 ₩10,000씩 상각한다.

16. 다음은 결산 과정의 일부이다. (가)와 (나)를 바르게 짝지은 것은? (단, 비용·수익은 대체분개 후 (가)에 전기한다.) [3점]

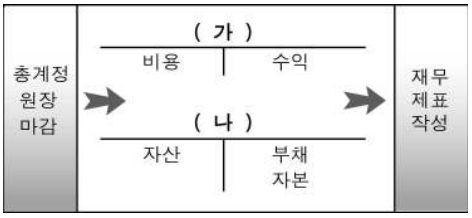

	(가)	(나)
①	손익	대차대조표
②	손익	이월시산표
③	손익계산서	대차대조표
④	손익계산서	이월시산표
⑤	손익계산서	잔액시산표

17. 다음 출금전표 (가)에 기입할 적요 내용으로 옳은 것은?

No.23 출금전표	담당	과장	부장	사장
	김00	박00	이00	최00

2009년 10 월 15 일

계정과목	소모품비	거래처명	OO상점
적 요	금 액		
(가)	1 0 0 0 0		
합 계	₩ 1 0 0 0 0		

① 사무용 책상 구입
② 영업용 자동차 구입
③ 사무실 임차료 지급
④ 사무용 인쇄용지 구입
⑤ 종업원 체육대회 선물비

18. 다음은 개인 기업인 △△상사의 자본 변동과 영업 활동 내역이다. 기말 자본금 (가)를 계산한 금액으로 옳은 것은?

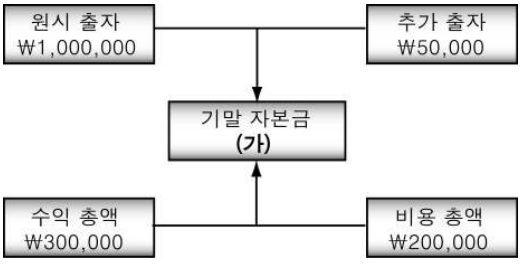

① ₩1,000,000 ② ₩1,050,000 ③ ₩1,150,000
④ ₩1,200,000 ⑤ ₩1,250,000

19. 다음은 약속어음과 관련된 분개장의 일부이다. (가)와 (나)에 들어갈 계정과목을 바르게 짝지은 것은? (단, 어음 할인은 매각거래이다.)

분 개 장

날짜		적 요	원면	차 변	대 변
9	15	(가)		50,000	
		(매 출)	생		50,000
		△△ 상점에 갑상품을~(이하 생략)			
10	15	제 좌 (받을어음)	략		50,000
		(현 금)		45,000	
		(나)		5,000	
		9월 15일 어음을 거래 은행에서 할인하다.			

	(가)	(나)
①	받을어음	미수금
②	받을어음	이자비용
③	받을어음	매출채권처분손실
④	지급어음	미수금
⑤	지급어음	매출채권처분손실

20. 다음은 (주)△△완구의 2008년 결산보고 수정 기안문의 일부이다. 수정 후 당기순이익은? [3점]

신뢰받는 기업 문화 창조!
(주)△△완구

수신자 내부결재
(경유)
제목 2008년 결산보고 수정

1. 관련 : (주)△△완구-1234(2008.12.××)
2. 위 관련에 의거 2008년도 결산 시 일부 결산 정리 사항의 누락 내용이 발견되어 아래와 같이 수정하고자 합니다.
가. 수정 전 당기순이익 ₩100,000
나. 누락으로 인한 수정 사항
1) 이자 미수분 ₩3,000
2) 임차료 미지급분 ₩4,000
3) 보험료 미경과분 ₩2,000

① ₩91,000 ② ₩95,000 ③ ₩97,000
④ ₩99,000 ⑤ ₩101,000

※ 확인 사항
○ 답안지의 해당란에 필요한 내용을 정확히 기입(표기)했는지 확인하시오.