제 4 교시

사회탐구 영역 (사회 · 문화)

성명		수험번호						3				

- 자신이 선택한 과목의 문제지인지 확인하시오.
- 문제지에 성명과 수험번호를 정확히 써 넣으시오.
- 답안지에 성명과 수험번호를 써 넣고, 또 수험번호와 답을 정확히 표시하시오.
- 과목을 선택한 순서대로 풀고, 답은 답안지의 '제1선택'란에서부터 차례대로 표시하시오.
- 문항에 따라 배점이 다르니, 각 물음의 끝에 표시된 배점을 참고하시오. 3점 문항에만 점수가 표시되어 있습니다. 점수 표시가 없는 문항은 모두 2점입니다.

1. 밑줄 친 ㉠~㉤에 대한 설명으로 옳은 것은?

> 미국 최초의 흑인 대통령이 된 버락 오바마는 하와이와 인도네시아를 오가는 ㉠유년기, 부모의 이혼과 아버지의 부재, ㉡어머니의 재혼과 실패가 주는 불안정한 성장 과정 속에서 ㉢청소년기를 보냈다. 그러나 자신의 상처 속에서 희망의 씨앗을 발견하고 ㉣지역 사회 운동가로서 활발한 활동을 했으며 1996년 상원의원에 당선되었다. 2007년 정치에 입문한 지 십여 년 만에 ㉤민주당 대통령 후보 경선에 도전하여, '오바마 신드롬'을 만들어내며 2008년 새로운 역사를 이룩해냈다.

① ㉠은 주로 2차적 사회화 기관이 중시되는 시기이다.
② ㉡은 전통 사회에서 강조되는 귀속 지위에 해당한다.
③ ㉢은 주로 재사회화가 이루어지는 시기이다.
④ ㉣은 지위에 따라 기대되는 행동 양식이다.
⑤ ㉤은 2차 집단이며 이익 사회에 해당한다.

2. 사회를 바라보는 (가)~(다)의 관점에 대한 설명으로 옳은 것은? [3점]

> (가) 학교는 공식적인 교육 과정의 이면에 감추어져 있는 잠재적 기능을 수행하는데, 그것은 기존의 사회 체제 및 불평등 구조를 재생산하는 것이다.
> (나) 학교는 새로운 세대에게 사회에서 생산적이고 질서 있는 삶을 살아갈 수 있도록 적절한 행동을 가르침으로써 사회의 유지와 존속에 기여한다.
> (다) 학교에서 교사가 학생들에 대하여 고정 관념을 갖게 되면 학생들의 학업 수행과 행동에 영향을 미쳐서 성적이나 품행에 차이가 나타나게 된다.

① (가)는 계급 투쟁론에 입각하여 지배 집단이 규정한 사회 구성 요소와 역할을 당연히 따라야 한다고 본다.
② (나)는 사회 구성 요소 간의 합리적 역할 분담을 설명하기 곤란하다.
③ (다)는 개인의 행동에 영향을 미치는 사회 제도의 중요성을 강조하고 있다.
④ (나)는 (다)에 비해 주관적 상황 정의보다는 객관적 사회 조건을 중시한다.
⑤ (다)는 (가)와 (나)보다 사회 구조에 관한 균형적인 관점이다.

3. 그림에서 개인과 사회의 관계를 보는 갑, 을의 관점에 대한 분석으로 옳은 것은?

① 갑은 개인주의와 자유주의를 강조한다.
② 갑은 개인의 행동에 대한 사회의 구속을 중시한다.
③ 을은 사회를 개인 외부에 존재하는 실체로 본다.
④ 을의 관점은 사회 유기체설을 사상적 토대로 한다.
⑤ 갑, 을 모두 거시적인 관점에서 사회를 바라본다.

4. 다음과 같은 문화 인식 태도가 나타나는 이유로 적절하지 않은 것은?

> 문화는 주변 환경에 따라 다르게 형성되므로 모든 문화를 동등한 관점에서 편견 없이 보아야 한다. 그러나 일부 사람들은 자신 또는 자기가 속한 사회의 문화를 중심으로 타문화를 부정적으로 평가하고 있다.

① 자기 문화의 전통과 주체성을 찾기 위하여
② 자신의 문화가 우월하다고 판단하기 때문에
③ 세계화에 따른 문화의 특수성을 인정하기 위하여
④ 문화적 상대주의에 대한 인식이 부족하기 때문에
⑤ 인위적으로 사회 집단의 통제나 유대 강화를 위하여

5. 다음과 같은 현상에서 발생할 수 있는 문제의 해결 방안으로 가장 거리가 먼 것은? [3점]

외국인과의 혼인건수 (단위:건)

구분	전체	한국남성+외국여성	한국여성+외국남성
2000	12,319	7,304	5,015
2002	15,913	11,017	4,896
2005	43,121	31,180	11,941
2006	39,690	30,208	9,482

(자료:통계청)

> 국제적 인적 교류가 확대되고 국제 결혼이 늘어남에 따라 우리 사회에 언어·문화적 배경이 다른 구성원의 비중이 증가하고 있다. 단일 민족 의식을 중요시하는 우리 사회에서 다문화 가정은 경제적 빈곤과 함께 심리적 위축감으로 인해 안정적인 사회 생활을 하는데 어려움을 겪고 있다.

① 이민자 가정에 대한 가족 계획 사업 실시
② 국제 결혼 가정의 부부를 위한 언어 교육의 실시
③ 타문화 체험 행사와 같은 이주민과의 문화 교류 활성화
④ 결혼 이민자를 외국어 강사로 활용하기 위한 방안 강구
⑤ 다문화 가정 자녀를 위한 진학 및 취업 프로그램의 개발

6. 그림은 농촌과 도시 지역의 인구 피라미드를 나타낸 것이다. (가), (나)지역에 대한 일반적인 특징으로 옳은 것만을 <보기>에서 있는 대로 고른 것은? [3점]

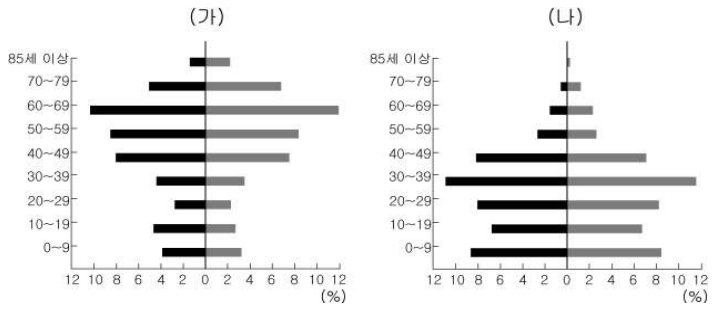

<보 기>

ㄱ. (가)지역보다 (나)지역은 경제 활동 인구가 적다.
ㄴ. (가)지역보다 (나)지역은 기술 진보와 발전의 선도적 역할을 수행한다.
ㄷ. (나)지역은 (가)지역보다 비인격적이고 일시적인 인간 관계가 지배적이다.
ㄹ. 대부분의 노년 인구는 (나)지역에서 (가)지역으로 집중된다.

① ㄱ, ㄴ ② ㄴ, ㄷ ③ ㄷ, ㄹ
④ ㄱ, ㄴ, ㄹ ⑤ ㄴ, ㄷ, ㄹ

7. 다음 글에서 파악할 수 있는 대중 문화의 특징으로 가장 적절한 것은?

대중 문화는 이윤 극대화를 추구하는 자본의 논리에 지배를 받으며, 많은 소비자들을 끌어들이기 위해 용의주도한 마케팅 기법이 따라붙는다. 대중 문화의 수용자들이 늘 현명한 것은 아니기 때문에 대중 문화 상품을 만드는 사람들이 그 점을 노리는 것이다.

① 대중의 정치 참여를 적극 유도한다.
② 대중의 무비판적인 수용 태도를 조장한다.
③ 이기적이고 자기중심적 편견을 심화시킨다.
④ 개개인의 다양한 문화적 독창성을 신장시킨다.
⑤ 고급 문화의 대중화로 사회 전체의 문화 수준을 향상시킨다.

8. 다음 글에서 파악할 수 있는 사회 이동과 관련된 옳은 진술만을 <보기>에서 있는 대로 고른 것은? [3점]

인도에서는 하위 계급을 우선 배려하는 할당 정책 시행으로 경제적으로 성공한 불가촉 천민이 속속 등장하면서 카스트 제도가 흔들리고 있다. 인도 최초의 불가촉 천민 출신 주지사인 마야와티는 대권에 도전할 예정이다. 인도 정부는 최근에 대학 진학과 공무원 채용에만 적용되던 하위 카스트 우대 정책을 민간 기업까지 확대하기로 하였다. 그런데 이런 정책으로 진학과 취업이 막힌 귀족 계급들이 새로운 빈민층으로 전락하면서 정부 정책에 대한 불만이 쏟아지고 있다.

<보 기>

ㄱ. 개방적 계층 구조로 변화하고 있다.
ㄴ. 세대 간 이동과 세대 내 이동이 나타나고 있다.
ㄷ. 상승과 하강의 수직 이동이 동시에 나타나고 있다.
ㄹ. 구조적 이동보다 개인적 이동이 활발하게 이루어지고 있다.

① ㄱ, ㄷ ② ㄱ, ㄹ ③ ㄴ, ㄹ
④ ㄱ, ㄴ, ㄷ ⑤ ㄱ, ㄷ, ㄹ

9. 다음 글에 나타난 연구 방법에 대한 특징으로 옳은 것을 <보기>에서 고른 것은?

어떤 심리학자가 특정 행동을 분석하기 위해 학생들을 격리된 방에 한 사람씩 들어가게 한 뒤 오디오 장치로 옆 방에 있는 학생과 대화를 나누게 했다. 그리고 대화 도중에 학생으로 위장한 한 배우가 갑자기 간질 발작을 일으키는 것처럼 연기했다. 누구라도 복도의 연구원에게 도움을 청하면 되는 상황을 연출한 것이다. 그 결과 2명이 대화를 하고 있던 경우는 85%가 즉시 나와 사고가 났음을 알렸으나, 4명이 있던 경우는 62%, 7명이 있던 경우는 31%만이 알렸다. 이를 통해 목격자가 많을수록 서로에게 책임을 미룬다는 결론을 내렸다.

<보 기>

ㄱ. 연구자의 직관적 통찰을 통해 법칙 발견을 추구한다.
ㄴ. 자연 과학적 연구 방법을 사회 현상의 탐구에 적용한다.
ㄷ. 경험적 자료를 계량화하여 통계적 기법으로 분석하고 인과 관계를 파악한다.
ㄹ. 개념의 조작적 정의를 통해 인간의 주관적인 행위 동기를 심층적으로 이해한다.

① ㄱ, ㄴ ② ㄱ, ㄷ ③ ㄴ, ㄷ ④ ㄴ, ㄹ ⑤ ㄷ, ㄹ

10. 그래프에 대한 분석으로 옳은 것만을 <보기>에서 있는 대로 고른 것은? [3점]

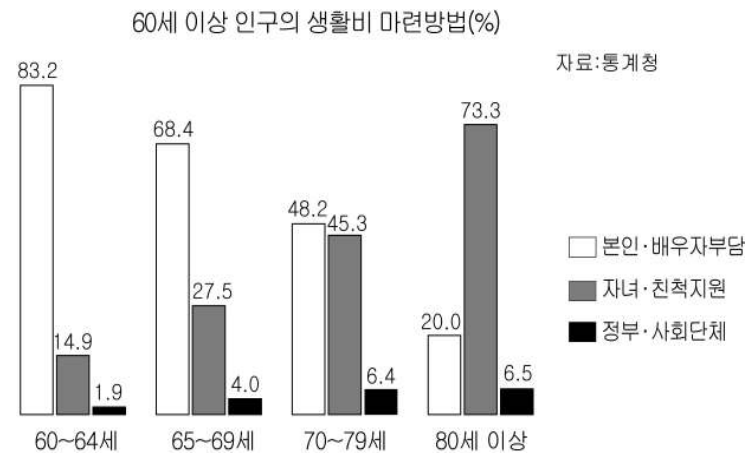

<보 기>

ㄱ. 연령이 증가할수록 자녀·친척에 의지하는 경향이 증가하고 있다.
ㄴ. 60~64세 인구의 대부분은 본인·배우자가 생활비를 부담하고 있다.
ㄷ. 생활비를 자녀·친척으로부터 지원받는 인구는 80세 이상이 가장 많다.
ㄹ. 65~79세 인구의 10.4%는 정부·사회 단체의 지원으로 생활비를 마련하고 있다.

① ㄱ, ㄴ ② ㄱ, ㄷ ③ ㄷ, ㄹ
④ ㄱ, ㄴ, ㄹ ⑤ ㄴ, ㄷ, ㄹ

11. 지역 사회 개발 방식인 (가), (나)와 관련된 설명으로 옳은 것은?

의사결정방식 / 지향 가치	상향식	하향식
효율성		(가)
형평성	(나)	

① (가)는 파급 효과를 통한 성장을 중시한다.
② (가)는 지방 자치의 이념에 충실한 개발 방식이다.
③ (나)는 집적 이익을 추구한다.
④ (가)는 (나)보다 넓은 지역을 종합적으로 개발한다.
⑤ (나)는 (가)에 비해 지역 격차를 심화시킨다.

12. 그림은 문화 접변의 결과를 도식화한 것이다. (가)~(라)의 사례로 바르게 짝지은 것을 <보기>에서 고른 것은? [3점]

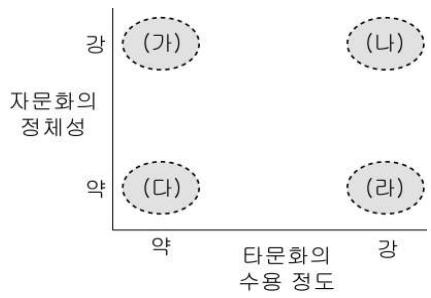

<보 기>

ㄱ. (가) – 체로키 부족이 알파벳에서 아이디어를 얻어 문자를 개발한 것
ㄴ. (나) – 불교와 토속 신앙이 융합하여 사찰 안에 칠성각이나 산신각이 있는 것
ㄷ. (다) – 일제 치하에서 친일파들이 황국 신민의 서사를 앞장서서 보급한 것
ㄹ. (라) – 중국 대륙을 지배했던 만주족이 한족의 문화에 동화된 것

① ㄱ, ㄴ ② ㄱ, ㄷ ③ ㄴ, ㄷ ④ ㄴ, ㄹ ⑤ ㄷ, ㄹ

13. 다음은 어떤 보고서의 요약문이다. 이 보고서를 평가 기준에 따라 옳게 평가한 학생은? [3점]

탐구 주제	인터넷 실명제에 대한 국민 여론 조사
조사 대상	만 20세 이상 대한민국 직장인 5,000명
조사 방법	인터넷 설문 조사
질 문 지 및 설문 결과	본 조사는 현재 논란이 되고 있는 인터넷 실명제의 도입 여부에 관한 국민 여론을 확인하기 위한 조사입니다. •질문 : 표현의 자유를 침해하는 인터넷 실명제의 도입에 대해 당신은 어떻게 생각하십니까? ▶ 찬성 (22.5%) ▶ 반대 (77.5%)
결 론	우리 국민들은 대부분 인터넷 실명제 도입에 반대한다.

평가기준 / 학 생	갑	을	병	정	무
표본의 대표성이 확보되었다.	○	×	×	○	×
설문 문항이 가치 중립적이다.	×	○	×	○	×
조사 결과를 일반화 할 수 있다.	○	×	×	×	○
시간과 비용 절약이 가능한 자료 수집 방법이 사용되었다.	×	○	○	×	○

① 갑 ② 을 ③ 병 ④ 정 ⑤ 무

14. 다음과 같은 사회 조직이 가지고 있는 문제점과 해결 방안을 바르게 연결한 것은?

○○ 패스트푸드의 매뉴얼은 운영자에게 밀크셰이크와 햄버거를 만드는 법, 감자 튀기는 법 등을 정확히 가르쳐 준다. 또한 ○○ 패스트푸드는 효율성을 극대화하기 위해 담당 분야를 나누어 종업원의 전문화를 시도하고, 의도적으로 업무 진행 과정에 종업원의 관여를 최소화하였다.

① 비인간화 현상 – 권한에 따른 업무 수행을 강조한다.
② 무사 안일주의 – 경력에 따른 승진 제도를 도입한다.
③ 조직의 경직성 – 위계의 서열화와 업무의 세분화를 추구한다.
④ 목적 전치 현상 – 목적 달성을 위해 규칙과 절차의 중요성을 강조한다.
⑤ 인간 소외 현상 – 개인의 자율성과 창의성을 발휘할 수 있는 기회를 제공한다.

15. (가), (나)의 자료 수집 방법의 특징을 아래의 그림에서 찾아 바르게 연결한 것은?

(가) 새로운 학습법의 효과를 측정하기 위해 A 집단은 새로운 학습법으로 공부를 하게 하고 B 집단은 종전의 학습법으로 공부를 하게 한 후 그 효과를 비교하였다.
(나) 교사의 권위와 학생들의 수업 태도 간의 관계를 파악하기 위해 연구자는 ○○학교에서 학생들의 생활에 직접 참여하면서 자료를 수집하였다.

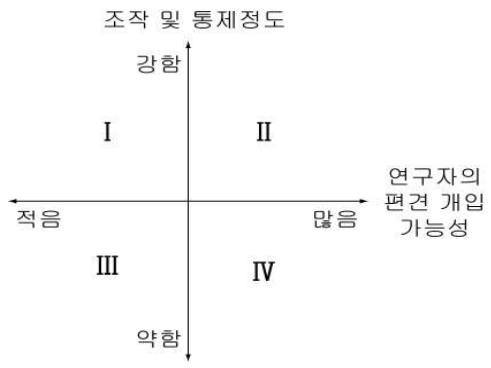

	(가)	(나)		(가)	(나)
①	Ⅰ	Ⅱ	②	Ⅰ	Ⅳ
③	Ⅱ	Ⅲ	④	Ⅲ	Ⅳ
⑤	Ⅳ	Ⅱ			

16. (가)~(다)에 대한 설명으로 옳은 것은? [3점]

(가) 특정한 목표의 달성을 위하여 의도적이고 합리적인 기준에 따라 만들어진 조직
(나) 조직 내에서 공통의 관심사나 취미에 따라 자연 발생적으로 형성된 조직
(다) 공동의 목표나 이해 관계를 같이 하는 사람들이 자발적으로 결성한 집단

① (가)는 (나)에 비해 비공식적 통제가 일반적이다.
② (가)는 (나)의 목표 달성을 위해 존재하는 경우가 일반적이다.
③ (가)와 (다)는 전인격적 인간 관계가 지배적으로 나타난다.
④ (나)와 (다)는 본능적 결합 의지를 토대로 결성된 조직이다.
⑤ (나)와 (다)는 구성원에게 정서적 안정을 제공하거나 생활에서의 만족감을 높여준다.

17. 다음과 같은 변화로 나타날 수 있는 현상으로 적절하지 않은 것은?

> 전통적인 농업 국가이기에 성별 역할이 분명했던 호주 사회도 달라지고 있다. 최근 들어 맞벌이 인구가 60.4%(2005년 기준)에 이르고 남성보다 소득이 높은 여성들이 늘어나자 아버지들의 삶에 변화가 찾아왔다. 무뚝뚝하고 보수적인 스타일의 '오지 대디(Aussie daddy·호주 아빠)'는 줄고, 양육에 적극적으로 참여하는 '핸즈 온 대디(Hands-on daddy·양육하는 아빠)'가 급증하고 있다. ○○대 앨런 라이스(Rice) 학장은 "20년 전만 해도 호주 남자가 요리를 하거나 유모차를 미는 것은 상상할 수도 없었지만, 요즘 백화점에 가면 화장실에서 아기 기저귀를 갈아주는 아빠들을 흔히 볼 수 있다"며 웃었다.

① '육아는 아버지의 권리'라는 인식이 확산될 것이다.
② 양육하는 아빠를 겨냥한 파파 마케팅이 증가할 것이다.
③ '친구 같은 아빠', '가족과 함께하는 아빠'의 개념이 확산될 것이다.
④ 남성의 육아 참여로 양성 평등이 이루어지고 남아 선호 사상이 확산될 것이다.
⑤ 집안 일을 함께하는 아빠가 늘어남으로써 성 역할에 대한 인식이 바뀔 것이다.

18. 다음은 유네스코가 제정한 문화 다양성 협약의 일부이다. 이 글을 읽고 추론한 것 중 옳은 것만을 <보기>에서 있는 대로 고른 것은?

> 국제연합 교육과학문화기구(UNESCO) 제33차 총회는
>
> 1. 문화 다양성이 인류의 중요한 특성임을 확인하고,
> 2. 문화 다양성은 인류 공동의 유산이며, 모든 이들의 이익을 위하여 소중히 하고 보존되어야 한다는 점을 깨닫고,
> 3. 문화 다양성은 선택의 범위를 넓히고 인간의 능력과 가치를 육성해 주는 풍요롭고 다양한 세계를 창조하며, 그러므로 공동체, 민족, 국가의 지속 가능한 발전을 위한 원천임을 인식하고,
>
> … <중략> …
>
> 2005년 10월 20일 이 협약을 채택한다.

<보 기>

ㄱ. 문화의 다양성은 다양한 집단의 정체성 형성에 중요한 요소이다.
ㄴ. 한 사회나 집단에서 문화의 다양성은 다문화주의를 바탕으로 한다.
ㄷ. 인류의 지속적인 발전을 위해서는 문화의 다양성이 필수 불가결한 요소이다.
ㄹ. 문화 다양성 협약은 국제 사회에서 강대국의 문화를 옹호하는 역할을 한다.

① ㄱ, ㄷ ② ㄴ, ㄹ ③ ㄷ, ㄹ
④ ㄱ, ㄴ, ㄷ ⑤ ㄴ, ㄷ, ㄹ

19. 다음 사례와 관련된 문화 이해의 관점이 가지는 특징을 <보기>에서 있는 대로 고른 것은? [3점]

> 한·중·일은 젓가락을 사용하여 식사를 하는 공통점이 있다. 중국은 음식을 주로 튀기거나 지져서 만들기 때문에 가장 긴 젓가락을 사용하고, 일본은 주로 찰기 없는 잡곡밥을 쓸어 먹기 때문에 젓가락의 길이가 가장 짧다. 한국의 젓가락은 중국과 일본 젓가락의 중간 길이다.

<보 기>

ㄱ. 자기 문화에 대한 보다 객관적인 시각을 가질 수 있게 해준다.
ㄴ. 타문화를 상대적으로 이해하게 되어 선진 문물을 적극적으로 수용할 수 있다.
ㄷ. 문화에 대한 인식 수준을 높여서 다른 문화에 대한 안목을 가질 수 있게 된다.
ㄹ. 문화 요소들은 지속적인 상호 작용을 통해 내재적으로 변동하고 있다는 관점이다.

① ㄱ, ㄷ ② ㄱ, ㄹ ③ ㄴ, ㄷ
④ ㄱ, ㄷ, ㄹ ⑤ ㄴ, ㄷ, ㄹ

20. 표는 두 국가의 사회 이동에 따른 계층 구성의 비율 변화를 나타낸 것이다. 이에 대한 분석으로 옳은 것만을 <보기>에서 있는 대로 고른 것은? [3점]

1988년 (단위 : %)

계층 \ 국가	A국	B국
상층	7	17
중층	67	28
하층	26	55

2008년 (단위 : %)

계층 \ 국가	A국	B국
상층	18	23
중층	23	11
하층	59	66

<보 기>

ㄱ. A국은 소득 재분배를 통한 사회적 책임이 증가하였다.
ㄴ. A국에서의 계층 구조 변화는 복지 사회로의 진입을 보여 준다.
ㄷ. B국은 양극화에 따라 사회 불안의 가능성이 커졌다.
ㄹ. B국은 A국에 비해 계층의 세습 정도가 심해졌다.
ㅁ. A국은 개방적 계층 구조, B국은 폐쇄적 계층 구조가 나타났다.

① ㄱ, ㄷ ② ㄴ, ㄹ ③ ㄴ, ㅁ
④ ㄱ, ㄷ, ㄹ ⑤ ㄱ, ㄷ, ㅁ

> * 확인 사항
>
> ◦답안지의 해당란에 필요한 내용을 정확히 기입(표기)했는지 확인하시오.