제 4 교시

사회탐구 영역 (세계지리)

성명		수험번호						3				

- 자신이 선택한 과목의 문제지인지 확인하시오.
- 문제지에 성명과 수험번호를 정확히 써 넣으시오.
- 답안지에 성명과 수험번호를 써 넣고, 또 수험번호와 답을 정확히 표시하시오.
- 과목을 선택한 순서대로 풀고, 답은 답안지의 '제1선택'란에서부터 차례대로 표시하시오.
- 문항에 따라 배점이 다르니, 각 물음의 끝에 표시된 배점을 참고하시오. 3점 문항에만 점수가 표시되어 있습니다. 점수 표시가 없는 문항은 모두 2점입니다.

1. 다음 글에 해당하는 인간과 환경과의 관계와 유사한 사례로 알맞은 것은?

> 이스라엘은 국토의 절반이 사막이어서 농경에 불리하지만, 사막 한가운데서 지하수를 개발하고, 북쪽 갈릴리 호수의 물을 250㎞ 떨어진 남쪽 네게브 사막까지 공급하는 시설을 설치하여 연간 약 6억 달러의 농산물을 수출할 수 있게 되었다.

① 건조 지역의 주민들은 강한 일사 때문에 흰색 옷을 입는다.
② 차이나타운 입구에는 붉은색 바탕에 황금빛 용무늬가 새겨진 패루가 있다.
③ 이집트는 나일강에 댐을 건설하여 용수를 확보했지만 삼각주는 축소되고 있다.
④ 도버 해협에 해저 터널이 건설되어 영국과 프랑스 간의 접근성이 향상 되었다.
⑤ 열대 우림 지역은 지면에서 올라오는 열과 침수를 방지하기 위해 고상식 가옥을 짓는다.

2. 지도에 표시된 A~E 바람에 대한 설명으로 알맞지 않은 것은? [3점]

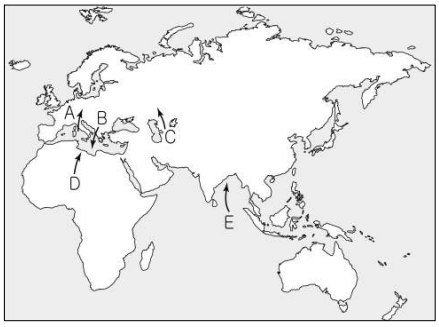

① A : 봄철 알프스 산지의 눈을 녹여 하천의 유량이 증가한다.
② B : 급격한 기온 하강으로 아드리아 해 연안에 냉해가 나타난다.
③ C : 흑토 지대에 비가 내려 밀 생산량이 증가한다.
④ D : 지중해 연안에서는 열풍으로 두통 환자가 증가한다.
⑤ E : 많은 비와 강한 바람을 동반하여 벵골만 지역에 풍수해가 나타난다.

3. (가), (나) 지역에 해당하는 기후 그래프를 <보기>에서 골라 알맞게 짝지은 것은?

> (가) 바다에는 유빙(流氷)과 우미아크(전통적인 고래잡이 배)를 타고 있는 이누이트인들이 보였고, 도로변에는 지표면보다 높은 곳에 설치된 송유관이 인상적이었다.
> (나) 이 곳의 여름은 기온도 높지 않고 선선하여 한국과 사뭇 달랐다. 하지만 여행 내내 비는 자주 내려 우산이 필요했다. 농장 지역을 방문하여 전형적인 혼합 농업의 모습을 보았다.

<보 기>

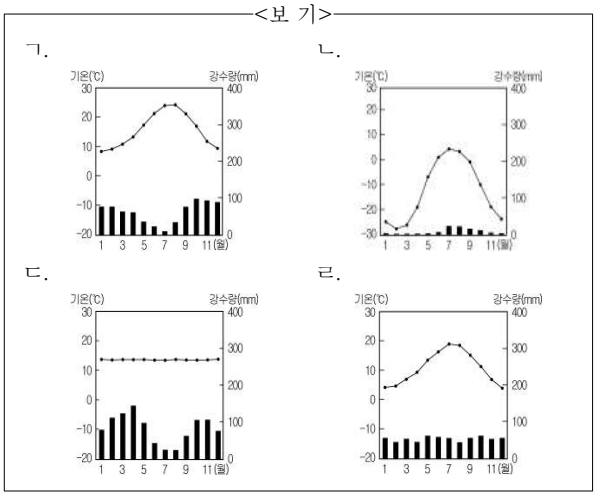

	(가)	(나)		(가)	(나)
①	ㄱ	ㄴ	②	ㄱ	ㄷ
③	ㄴ	ㄷ	④	ㄴ	ㄹ
⑤	ㄷ	ㄹ			

4. (가)~(다)의 식량 작물에 대한 설명으로 알맞은 것은? [3점]

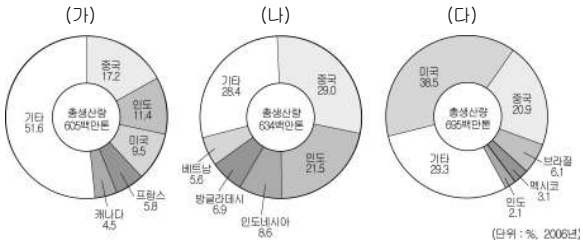

① (가)는 생산지와 소비지가 일치하여 국제 이동량이 적다.
② (나)는 기후와 토양에 대한 적응력이 커 재배 지역이 넓다.
③ (다)는 바이오 에너지의 원료로 활용되어 재배 면적이 확대되고 있다.
④ (가), (나)는 토양의 비옥도를 유지하기 위해 다른 작물과 함께 재배된다.
⑤ (가), (다)는 중앙아메리카가 원산지이며 전 세계로 확산되었다.

5. (가)~(라) 지형에 대한 설명으로 알맞은 것을 <보기>에서 고른 것은? [3점]

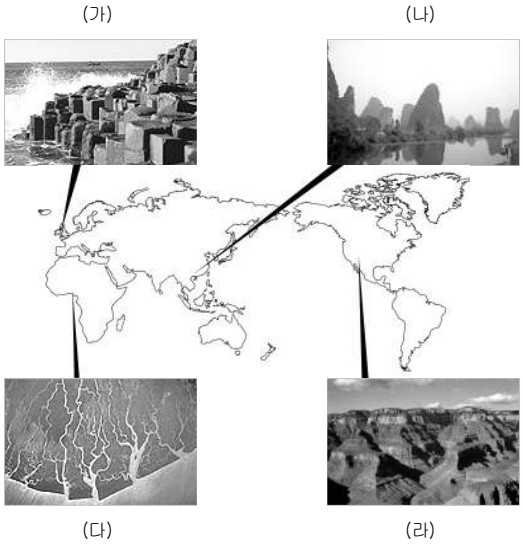

<보 기>

ㄱ. (가)는 바람의 침식 작용으로 형성되었다.
ㄴ. (나)는 기반암의 용식 작용으로 형성되었다.
ㄷ. (다)는 하천 운반 물질이 하구에 퇴적되어 형성되었다.
ㄹ. (라)는 점성이 큰 용암이 분출하여 형성되었다.

① ㄱ, ㄴ ② ㄱ, ㄷ ③ ㄴ, ㄷ
④ ㄴ, ㄹ ⑤ ㄷ, ㄹ

6. A~E에 대한 설명으로 알맞지 않은 것은? [3점]

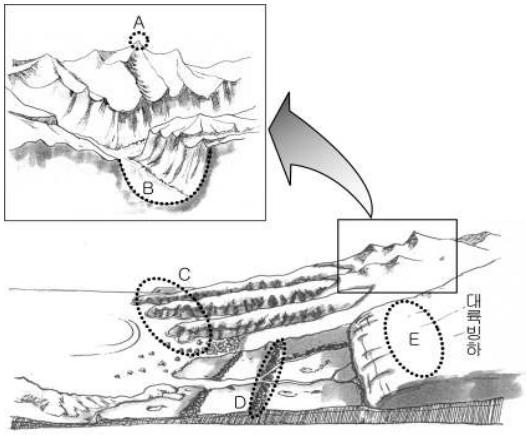

① A는 권곡의 발달로 형성된 봉우리이다.
② B의 급사면에는 빙하에 긁힌 자국이 있다.
③ C의 해안은 빙식곡이 침수되어 형성되었다.
④ D는 다양한 크기의 돌과 흙이 뒤섞여 있다.
⑤ E는 현재보다 최후 빙기에 분포 범위가 좁았다.

7. A~E 지역의 기후 특색으로 알맞은 것은? [3점]

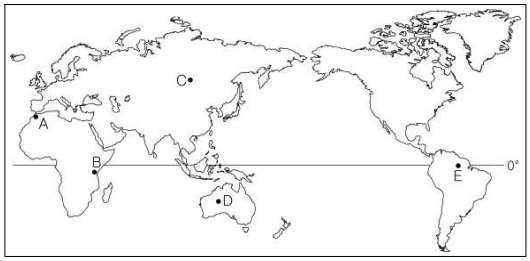

① A는 건기와 우기가 뚜렷하며 야생 동물의 천국을 이룬다.
② B는 연교차가 작고 연중 강수가 고르다.
③ C는 편서풍대에 속해 겨울철이 온난 습윤하다.
④ D는 계절풍의 영향으로 여름철이 무덥다.
⑤ E는 강한 일사로 상승기류가 형성되어 비가 자주 내린다.

8. (가), (나) 자원의 특징으로 알맞은 것을 <보기>에서 고른 것은?

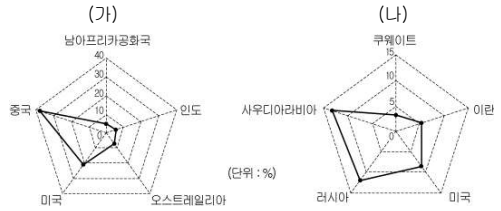

상위 5개 국가 생산량 비중(2004년)

<보 기>

ㄱ. (가)는 신기 습곡 산지 주변에 주로 매장되어 있다.
ㄴ. (나)는 내연 기관의 연료이며 화학 공업의 원료이다.
ㄷ. (가)는 (나)보다 열효율이 높고 운반과 저장이 용이하다.
ㄹ. (나)는 (가)보다 분포의 편재성이 커 국제 이동량이 많다.

① ㄱ, ㄴ ② ㄱ, ㄷ ③ ㄴ, ㄷ
④ ㄴ, ㄹ ⑤ ㄷ, ㄹ

9. A~E 지역에 대한 설명으로 알맞지 않은 것은?

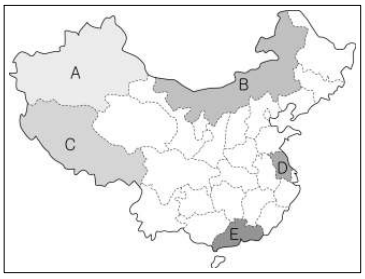

① A – 석유, 천연가스 등의 자원 개발이 활발하다.
② B – 주민들은 주로 이슬람 교를 믿고 정부와 충돌이 잦다.
③ C – 교통의 발달로 고유 문화가 한족(漢族)문화에 동화되고 있다.
④ D – 편리한 수운과 넓은 소비 시장을 배경으로 공업이 성장하였다.
⑤ E – 차, 벼 등 아열대성 작물이 재배되고 있다.

10. 여행 중 작성한 메모의 일부이다. 여행지를 일정대로 알맞게 배열한 것은?

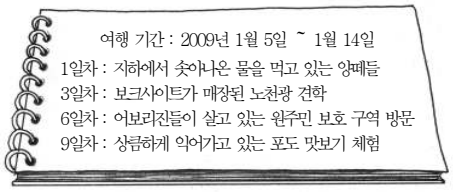

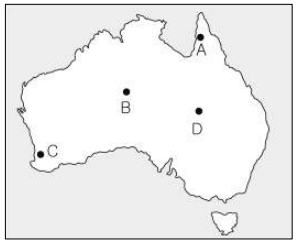

① A-B-C-D ② B-A-D-C ③ B-D-C-A
④ D-A-B-C ⑤ D-A-C-B

11. 지도와 관련된 설명으로 알맞지 <u>않은</u> 것은? [3점]

오사카 - 런던 간 항해로

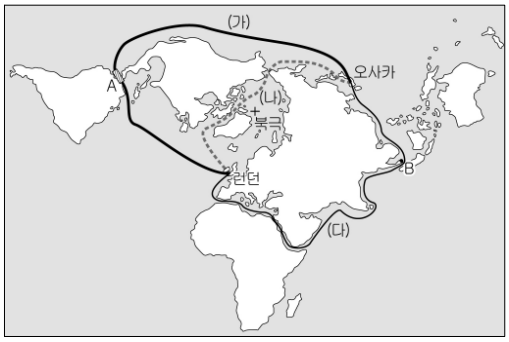

① (가)는 가장 최근에 개설되었다.
② (나)의 개척은 지구 온난화의 영향이다.
③ (다)는 아라비아인들이 동아시아 지역과 교역할 때 이용했다.
④ A의 건설로 대서양과 태평양의 접근성이 향상되었다.
⑤ B는 지리적 위치의 이점으로 중계 무역항이 발달되었다.

12. 다음 글에 해당하는 지역으로 알맞은 것을 지도에서 고른 것은?

> 초원 지대로 대규모의 기업적 방목이 이루어지고 있다. 최근에는 많은 자본을 투자해 알팔파와 같은 고급 품종의 초지를 조성하고 있다.

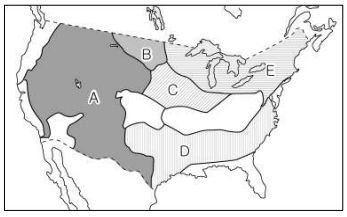

① A ② B ③ C ④ D ⑤ E

13. A~C 인종(민족)에 대한 설명으로 알맞은 것은? [3점]

미국의 인종(민족)별 구성 비율 변화

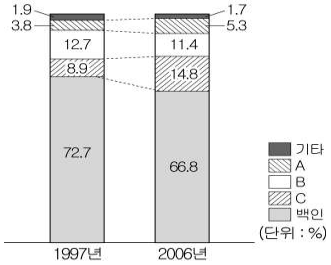

① A는 노예 무역을 통해 남부 지역에 주로 이주하였다.
② B는 가톨릭 교를 주로 믿으며 혼혈인의 비율이 높다.
③ C는 보호 구역에 거주하며 백인 문화에 동화되고 있다.
④ C는 높은 출산율과 지리적 접근성 때문에 증가율이 높다.
⑤ 미국에 정착한 시기는 A → B → C 순이다.

14. 지도에 표시된 지역의 공통적인 특징으로 알맞은 것은? [3점]

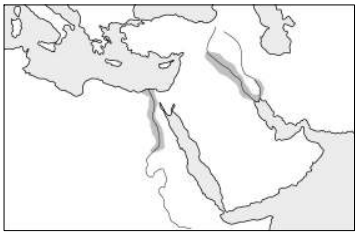

① 강수량이 비교적 풍부하다.
② 잦은 범람으로 인구 밀도가 낮다.
③ 주변 지역보다 경지 이용률이 높다.
④ 지하 관개 수로를 이용한 농업을 주로 한다.
⑤ 유목민들은 목축을 위해 초지를 찾아 이동한다.

15. 지도는 어느 작물의 전파 경로를 나타낸 것이다. 이 작물에 대한 설명으로 알맞지 <u>않은</u> 것은?

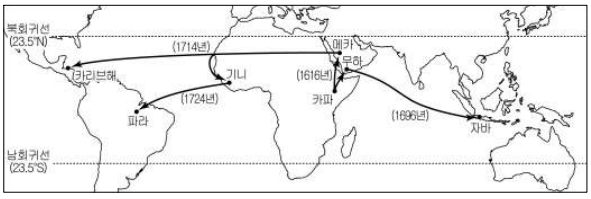

① 기호 식품으로 수요가 커 국제 이동량이 많다.
② 건기와 우기가 뚜렷한 지역에서 주로 재배된다.
③ 열매는 음료로 사용되고 껍질의 섬유층은 카펫 원료로 이용된다.
④ 에티오피아가 원산지이며 최근 베트남의 생산 비중이 높아지고 있다.
⑤ 다국적 기업들이 가공과 판매를 독점하여 이익 분배에 따른 불평등 문제가 심각하다.

16. A~E 지역과 관련 깊은 신문 기사 제목으로 적절하지 않은 것은? [3점]

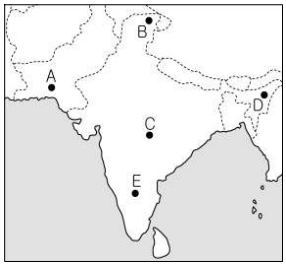

① A – 목욕하는 순례객들로 1년 내내 분주
② B – 끝없는 종교 분쟁, 수십만 목숨 앗아가
③ C – 면화 가격의 폭락으로 농민들 시름
④ D – 연강수량 11,000mm에도 물 부족 심각
⑤ E – 외국 기업 진출 확대로 IT 산업 폭발적 성장

17. 지도는 유럽 연합 가입국 현황을 나타낸 것이다. (가), (나) 지역의 변화를 알맞게 추론한 것을 <보기>에서 고른 것은?

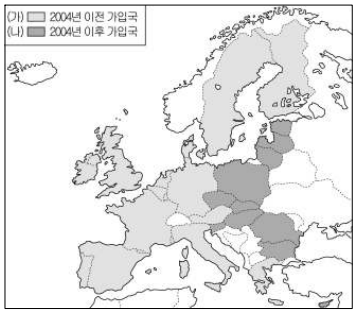

<보 기>
ㄱ. (가)는 저렴한 노동력을 확보할 수 있을 것이다.
ㄴ. (나)는 외국 기업의 투자 확대로 고용이 증가할 것이다.
ㄷ. (가)와 (나)지역 간의 문화적 통합이 이루어질 것이다.
ㄹ. (나)는 (가)를 대상으로 무역 장벽을 강화할 것이다.

① ㄱ, ㄴ ② ㄱ, ㄷ ③ ㄴ, ㄷ
④ ㄴ, ㄹ ⑤ ㄷ, ㄹ

18. A~E 국가의 특징으로 알맞은 것은?

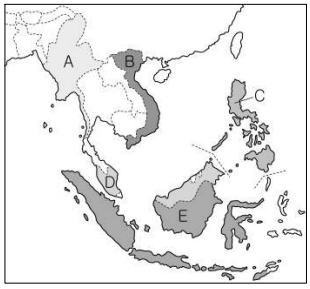

① A는 영어를 공용어로 사용하며 화산 활동이 빈번하다.
② B는 메콩강 상류의 댐 건설로 벼농사의 피해가 커지고 있다.
③ C는 천연 고무의 주산지이며 다양한 언어를 사용한다.
④ D는 OPEC 회원국이며 대부분 이슬람교를 믿는다.
⑤ E는 폐쇄된 계획 경제로 공업화가 늦어지고 있다.

19. 밑줄 친 ㉠~㉤에 대한 설명으로 알맞지 않은 것은? [3점]

○○에게
칠레는 우리나라와 ㉠13시간이나 시간차가 나서 적응하기 힘들었어. 하지만 이곳은 ㉡다양한 기후와 여러 가지 지형들을 경험할 수 있어서 매우 좋았지. 특히 ㉢아타카마 사막에서 푼타아레나스로 남하하면서 봤던 ㉣안데스 산맥과 독특한 해안의 모습은 영원히 잊지 못할 거야. 그리고 이곳에서 만난 친구들의 대다수는 ㉤메스티소였어.

① ㉠ – 칠레의 표준 경선은 60°W이다.
② ㉡ – 열대 우림 기후부터 툰드라까지 다양하다.
③ ㉢ – 한류의 영향으로 강수량이 적다.
④ ㉣ – 화산 활동으로 형성된 지형이 나타난다.
⑤ ㉤ – 유럽인과 원주민의 혼혈인이다.

20. (가), (나)에 해당하는 국가를 지도에서 골라 알맞게 연결한 것은?

(가) 1994년 인종 분리 정책을 폐지하고 인종 간의 화합을 추진하고 있으며, 금과 다이아몬드가 풍부하고 아프리카에서 경제 규모가 제일 크다.
(나) 석유가 국가 재정 수입의 80%를 차지하고 있는 아프리카 최대의 산유국이며 석유 판매 수익금의 분배 문제로 부족 간, 지역 간의 갈등이 심하다.

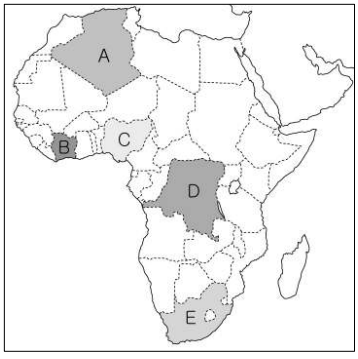

	(가)	(나)		(가)	(나)
①	A	B	②	B	D
③	D	C	④	E	A
⑤	E	C			

* 확인 사항
◦답안지의 해당란에 필요한 내용을 정확히 기입(표기)했는지 확인하시오.