2008학년도 4월 고3 전국연합학력평가 문제지

사회탐구 영역(세계지리)

제 4 교시 | 성명 | 수험번호 | 3 | 1

- ○ 먼저 수험생이 선택한 과목의 문제지인지 확인하시오.
- ○ 반드시 자신이 선택한 과목의 문제지를 풀어야 합니다.
- ○ 문제지에 성명과 수험 번호를 정확히 기입하시오.
- ○ 답안지에 수험 번호, 선택 과목, 답을 표기할 때에는 반드시 '수험생이 지켜야 할 일'에 따라 표기하시오.
- ○ 문항에 따라 배점이 다르니, 각 물음의 끝에 표시된 배점을 참고하시오. 3점 문항에만 점수가 표시되어 있습니다. 점수 표시가 없는 문항은 모두 2점씩입니다.

1. 자료의 괄호 안에 들어갈 국가를 지도에서 찾은 것은?

> 화폐에 사용하는 이미지 표현에는 국가의 자연 환경과 산업, 역사, 문화 등의 특징이 반영되어 있다.
> (　　)은(는) 사자·코끼리·들소·얼룩말 등의 대형 포유류가 살고 있는 자연환경을 반영하여 사진과 같은 화폐를 발행하고 있다.

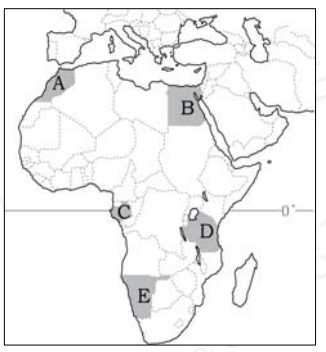

① A　② B　③ C　④ D　⑤ E

2. (가)와 같은 작용으로 형성된 A, B 호수의 공통점을 <보기>에서 고른 것은?

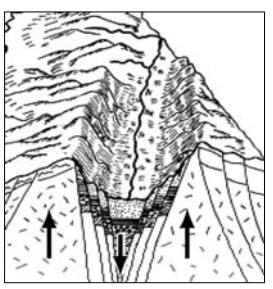

(가)

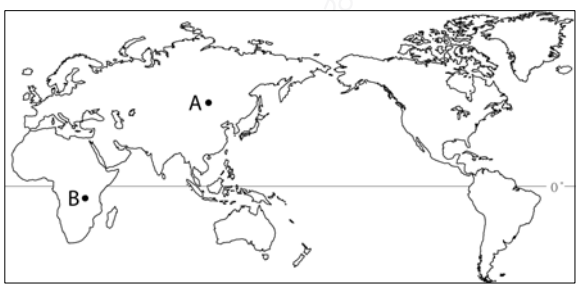

〈보 기〉

ㄱ. 단층 활동으로 형성된 호수이다.
ㄴ. 주로 외적 작용에 의해 형성되었다.
ㄷ. 주변 지역에 지진 활동이 활발하다.
ㄹ. 바다로부터 분리된 호수로 염도가 높은 편이다.

① ㄱ, ㄴ　② ㄱ, ㄷ　③ ㄴ, ㄷ　④ ㄴ, ㄹ　⑤ ㄷ, ㄹ

3. 자료는 A 지역에 대한 지리 정보이다. 이 지역에 대한 옳은 분석을 <보기>에서 고른 것은? [3점]

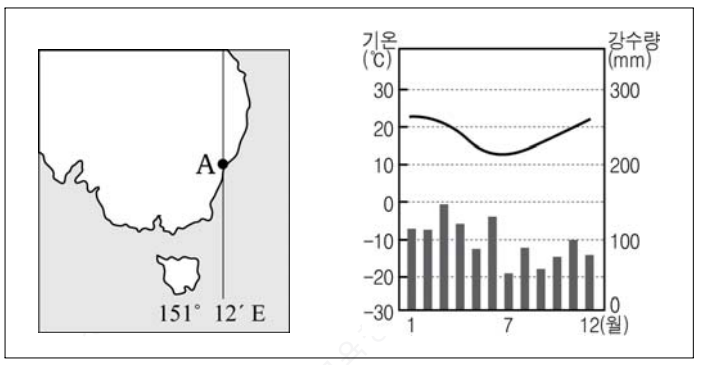

〈보 기〉

ㄱ. 냉대 습윤 기후 지역이다.
ㄴ. 남반구에 위치한 지역이다.
ㄷ. 우리나라와 낮과 밤이 반대인 지역이다.
ㄹ. 우리나라보다 표준시가 빠른 지역이다.

① ㄱ, ㄴ　② ㄱ, ㄷ　③ ㄴ, ㄷ　④ ㄴ, ㄹ　⑤ ㄷ, ㄹ

4. 사진과 같은 방법으로 어업이 행해지는 지역의 특징을 추론한 것으로 가장 적절한 것은?

① 사빈이 넓게 발달하였을 것이다.
② 파력 발전소 건설에 유리할 것이다.
③ 조류의 작용이 활발한 지역일 것이다.
④ 수심이 깊어 항구 발달에 유리할 것이다.
⑤ 만(灣)보다는 곶(串)에 위치한 지역일 것이다.

5. 그림은 어떤 지형이 형성되는 과정을 나타낸 것이다. 이러한 지형이 발달한 기후 지역의 경관으로 적절한 것은?

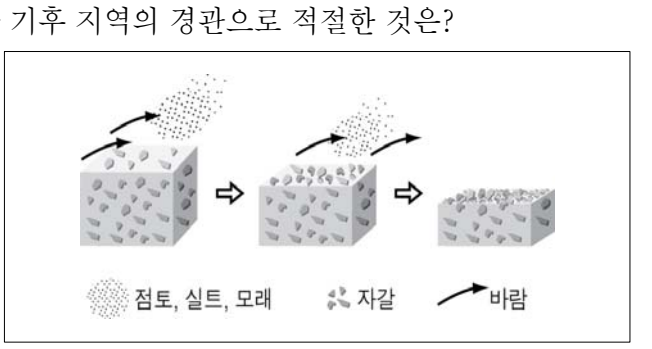

① 무리지어 이동하는 순록
② 차밭에서 잎을 따는 사람들
③ 카사바, 얌을 수확하는 모습
④ 경지 조성을 위해 삼림을 태우는 모습
⑤ 오아시스 주변에서 대추야자를 수확하는 사람들

6. (가)는 시기별 빙하의 범위를, (나)는 어떤 지형의 분포를 나타낸 것이다. (나)에 분포하는 지형에 대한 설명으로 가장 적절한 것은? [3점]

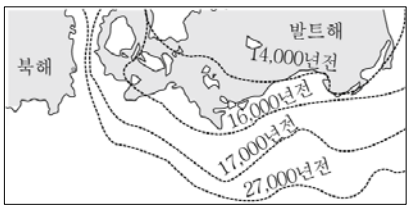

(가)

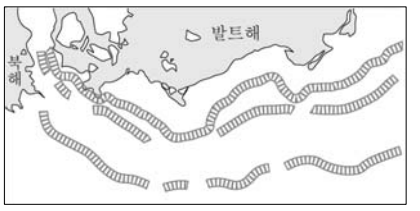

(나)

① 삼 면은 절벽, 한 면은 아래쪽으로 트인 반원 극장 모양일 것이다.
② 빙하 밑을 흐르는 하천이 운반하던 토사를 쌓아 만든 제방일 것이다.
③ 빙하의 이동으로 인한 침식 작용으로 형성된 평평한 지형일 것이다.
④ 숟가락을 엎어 놓은 모양으로 길쭉한 쪽은 빙하의 이동 방향과 일치할 것이다.
⑤ 빙하의 말단부를 따라 퇴적물이 집중적으로 쌓여 낮은 언덕 모양을 이룰 것이다.

[7 ~ 8] 그림은 기온과 강수량에 따른 식생 분포를 나타낸 것이다. 이를 보고 물음에 답하시오.

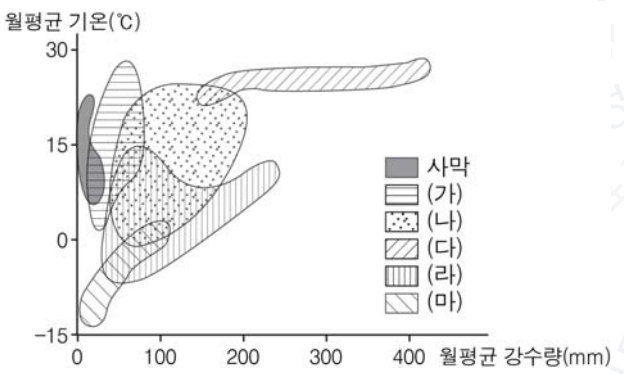

7. 위 그래프의 (가)에서 주로 나타나는 토양에 대한 설명으로 옳은 것은? [3점]
① 잿빛 흙으로 산성을 띠고 있다.
② 철과 알루미늄 산화물이 많이 집적되어 있다.
③ 염기, 점토와 같은 미립 물질이 제거되어 척박하다.
④ 유기물이 토양에 많이 공급되어 비옥한 흑토가 나타난다.
⑤ 탄산칼슘이 풍부하여 관개를 하면 농작물을 재배할 수 있다.

8. 지도 A, B 지역에 나타나는 식생을 위의 그래프에서 찾아 바르게 짝지은 것은?

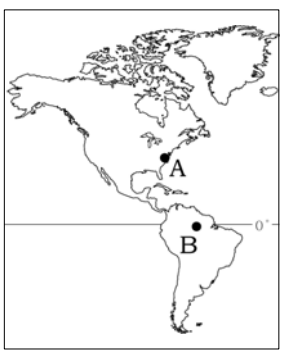

	A	B
①	(나)	(다)
②	(나)	(라)
③	(다)	(라)
④	(다)	(마)
⑤	(라)	(마)

9. 그래프는 토양의 깊이에 따른 온도 변화를 나타낸 것이다. 이와 같은 특성이 나타나는 지역에서 볼 수 있는 지형으로 적절한 것은? [3점]

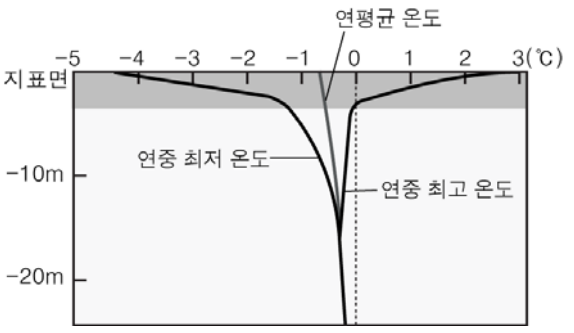

①

②

③

④

⑤

10. (가)와 같은 지형이 나타나는 해안 지역을 (나)에서 모두 찾은 것은?

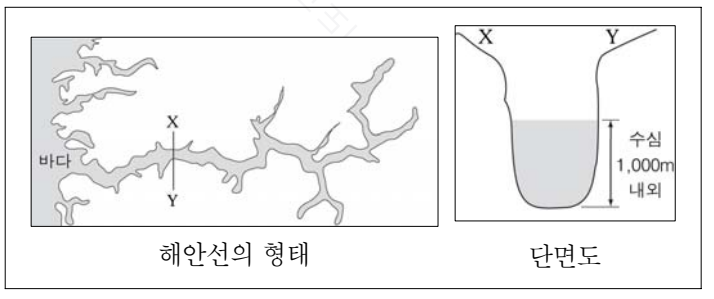

(가)

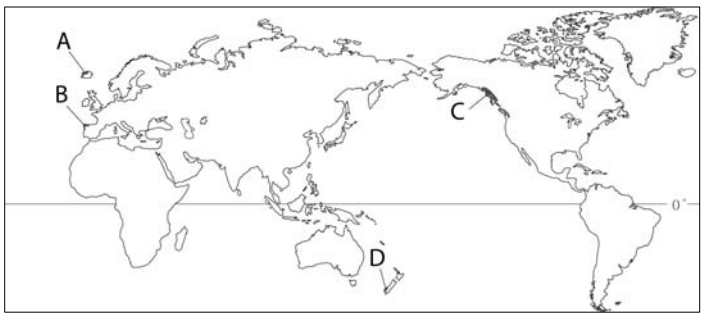

(나)

① A, D ② B, C ③ A, B, C
④ A, C, D ⑤ B, C, D

11. 다음은 외국에 살고 있는 친구가 보내 온 편지의 일부이다. 밑줄 친 '지역'의 기후 그래프로 적절한 것은? [3점]

> 지난 주 일요일에는 옆 집 아저씨가 일하는 곳을 구경시켜 주셨어. 아저씨가 일하는 제재소는 시내를 벗어나 끝없이 넓은 숲이 시작되는 곳에 있는데, 이 지역의 숲은 잎이 뾰족한 전나무로 되어 있더라. 베어낸 나무를 옮기는 길 옆에 깊게 패인 곳이 있어서 가보았는데 회백색 토양층이 보였어. 아저씨께서 이곳은 농사짓기에 좋은 땅은 아니라고 하셨어.

①
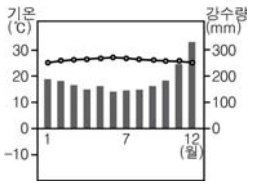

②
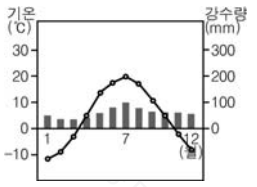

③
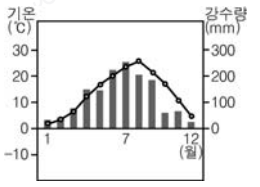

④
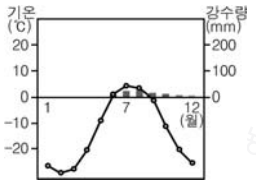

⑤
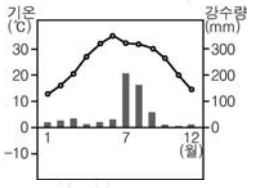

12. 다음 <조건>을 고려하여 여행을 할 경우에 항해가 순조로울 것으로 추정되는 구간을 지도에서 찾은 것은? [3점]

〈 조 건 〉
- ○ 항해 시에는 바람의 영향만을 고려한다.
- ○ 선박은 자체 동력이 없는 범선으로 한다.
- ○ 항해 시기는 적도저압대가 적도에 위치한 시기로 한다.

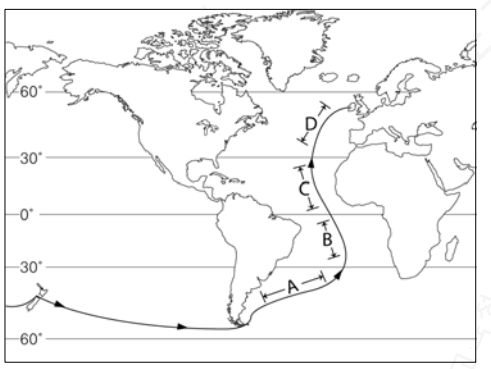

① A, B ② A, C ③ B, C ④ B, D ⑤ C, D

13. 지도에 검게 표시된 지역의 공통된 기후 특징으로 알맞은 것은?

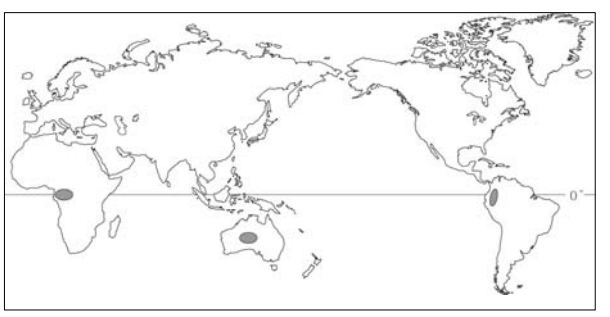

① 여름철이 서늘하다.
② 강수량보다 증발량이 많다.
③ 강수량의 연 변동률이 크다.
④ 연중 대류성 강수가 내린다.
⑤ 기온의 일교차가 연교차보다 크다.

〔14 ~ 15〕 지도를 보고 물음에 답하시오.

14. 다음은 위 지도의 ▨지역을 소개하는 글이다. 밑줄 친 ㉠ ~ ㉣에 관한 옳은 설명을 <보기>에서 고른 것은? [3점]

> 버스를 타고 호수 쪽으로 약 40~50분을 가다보면, 140m 정도의 야트막한 산이 보인다. 이곳에서는 가장 높은 산으로 ㉠ 우기에는 산허리가 선착장으로 변한다.
> 이 지역 사람들의 생활은 건기와 우기에 따라 뚜렷이 구분된다. 건기에는 이 ㉡ 호수의 일부가 벼농사를 지을 수 있는 평야로 변한다. 우기에는 메콩강 하류의 물이 역류하여 호수의 일부가 되며, ㉢ 가옥도 이 시기에 적응할 수 있는 독특한 형태로 지어진다. 특히 ㉣ 여름철 오후에는 짧은 시간 동안에 집중적인 폭우가 내리기도 한다.

〈 보 기 〉
ㄱ. ㉠ – 주변 하천의 하상계수가 작다.
ㄴ. ㉡ – 하천의 충적 작용으로 형성되었다.
ㄷ. ㉢ – 호수에 수상 가옥이 많이 나타난다.
ㄹ. ㉣ – 열대성 저기압의 영향이 크기 때문이다.

① ㄱ, ㄴ ② ㄱ, ㄷ ③ ㄴ, ㄷ ④ ㄴ, ㄹ ⑤ ㄷ, ㄹ

15. 지도에 표시된 A 지점의 월평균 하천 유량을 나타낸 그래프로 적절한 것은? [3점]

①
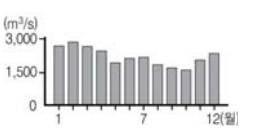

②
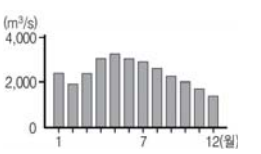

③
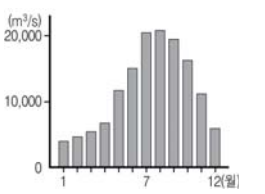

④
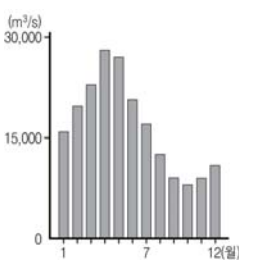

⑤
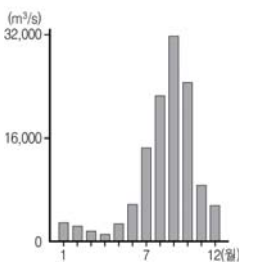

16. 그림은 지오가 해외 여행지에서 본 안내판의 일부이다. 지오가 다녀온 지역을 지도에서 찾은 것은?

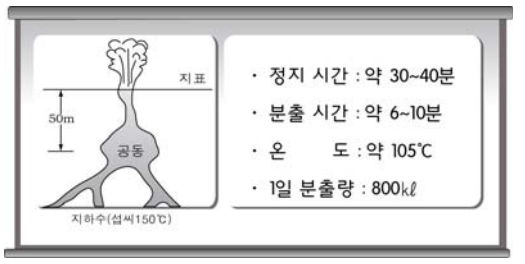

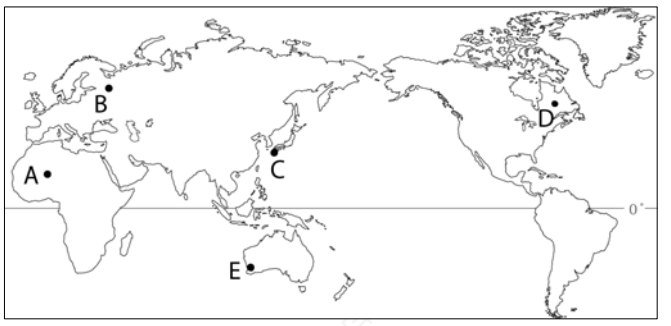

① A ② B ③ C ④ D ⑤ E

17. 밑줄 친 ㉠ ~ ㉤에 영향을 준 요인으로 옳지 않은 것은? [3점]

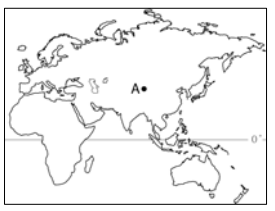

A 지역은 매우 낮은 지대로서 가장 낮은 곳은 해발 −150여m에 이른다. 이곳은 건조한 분지로 ㉠ 사구가 곳곳에 나타난다. 또한 ㉡ 여름철에는 한낮의 기온이 45℃ 이상으로 올라가기도 하지만 겨울철에는 매우 추워 영하 30℃ 정도까지 기온이 내려간다. 그리고 ㉢ 연강수량은 16㎜ 내외로 비를 구경하기 힘든 지역이다.
㉣ 이러한 기후가 나타나는 지역에서 포도를 재배할 수 있고, 나무를 심고, 곡식을 키울 수 있는 이유는 무엇일까? …(중략)… 멀리서 바라볼 때 ㉤ 톈산산맥의 눈은 신비스러운 느낌을 주지만, 오아시스를 중심으로 홍수를 일으키기도 한다.

① ㉠ – 바람의 퇴적 작용 ② ㉡ – 큰 대륙도
③ ㉢ – 아열대 고압대의 영향 ④ ㉣ – 관개수로의 이용
⑤ ㉤ – 계절에 따른 기온의 변화

18. 다음은 '세계의 기후' 단원에 대한 수업의 한 장면이다. (가)에 들어갈 내용으로 가장 적절한 것은? [3점]

교사 : 자료의 두 도시는 공통적으로 서안해양성 기후가 나타납니다. 그럼에도 불구하고 벤쿠버가 파리보다 강수량이 많은 이유는 무엇일까요?

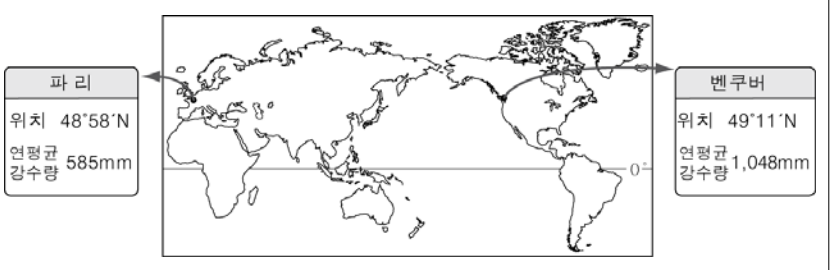

학생 : (가) 때문입니다.

① 격해도가 작기 ② 해발고도가 낮기
③ 배후 산지가 크기 ④ 한류의 영향이 크기
⑤ 편서풍이 강하게 불기

19. 다음 글의 배경이 되었을 것으로 추정되는 지역을 지도에서 찾은 것은?

1925년 1월, 전염병이 빠르게 마을 전역으로 퍼져나갔다. 그러나 이 마을의 병원에는 이 병을 치료할 백신이 없었다. 멀리 떨어진 대도시의 병원에 백신이 있었지만, 악천후로 비행기는 뜰 수 없었다.
사냥꾼들이 개썰매를 끌고 나섰다. 강추위와 강풍 속에서 열 다섯 명의 사냥꾼이 백신을 이어받으며 쉬지 않고 달려 144시간 만에 백신이 마을에 도착했다. 평소라면 2주일은 족히 걸리는 거리였으나, 개썰매를 이용한 사냥꾼들의 헌신적인 노력으로 마을 주민들의 생명을 구할 수 있었다.

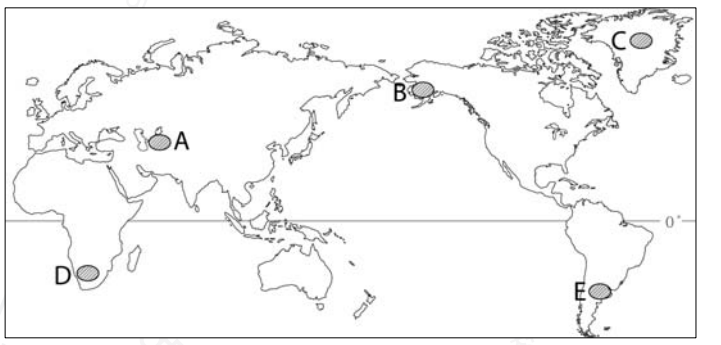

① A ② B ③ C ④ D ⑤ E

20. (가), (나) 지역에 대해 추론한 내용으로 적절한 것은?

지역	대표적인 식생	식생의 특징
(가)	동백나무	겨울 건조에 적응할 수 있도록 잎이 작고 두꺼우며 윤이 나는 특징이 있다.
(나)	코르크 참나무	여름 건조에 견딜 수 있도록 뿌리가 깊이 뻗고 잎이 작고 단단하다.

① (가)는 계절풍의 영향으로 벼농사에 유리할 것이다.
② (나)는 편서풍의 영향으로 혼합농업이 발달할 것이다.
③ (가), (나)는 라테라이트 토양이 넓게 분포할 것이다.
④ (가)는 (나)에 비해 기온의 연교차가 작게 나타날 것이다.
⑤ (가)는 대륙 서안에, (나)는 대륙 동안에 주로 나타날 것이다.

※ 확인사항
○ 문제지와 답안지의 해당란을 정확히 기입(표기)했는지 확인하시오.