2010학년도 6월 고2 전국연합학력평가 문제지

제 4 교시 사회탐구 영역(세계지리)

성명		수험 번호						2				

◦ 자신이 선택한 과목의 문제지인지 확인하시오.
◦ 문제지의 해당란에 성명과 수험 번호를 정확히 쓰시오.
◦ 답안지의 해당란에 성명과 수험 번호를 쓰고, 또 수험 번호와 답을 정확히 표시하시오.
◦ 선택한 과목 순서대로 문제를 풀고, 답을 표시하시오.
◦ 문항에 따라 배점이 다르니, 각 물음의 끝에 표시된 배점을 참고하시오. 3점 문항에만 점수가 표시되어 있습니다. 점수 표시가 없는 문항은 모두 2점입니다.

1. 사진을 설명하고 있는 글과 관련이 깊은 지리 학습의 주제로 가장 적절한 것은?

오스트레일리아의 울룰루(에어즈락)는 구조평야에 침식되지 않은 암석이 남아서 형성된 지형으로 원주민인 어보리진의 성스러운 곳이다.



인도의 타지마할은 무굴제국의 왕이 죽은 왕비를 위해 지은 이슬람 양식의 무덤으로 전 세계 관광객들로부터 사랑받는 곳이다.

① 위치 ② 입지 ③ 장소 ④ 이동 ⑤ 인간과 환경

2. 지도는 세계의 시간대를 나타낸 것이다. 이에 대한 옳은 설명을 <보기>에서 고른 것은? [3점]

( )안의 수치는 표준경선임.

<보 기>

ㄱ. 뉴욕은 샌프란시스코보다 빠른 시간대를 사용한다.
ㄴ. 본초자오선과 날짜변경선은 24시간의 시간차가 발생한다.
ㄷ. 앵커리지는 뉴욕과의 시간차보다 서울과의 시간차가 더 크다.
ㄹ. 지도상에 표시된 다섯 개의 도시 중에서 가장 늦은 시간대를 사용하는 곳은 테헤란이다.

① ㄱ, ㄴ ② ㄱ, ㄷ ③ ㄴ, ㄷ ④ ㄴ, ㄹ ⑤ ㄷ, ㄹ

3. 그래프는 기후 현상과 기후 요인의 일반적인 상관관계를 나타낸 것이다. 옳은 그래프만을 있는 대로 고른 것은? [3점]

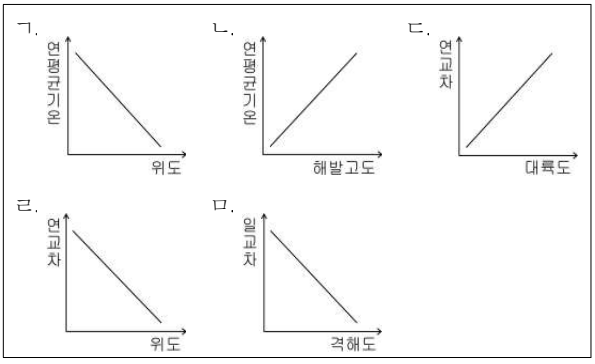

① ㄱ, ㄷ ② ㄱ, ㅁ ③ ㄴ, ㄷ
④ ㄱ, ㄷ, ㄹ ⑤ ㄴ, ㄹ, ㅁ

4. 지도의 세 지역에 나타난 현상에 공통적으로 영향을 미친 기후 요인은?

① 지형 ② 해류 ③ 격해도 ④ 수륙분포 ⑤ 해발고도

5. 다음은 스포츠 뉴스의 일부이다. 이를 통해 알 수 있는 A 도시의 기후 특성으로 옳은 것은?

특파원 : 오늘 볼리비아와 브라질의 축구 경기가 있었습니다. 객관적 전력은 브라질이 단연 압도적이나, 경기 결과는 볼리비아가 3대 0으로 이겼습니다. 천하무적 브라질도 이곳에서는 어쩔 수 없나 봅니다. 전반전부터 체력이 급격히 저하되었고, 골잡이인 ○○○ 선수가 호흡 곤란으로 쓰러진 것이 치명적이었습니다. 이 도시가 '원정팀의 무덤'이라는 말이 괜히 나온 말은 아닌 것 같습니다.

① 일교차가 연교차보다 크다.
② 4계절이 뚜렷한 온대 기후이다.
③ 열대 이동성 저기압이 자주 통과한다.
④ 중위도 고압대에 위치하여 고온건조하다.
⑤ 상승 기류로 인하여 스콜이 자주 내린다.

6. (가), (나)와 같은 원리에 의해 발생하는 바람을 지도에서 찾아 바르게 짝지은 것은?

(가)

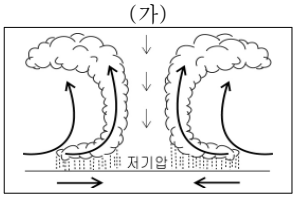

(나)

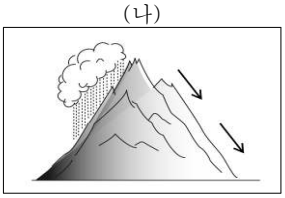

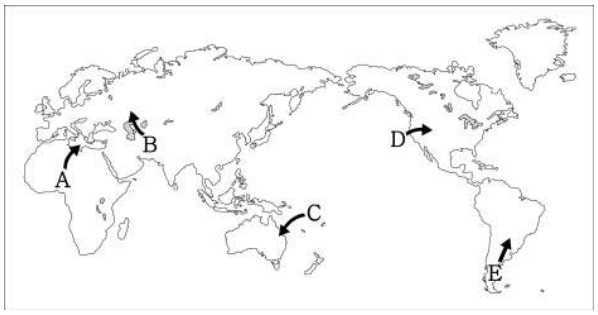

	(가)	(나)		(가)	(나)
①	A	B	②	A	D
③	B	E	④	C	D
⑤	C	E			

7. 어느 학생이 쓴 여행기의 일부이다. 이 지역의 기후 그래프로 옳은 것은?

> 이곳을 여행하는 기간 내내 알람 시계를 맞춘 것처럼 오후 3시가 되면 비가 내렸다. 서둘러 아침을 먹고 거리를 걷는 동안 여기저기서 화려한 색감의 빨래들이 꽃잎과 나비처럼 느껴졌다. 문득 이 지역의 사람들은 빨래를 언제 말리는지 궁금해서 물어보았더니 아침 일찍 널었다가 비 오기 전에 다시 걷는다고 했다. 그 사이에 빨래가 다 마르는 게 참 신기했다. 현지인 친구는 일 년 내내 이 같은 광경을 볼 수 있다고 이야기해 주었다.

①
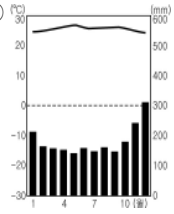
②
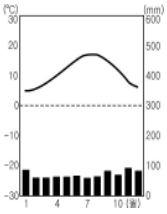
③
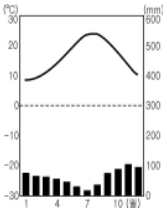
④
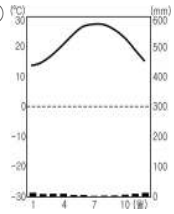
⑤
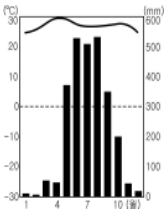

8. 가상대륙 ㉠~㉤에서 나타나는 기후와 관련된 지역 특색을 바르게 연결한 것은? [3점]

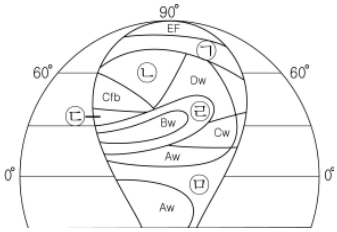

		식 생	성대 토양	산업 활동
①	㉠	지의류	체르노젬	수렵, 유목
②	㉡	타이가	포드졸	임업
③	㉢	조엽수림	프레리 토	화전농업
④	㉣	경엽수림	갈색토	수목농업
⑤	㉤	사바나	라테라이트 토	플랜테이션

9. 다음은 인터넷 게시판의 일부이다. 질문에 대한 댓글 ㉠~㉤ 중 적절하지 않은 것은? [3점]

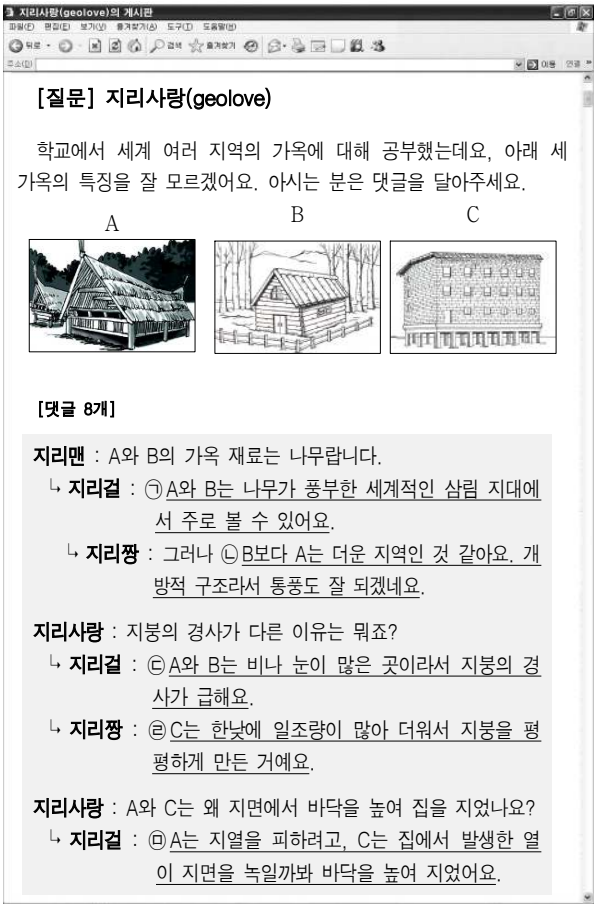

지리사랑(geolove)의 게시판

[질문] 지리사랑(geolove)

학교에서 세계 여러 지역의 가옥에 대해 공부했는데요, 아래 세 가옥의 특징을 잘 모르겠어요. 아시는 분은 댓글을 달아주세요.

A B C

[댓글 8개]

지리맨 : A와 B의 가옥 재료는 나무랍니다.
↳ 지리걸 : ㉠A와 B는 나무가 풍부한 세계적인 삼림 지대에서 주로 볼 수 있어요.
↳ 지리짱 : 그러나 ㉡B보다 A는 더운 지역인 것 같아요. 개방적 구조라서 통풍도 잘 되겠네요.

지리사랑 : 지붕의 경사가 다른 이유는 뭐죠?
↳ 지리걸 : ㉢A와 B는 비나 눈이 많은 곳이라서 지붕의 경사가 급해요.
↳ 지리짱 : ㉣C는 한낮에 일조량이 많아 더워서 지붕을 평평하게 만든 거예요.

지리사랑 : A와 C는 왜 지면에서 바닥을 높여 집을 지었나요?
↳ 지리걸 : ㉤A는 지열을 피하려고, C는 집에서 발생한 열이 지면을 녹일까봐 바닥을 높여 지었어요.

① ㉠ ② ㉡ ③ ㉢ ④ ㉣ ⑤ ㉤

10. 다음은 환경 문제를 다룬 신문 기사의 일부이다. 이와 같은 위기에 처한 공통적인 원인으로 가장 적절한 것은? [3점]

○ ○ 신 문 2018년 ○월 ○일

△△△에서 선정한 사라질 위기에 처한 지구촌 10대 수출품

1. 이탈리아의 파스타
2. 프랑스의 와인
3. 아르헨티나의 꿀
4. 독일의 맥주
5. 베트남의 쌀
6. 에스파냐의 과일과 야채
7. 몰디브의 관광 자원
8. 북유럽의 보드카
9. 미국 콜로라도의 스키장
10. 말리의 면화

① 중금속 축적으로 인한 토양 오염
② 공업 시설 집중으로 인한 산성비
③ 화학 비료 사용 증가로 인한 하천 오염
④ 프레온 가스 사용 증가로 인한 오존층 파괴
⑤ 화석 연료 사용 증가로 인한 지구 평균 기온 상승

11. A~C는 세계 대지형을 나타낸 것이다. 이에 대한 옳은 설명을 <보기>에서 고른 것은?

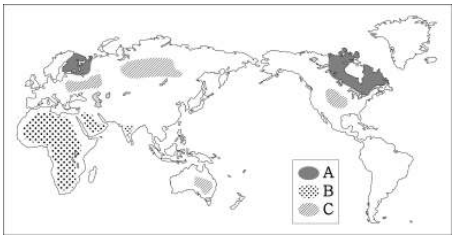

<보 기>
ㄱ. A는 신생대에 형성되어 지진과 화산활동이 활발하다.
ㄴ. B는 금과 철광석이, C는 석유와 천연가스가 주로 매장되어 있다.
ㄷ. B는 A와 비슷한 시기에 형성되었으나 A보다 평균 해발 고도가 높다.
ㄹ. C는 오랫동안 침식을 받아 대륙 내부에 형성된 낮고 넓은 구조평야이다.

① ㄱ, ㄴ ② ㄱ, ㄷ ③ ㄴ, ㄷ ④ ㄴ, ㄹ ⑤ ㄷ, ㄹ

12. 사진과 모식도와 같은 지형을 볼 수 있는 지역의 기온 분포로 옳은 것은? [3점]

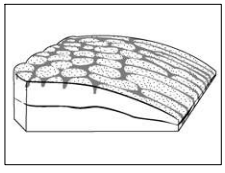

(단위 : ℃)

	1월	2월	3월	4월	5월	6월	7월	8월	9월	10월	11월	12월
①	8.0	8.8	10.6	13.4	17.3	21.0	23.6	23.8	21.0	16.8	12.4	9.1
②	9.0	8.7	8.9	8.5	7.9	6.8	6.4	7.7	8.5	9.7	10.4	9.7
③	-9.2	-7.7	-2.5	5.4	13.2	16.6	18.2	16.3	10.9	5.0	-1.4	-6.1
④	-13.9	-15.9	-13.1	-8.0	2.0	7.7	9.8	9.1	5.9	-2.2	-8.7	-13.7
⑤	-3.0	-10.0	-17.6	-20.6	-21.5	-23.0	-25.3	-26.3	-25.3	-18.8	-9.6	-3.3

13. 지도에 표시된 지역의 지형 형성 작용과 관련된 설명으로 옳은 것은? [3점]

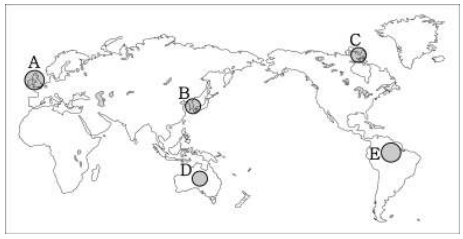

<보 기>
ㄱ. A는 B보다 범람원이 잘 형성된다.
ㄴ. C는 결빙과 융해의 반복으로 경사면의 토양 이동이 활발하다.
ㄷ. D는 B보다 기계적 풍화작용이 활발하다.
ㄹ. E는 일시적 폭우로 인해 포상 홍수 침식이 활발하다.

① ㄱ, ㄴ ② ㄱ, ㄷ ③ ㄴ, ㄷ ④ ㄴ, ㄹ ⑤ ㄷ, ㄹ

14. (가), (나)는 건조 지역에서 볼 수 있는 지형이다. 두 지형의 형성 작용을 A~D에서 찾아 바르게 짝지은 것은?

(가)

(나)

침식작용 — 바람 ····· A / 물 ····· B
퇴적작용 — 바람 ····· C / 물 ····· D

	(가)	(나)
①	A	C
②	B	D
③	C	A
④	C	B
⑤	D	B

15. 다음 자료에서 설명하는 지형 형성 작용과 관련 있는 호수를 지도에서 고르면? [3점]

한랭 기후 지역에 눈이 내려 쌓이기 시작하면 눈의 밀도가 증가하여 빙하가 형성된다. 빙하가 두꺼워질수록 압력이 증가하고 경사면에 형성된 빙하는 중력 방향으로 흘러내리면서 땅을 침식시킨다. 빙하의 무게에 의해 지각이 가라앉은 부분이나 빙하의 침식에 의해 형성된 와지에 물이 채워지면 빙하호가 탄생한다.

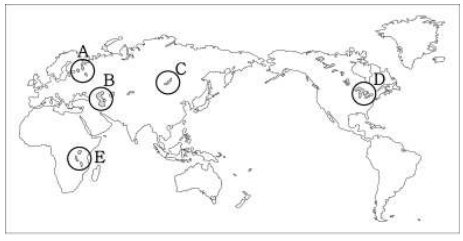

① A, C ② A, D ③ B, D ④ B, E ⑤ C, E

16. (가), (나)지형의 특징으로 옳은 것을 <보기>에서 고른 것은?

(가)

(나)

<보 기>

ㄱ. (가)는 지진이, (나)는 하천의 퇴적 작용이 활발하다.
ㄴ. (가)는 내인적 작용이, (나)는 외인적 작용이 진행되고 있다.
ㄷ. (가)는 고온다습한 지역에, (나)는 한랭건조한 지역에 잘 발달한다.
ㄹ. (가), (나)에 분포하는 토양은 기반암의 특성이 강하게 나타난다.

① ㄱ, ㄴ ② ㄱ, ㄷ ③ ㄴ, ㄷ ④ ㄴ, ㄹ ⑤ ㄷ, ㄹ

17. 화살표 방향으로 각 지역을 여행하면서 기록한 내용으로 옳지 않은 것은? [3점]

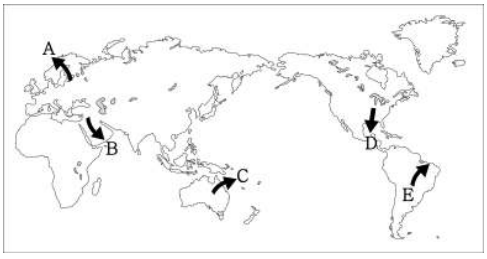

① A : 협곡 사이로 바닷물이 들어온 해안이 펼쳐졌다.
② B : 사막 가운데 모래 언덕과 흔적만 남은 물길이 있었다.
③ C : 바다의 수많은 산호초 때문에 배가 다니기 불편했다.
④ D : 하구에 새의 발처럼 생긴 특이한 삼각주를 볼 수 있었다.
⑤ E : 고산 지대에 만년설이 쌓인 뿔 모양의 산봉우리가 우뚝 서 있었다.

18. 지도는 어떤 자원의 매장량이 많은 5대 국가를 나타낸 것이다. 이 자원에 대한 설명으로 옳은 것은?

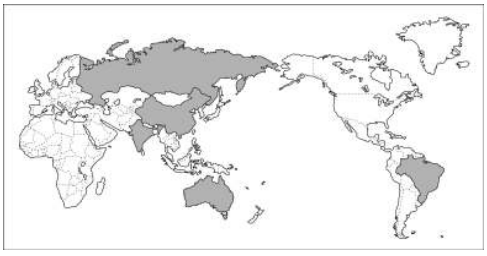

① 근대 기계 공업의 기초가 되는 원료 자원이다.
② 전기 및 통신 산업의 발달로 최근 수요가 급증하고 있다.
③ 질량이 가벼워 항공기 기체 및 각종 건축 자재로 이용된다.
④ 변하지 않는 성질 때문에 과거 화폐나 귀금속으로 사용되었다.
⑤ 통조림 용기나 술잔과 같은 관광 상품을 만드는 데 주로 이용된다.

19. 표는 세계 주요 식량 작물 (가), (나)의 각국 생산 비중을 나타낸 것이다. 작물 (가), (나)의 상대적인 특징을 바르게 짝지은 것은?

(가)		(나)	
국가	생산비중(%)	국가	생산비중(%)
중국	28.4	중국	18.0
인도	21.9	인도	12.5
인도네시아	8.7	미국	9.2
방글라데시	6.5	러시아	8.2
베트남	5.4	프랑스	5.4
기타	29.1	기타	46.7

(2007년)

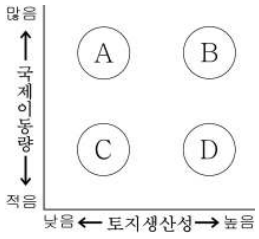

	(가)	(나)		(가)	(나)
①	A	B	②	B	C
③	C	A	④	D	A
⑤	D	B			

20. 다음은 '세계의 문화권' 단원의 수행 평가지이다. 각 문항에 대한 정답으로 모두 옳은 것은? [3점]

<세계지리 수행 평가>

▶ 다음 글을 읽고 내용이 맞으면 ○, 틀리면 X로 답하시오.

1. 힌두교는 고행과 선행을 중시하는 유일신 사상으로 건조 문화권의 형성에 큰 영향을 주었다. (　　)
2. 이슬람교는 돼지를 부정하게 여기기 때문에, 힌두교는 소를 신성시하기 때문에 각각 먹기를 금기시한다. (　　)

▶ 다음은 앵글로아메리카와 라틴아메리카의 문화적 차이점을 서술한 글이다. 빈칸 안에 들어갈 적절한 단어를 쓰시오.

앵글로아메리카와 라틴아메리카는 유럽 문화의 이식 과정에서 문화적 차이점이 나타난다. 앵글로아메리카는 퀘벡을 제외하고 주로 3. [　　]을(를) 사용하며, 개신교를 믿는 사람들의 비율이 높다. 반면에 라틴아메리카는 이베리아 반도 국가들의 영향을 크게 받았기 때문에 브라질은 포르투갈 어를, 그 외의 대부분 국가들은 에스파냐 어를 사용한다. 또한 4. [　　]을(를) 믿는 사람들의 비율이 매우 높게 나타난다.

	1	2	3	4
①	○	○	영어	개신교
②	○	X	프랑스 어	가톨릭 교
③	X	○	영어	가톨릭 교
④	X	○	프랑스 어	개신교
⑤	X	X	영어	개신교

※ 확인 사항
문제지와 답안지의 해당란을 정확히 기입(표기)했는지 확인하시오.