제 4 교시

사회탐구 영역 (지리)

성명		수험번호						1				

- 자신이 선택한 과목의 문제지인지 확인하시오.
- 문제지에 성명과 수험번호를 정확히 써 넣으시오.
- 답안지에 성명과 수험번호를 써 넣고, 또 수험번호와 답을 정확히 표시하시오.
- 과목을 선택한 순서대로 풀고, 답은 답안지의 '제1선택'란에서부터 차례대로 표시하시오.
- 문항에 따라 배점이 다르니, 각 물음의 끝에 표시된 배점을 참고하시오. 3점 문항에만 점수가 표시되어 있습니다. 점수 표시가 없는 문항은 모두 2점입니다.

1. 자료는 가상 국가의 영역 모식도이다. 이에 대한 설명으로 옳은 것은?

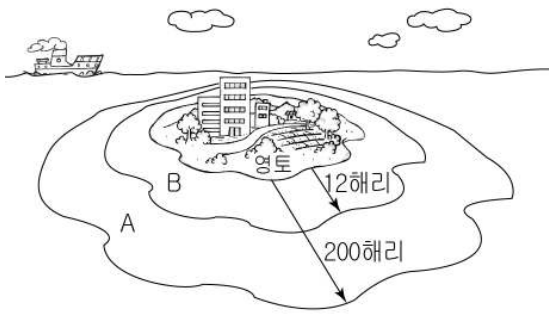

① A는 연안국이 자원에 대한 배타적 권한을 갖는다.
② B의 기선은 만조 때의 해안선이다.
③ A와 B의 상공은 영공에 해당한다.
④ 우리나라의 울릉도에서 B는 직선기선을 적용한다.
⑤ 타국 선박이 A를 지나갈 경우 사전 허가를 받아야 한다.

2. 지형도에 대한 분석으로 옳은 것은? [3점]

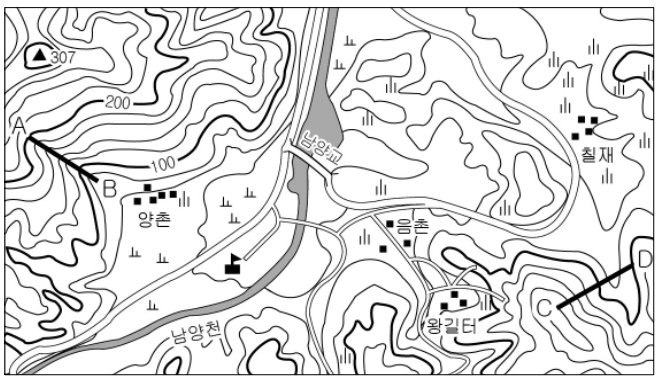

① 지도의 축척은 1:25,000이다.
② 칠재 주변에서는 벼농사를 한다.
③ 학교는 양촌의 남서쪽에 위치한다.
④ A-B는 계곡에 해당한다.
⑤ C-D의 단면은 로 나타난다.

3. 자료에 나타난 인간과 자연과의 관계와 유사한 사례로 적절한 것은? [3점]

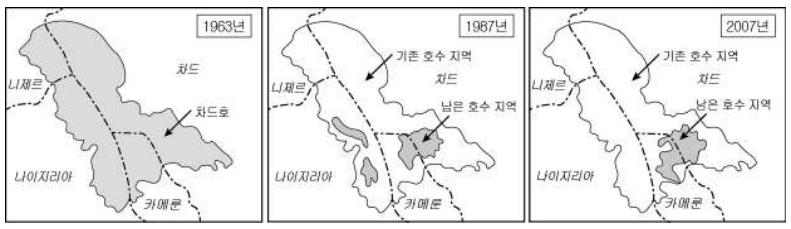

아프리카의 차드호는 주변국의 인구 증가로 인해 호수로 유입하는 강물을 다른 곳으로 돌려 사용하면서 면적이 1/10로 줄어들었다. 호수 면적의 감소로 어민들은 어업 활동을 포기하였고 생존의 위협까지 받고 있다.

① 다랭이 마을에서는 급한 경사면을 개간하여 논농사를 짓고 있다.
② 남부 지방의 전통 가옥은 북부 지방에 비해 개방적인 성격이 강하다.
③ 안산시의 '국경 없는 마을'에서는 다양한 외국인의 문화를 접할 수 있다.
④ 충주댐이 건설된 이후 주변 지역의 안개 일수가 많아지고 냉해가 증가하였다.
⑤ 거가대교가 완공된 후 부산시와 거제시 간의 통행 시간이 단축되고 물류 비용이 감소하였다.

4. 그림과 같은 기후 현상이 나타나는 지역을 지도에서 고른 것은? [3점]

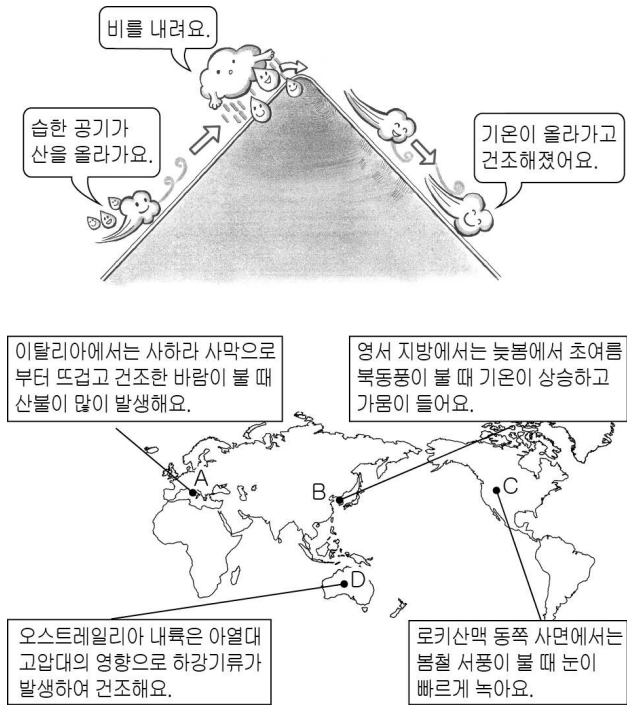

① A, B ② A, C ③ B, C ④ B, D ⑤ C, D

5. 밑줄 친 ㉠~㉤에 대한 설명으로 옳지 않은 것은? [3점]

> 조선 후기에 제작된 대동여지도는 ㉠ 지도표를 사용하였으며, ㉡ 목판본으로 제작되었다. 또한, 남북 22단, 동서 19면으로 나누어 병풍처럼 접고 펼 수 있게 만든 ㉢ 분첩절첩식 지도이다. 도로에는 ㉣ 10리마다 방점을 표시하였고, 하천은 ㉤ 쌍선과 단선으로 표현하였다.

① ㉠ – 기호를 통해 논밭의 분포를 알 수 있다.
② ㉡ – 지도의 인쇄와 보급에 유리하다.
③ ㉢ – 이동시 휴대가 편리하다.
④ ㉣ – 두 고을 간의 거리를 파악할 수 있다.
⑤ ㉤ – 배가 다닐 수 있는 하천을 구분할 수 있다.

6. (가), (나)와 같은 통계 지도의 유형으로 가장 적절하게 표현할 수 있는 지리 정보를 <보기>에서 고른 것은?

(가)
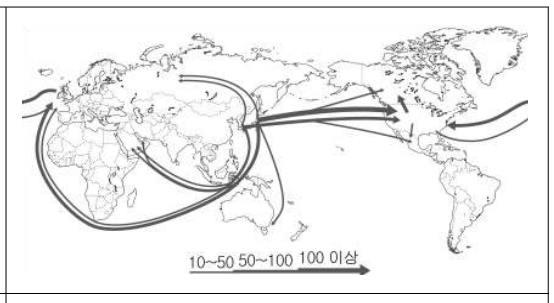

(나)
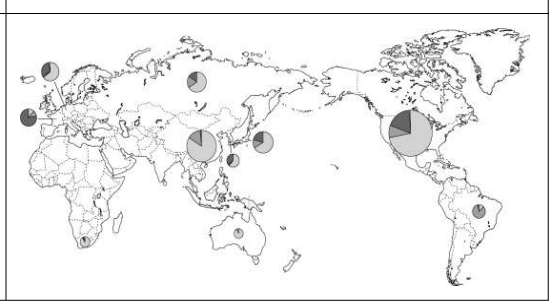

<보 기>

ㄱ. 세계 연평균 기온　　ㄴ. 국가별 인구 밀도
ㄷ. 세계의 석유 이동　　ㄹ. 국가별 농산물 생산량

	(가)	(나)		(가)	(나)
①	ㄱ	ㄴ	②	ㄱ	ㄷ
③	ㄴ	ㄷ	④	ㄴ	ㄹ
⑤	ㄷ	ㄹ			

7. 자료와 같은 농업 경관을 보이는 지역을 지도에서 고른 것은?

> 고온 건조한 여름철에는 코르크, 올리브, 오렌지, 포도 등을 재배하는 수목 농업이 이루어지며, 온난 습윤한 겨울철에는 밀, 보리 등을 재배하는 곡물 농업이 이루어진다.

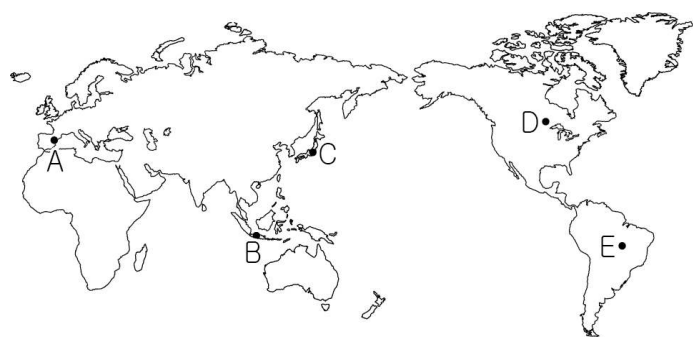

① A　② B　③ C　④ D　⑤ E

8. 비슷한 위도에 위치한 A~C 지역의 기온 자료로 적합한 것을 <보기>에서 고른 것은? [3점]

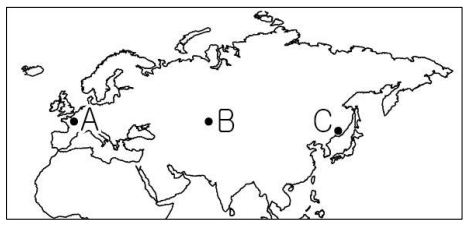

<보 기>

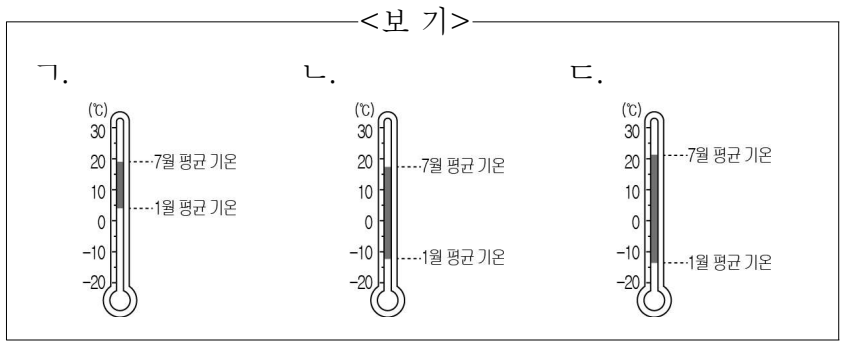

	A	B	C		A	B	C
①	ㄱ	ㄴ	ㄷ	②	ㄱ	ㄷ	ㄴ
③	ㄴ	ㄱ	ㄷ	④	ㄴ	ㄷ	ㄱ
⑤	ㄷ	ㄱ	ㄴ				

9. 교사의 수업 내용 중 (가)에 들어갈 내용으로 옳은 것은?

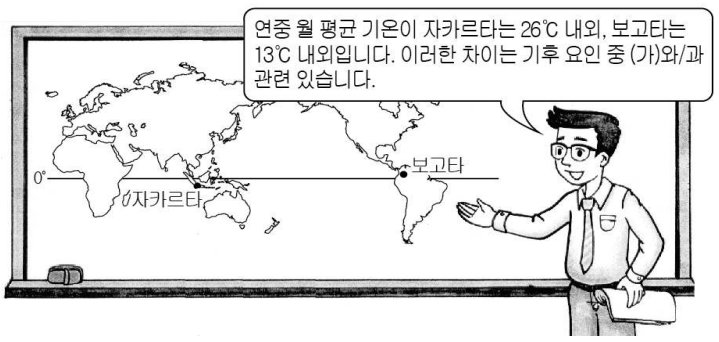

① 해류　② 기단　③ 격해도
④ 수륙 분포　⑤ 해발 고도

10. 밑줄 친 지역의 기후 그래프로 알맞은 것은? [3점]

> 이 지역은 겨울이 길고 한랭하며, 기온의 연교차가 크다. 타이가라 불리는 침엽수림이 분포하여 임업이 발달하였다. 토양은 유기질이 잘 분해되지 않아 척박하고 회백색을 띤다.

①
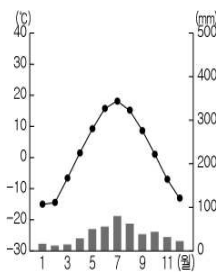
②
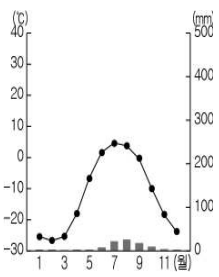
③
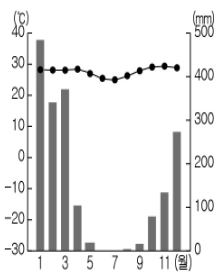
④
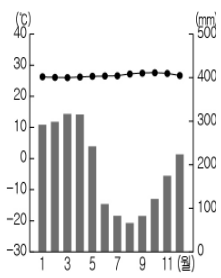
⑤
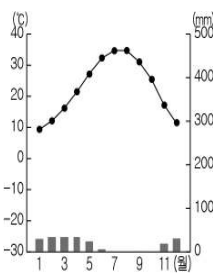

11. (가)~(다)와 같은 자연 경관이 나타나는 지역을 지도의 A~C에서 고른 것은?

(가)

(나)

(다)

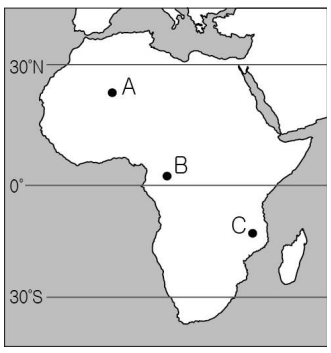

	(가)	(나)	(다)		(가)	(나)	(다)
①	A	B	C	②	A	C	B
③	B	A	C	④	B	C	A
⑤	C	A	B				

12. (가), (나) 곡류 하천의 일반적 특성으로 옳지 않은 것은? [3점]

(가)

(나)

① (가) 주변에는 하안단구가 발달한다.
② (가)는 주로 하천의 상류에서 발달한다.
③ (나)에는 하중도, 우각호가 발달한다.
④ (나)는 측방 침식보다 하방 침식이 우세하다.
⑤ (나)는 (가)에 비해 홍수 시 범람의 위험이 크다.

13. A, B 산맥에 대한 옳은 설명을 <보기>에서 고른 것은?

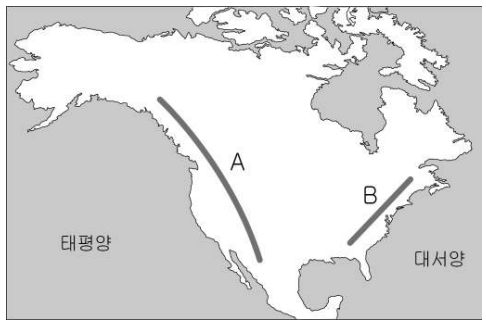

<보 기>
ㄱ. A에서는 지각운동이 활발하다.
ㄴ. B에는 석유가 주로 매장되어 있다.
ㄷ. A는 B보다 형성 시기가 늦다.
ㄹ. B는 A보다 해발 고도가 높고 험준하다.

① ㄱ, ㄴ ② ㄱ, ㄷ ③ ㄴ, ㄷ ④ ㄴ, ㄹ ⑤ ㄷ, ㄹ

14. 그림과 같은 과정을 통해 형성되는 하천 퇴적 지형에 대한 옳은 설명을 <보기>에서 고른 것은? [3점]

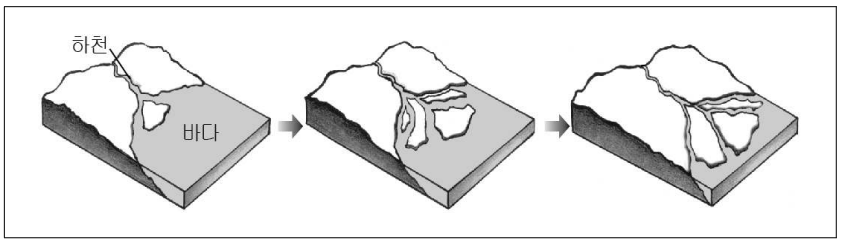

<보 기>
ㄱ. 조차가 작은 지역에서 주로 발달한다.
ㄴ. 하천의 토사 공급량이 많을수록 유리하다.
ㄷ. 지표수 부족으로 밭이나 과수원으로 이용된다.
ㄹ. 자갈과 같은 입자가 큰 물질로 구성되어 있다.

① ㄱ, ㄴ ② ㄱ, ㄷ ③ ㄴ, ㄷ ④ ㄴ, ㄹ ⑤ ㄷ, ㄹ

15. (가), (나) 해안 지형에 대한 옳은 설명을 <보기>에서 고른 것은?

(가)

(나)

<보 기>
ㄱ. (가)는 만입부에서 발달한다.
ㄴ. (나)는 해수욕장으로 이용된다.
ㄷ. (가)는 (나)보다 파랑의 침식 작용이 활발하다.
ㄹ. (가)는 사빈과 사구, (나)는 시 스택이 나타난다.

① ㄱ, ㄴ ② ㄱ, ㄷ ③ ㄴ, ㄷ ④ ㄴ, ㄹ ⑤ ㄷ, ㄹ

16. 자료를 통해 공통적으로 파악할 수 있는 내용으로 옳은 것은? [3점]

진흙으로 만든 말리의 이슬람 사원

한옥 형태를 띤 강화 성공회 성당

① 외래 문화의 전파로 전통 문화가 소멸되었다.
② 문화의 수용 과정에서 토착 문화와 융합되었다.
③ 같은 종교를 가진 지역은 동일한 문화 경관을 보인다.
④ 고유 문화와 외래 문화의 갈등이 문화 경관으로 나타났다.
⑤ 문화 전파 과정에서 다른 지역의 문화가 그대로 이식되었다.

17. 도시 내부의 A~C 지역에 대한 설명으로 옳지 않은 것은? [3점]

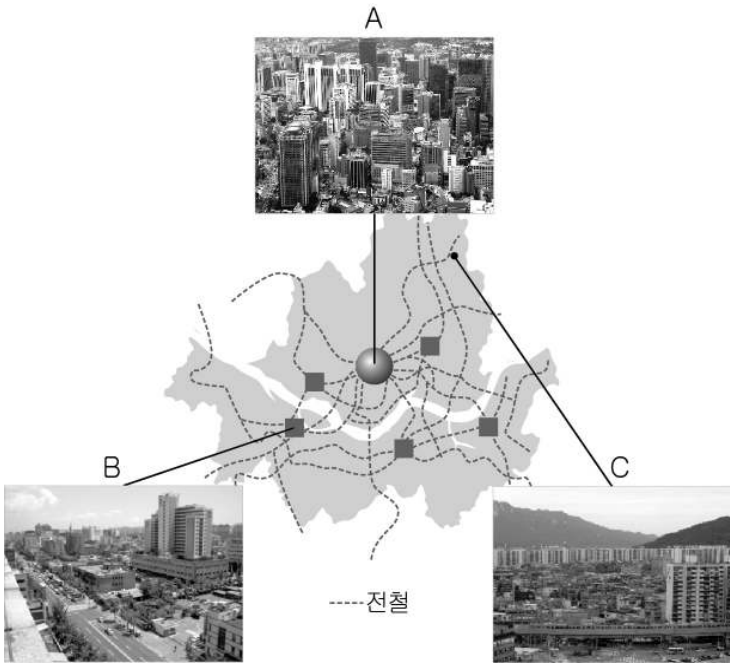

① A에서는 인구 공동화 현상이 나타난다.
② B는 A의 기능 일부를 분담한다.
③ A는 C보다 중심 업무 기능이 밀집되어 있다.
④ B는 C보다 접근성이 낮다.
⑤ 평균 지가는 A>B>C 순이다.

18. (가)~(다)와 같은 가로망이 갖는 특징을 <보기>에서 고른 것은?

(가) (나) (다)

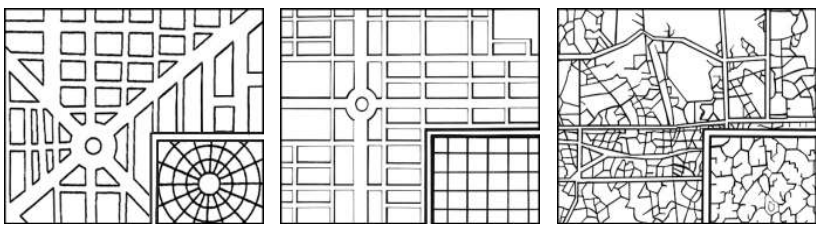

<보 기>

ㄱ. 자연적으로 발생하여 성장한 도시나 역사가 오래된 도시에서 나타난다.
ㄴ. 어느 방향에서나 도심으로의 접근이 용이하나, 도심의 교통 혼잡이 문제될 수 있다.
ㄷ. 시가지가 정연하게 구획되어 건물의 위치를 쉽게 파악할 수 있고, 도시 구획을 정하기에 용이하다.

	(가)	(나)	(다)		(가)	(나)	(다)
①	ㄱ	ㄴ	ㄷ	②	ㄱ	ㄷ	ㄴ
③	ㄴ	ㄱ	ㄷ	④	ㄴ	ㄷ	ㄱ
⑤	ㄷ	ㄱ	ㄴ				

19. (가) 지역에 대한 (나) 지역의 상대적 특성으로 옳은 것을 <보기>에서 고른 것은?

(가) (나)

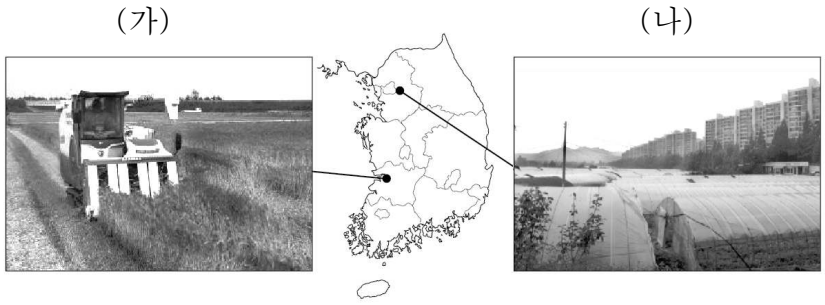

<보 기>

ㄱ. 노인 인구 비율이 높다.
ㄴ. 토지를 집약적으로 이용한다.
ㄷ. 주민들의 직업 구성이 다양하다.
ㄹ. 주곡 작물인 쌀을 주로 재배한다.

① ㄱ, ㄴ ② ㄱ, ㄷ ③ ㄴ, ㄷ ④ ㄴ, ㄹ ⑤ ㄷ, ㄹ

20. 다음 대화 내용을 통해 알 수 있는 지역의 대표적인 전통 가옥으로 알맞은 것은?

①

②

③

④

⑤

* 확인 사항

◦답안지의 해당란에 필요한 내용을 정확히 기입(표기)했는지 확인하시오.