2006학년도 11월 고2 전국연합학력평가 문제지

( )

제 4 교시 | 성명 | | 수험번호 | | | | | 2 | | | | | **1**

- 먼저 수험생이 선택한 과목의 문제지인지 확인하시오.
- 반드시 자신이 선택한 과목의 문제지를 풀어야 합니다.
- 문제지에 성명과 수험 번호를 정확히 기입하시오.
- 답안지에 수험 번호, 선택 과목, 답을 표기할 때에는 반드시 '수험생이 지켜야 할 일'에 따라 표기하시오.
- 문항에 따라 배점이 다르니, 각 물음의 끝에 표시된 배점을 참고하시오. 3점 문항에만 점수가 표시되어 있습니다. 점수 표시가 없는 문항은 모두 2점씩입니다.

1. 지도에 표시된 지역에서 공통적으로 발달한 공업의 특징을 <보기>에서 고르면?

〈보 기〉
ㄱ. 공해가 없는 친환경 산업이다.
ㄴ. 나프타를 분해하여 원료로 사용한다.
ㄷ. 에너지 소비가 적고 원료 가격이 안정적이다.
ㄹ. 장치 공업으로 많은 양의 제품을 생산하는 데 유리하다.

① ㄱ, ㄴ ② ㄱ, ㄷ ③ ㄴ, ㄷ
④ ㄴ, ㄹ ⑤ ㄷ, ㄹ

2. 다음 사례와 관련된 에너지의 특징을 <보기>에서 고르면?

- 공기를 차단한 용기에 음식 찌꺼기나 가축 분뇨와 같은 유기질 쓰레기를 넣고 분해시켜 메탄을 생성한다.
- 탄수화물을 당으로 변환하여 발효시키거나 사탕수수 등을 발효시켜 알코올을 생성한다.

〈보 기〉
ㄱ. 환경 친화적인 무공해 에너지이다.
ㄴ. 원자력 발전의 연료로 많이 쓰인다.
ㄷ. 화석 연료를 대체할 수 있는 에너지이다.
ㄹ. 설치 비용이 저렴하고 연구 개발이 용이하다.

① ㄱ, ㄴ ② ㄱ, ㄷ ③ ㄴ, ㄷ
④ ㄴ, ㄹ ⑤ ㄷ, ㄹ

3. 다음은 ○○ 기업의 현황 조사 보고서의 일부이다. 이 기업의 특징을 <보기>에서 고르면? [3점]

조사 보고서			
과제	우리 지역에 있는 기업체 조사하기		
작성자	김OO	작성일자	2006년 OO월 OO일
항목	내 용		
업체명	OO기업		
업종	컴퓨터 부품 제조업		
종업원수	19명		
자본금	9억원		

〈보 기〉
ㄱ. 경영 규모가 커서 관리 비용이 많이 든다.
ㄴ. 수요에 따라 생산 설비를 쉽게 변경할 수 있다.
ㄷ. 소유와 경영이 분리되어 경영의 전문화가 이루어진다.
ㄹ. 지휘 계통이 일원화되는 직계식 경영 조직에 적합하다.

① ㄱ, ㄴ ② ㄱ, ㄷ ③ ㄴ, ㄷ
④ ㄴ, ㄹ ⑤ ㄷ, ㄹ

4. 그림의 품질 관리도에서 (가)와 같은 현상이 나타날 수 있는 원인을 <보기>에서 고르면? [3점]

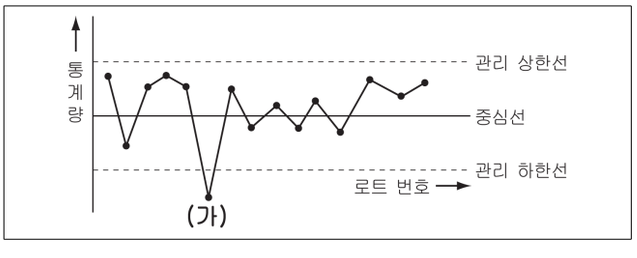

〈보 기〉
ㄱ. 작업자가 교체되었을 때
ㄴ. 작업 방법이 바뀌었을 때
ㄷ. 원료의 가격이 인상되었을 때
ㄹ. 원자재의 운송 수단이 바뀌었을 때

① ㄱ, ㄴ ② ㄱ, ㄷ ③ ㄴ, ㄷ
④ ㄴ, ㄹ ⑤ ㄷ, ㄹ

5. 다음은 게시판을 이용한 질문 내용이다. ㉠, ㉡에 관계되는 법률을 바르게 짝지은 것은?

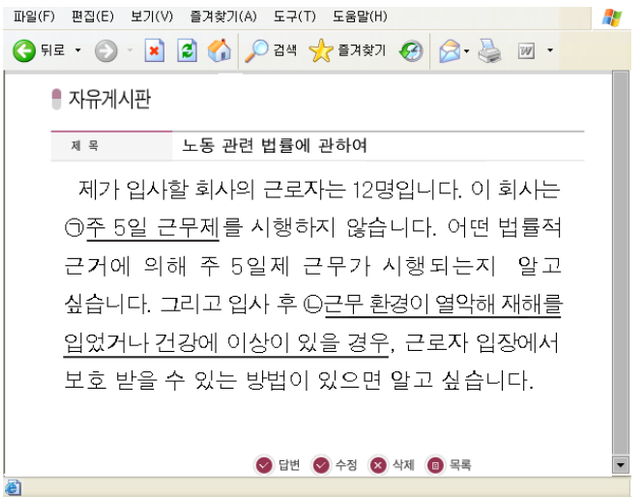

	㉠	㉡
①	근로 기준법	직업 안정법
②	근로 기준법	산업 안전 보건법
③	직업 안정법	산업 안전 보건법
④	직업 안정법	산업 재해 보상 보험법
⑤	산업 안전 보건법	산업 재해 보상 보험법

6. 그래프와 같은 운송비 구조를 가진 공업의 특징을 <보기>에서 고르면? [3점]

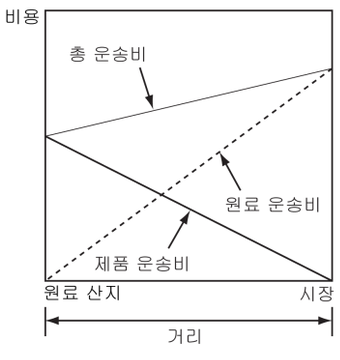

〈보 기〉

ㄱ. 제품 운송비 비중이 큰 공업이다.
ㄴ. 원료의 부패 및 파손 등의 우려가 있는 공업이다.
ㄷ. 관련 공업으로 식품, 인쇄, 출판, 의류, 제약 등이 있다.
ㄹ. 제조 과정에서 원료의 무게나 부피가 감소하는 공업이다.

① ㄱ, ㄴ ② ㄱ, ㄷ ③ ㄴ, ㄷ
④ ㄴ, ㄹ ⑤ ㄷ, ㄹ

7. 다음은 ○○ 기업의 제품 개발 사례이다. 이 기업이 얻을 수 있는 생산 효과를 <보기>에서 고르면?

기존의 휴대폰 충전기는 같은 회사 제품이라도 기종에 따라 충전 구조가 달랐다. 이에 ○○ 기업은 충전기 재구입에 따른 소비자들의 불만을 해결하기 위해 단말기 표준 충전 방식을 개발하여 제조 업체나 모델에 관계 없이 사용할 수 있는 충전기를 만들었다.

〈보 기〉

ㄱ. 규격화된 제품 생산으로 불량품 발생이 없다.
ㄴ. 소품종 소량 생산으로 생산비를 절감할 수 있다.
ㄷ. 제품의 품질을 향상시키고 균일성을 유지할 수 있다.
ㄹ. 물품이나 작업 방법이 통일되므로 호환성이 증가된다.

① ㄱ, ㄴ ② ㄱ, ㄷ ③ ㄴ, ㄷ
④ ㄴ, ㄹ ⑤ ㄷ, ㄹ

8. 다음 신문기사에 나타난 화재의 유형과 진화에 적합한 소화기를 바르게 짝지은 것은? [3점]

○○상가 내 의류 점포에서 전기 과열로 불이 나 상가 건물 300여 평을 태우고 2시간여 만에 진화됐다. 경찰 조사 결과 종업원이 하나의 콘센트에 여러 개의 전열 기구를 연결하여 사용해 화재가 발생한 것으로 드러났다.

- ○○신문-

	화재 유형	소화기
①	B급 화재	할론 소화기
②	B급 화재	분말 소화기
③	C급 화재	분말 소화기
④	C급 화재	포말 소화기
⑤	D급 화재	포말 소화기

9. 다음은 산업 재산권의 사례이다. 이에 대한 출원자의 권리로 옳은 것은? [3점]

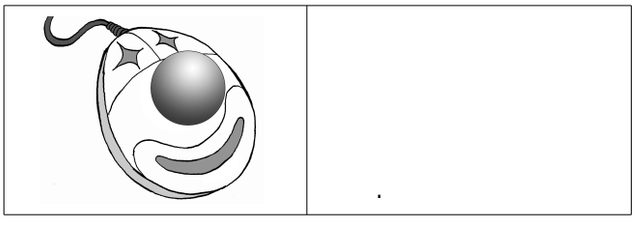

① 출원일로부터 20년간 권리를 가진다.
② 출원일로부터 10년간 권리를 가진다.
③ 설정 등록일로부터 15년간 권리를 가진다.
④ 설정 등록일로부터 10년간 권리를 가진다.
⑤ 갱신절차를 거치면 10년씩 연장된 권리를 가진다.

10. 다음 대화를 통해 알 수 있는 기업 경영 조직의 구성 원칙은?

① 전문화의 원칙　② 통제 범위의 원칙
③ 권한 이양의 원칙　④ 명령 일원화의 원칙
⑤ 계층 단축화의 원칙

11. 우리나라 섬유 공업의 특징을 <보기> 에서 고르면?

〈보 기〉
ㄱ. 수출 주도형 공업으로 주로 해안에 위치해 있다.
ㄴ. 대규모 설비 투자가 소요되는 자본 및 기술 집약적 장치 산업이다.
ㄷ. 다양한 생산 설비 및 디자인과 패션의 개발로 유행에 따른 수요 변화에 신속히 대처하고 있다.
ㄹ. 국제 경쟁력을 갖추기 위해 다품종 소량 생산 체제의 구축과 고감성, 고기능 소재 개발에 주력하고 있다.

① ㄱ, ㄴ　② ㄱ, ㄷ　③ ㄴ, ㄷ
④ ㄴ, ㄹ　⑤ ㄷ, ㄹ

12. 그림은 버드(F. E. Bird)의 개선된 재해 모형이다. (가)와 관련된 재해 요인을 <보기> 에서 고르면? [3점]

〈보 기〉
ㄱ. 작업자의 지식 부족
ㄴ. 작업자의 불안전한 행동
ㄷ. 잘못된 기계·기구 사용법
ㄹ. 무단 운전 및 보호구 미착용

① ㄱ, ㄴ　② ㄱ, ㄷ　③ ㄴ, ㄷ
④ ㄴ, ㄹ　⑤ ㄷ, ㄹ

13. 그래프와 같은 임금 형태의 특징을 <보기> 에서 고르면? [3점]

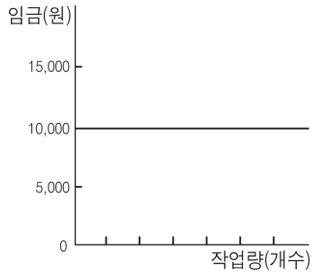

〈보 기〉
ㄱ. 사무직 종사자에게 많이 적용된다.
ㄴ. 노동 시간을 기준으로 임금이 지급된다.
ㄷ. 작업량에 따라 임금의 높고 낮음이 결정된다.
ㄹ. 성과에 따른 임금 지급으로 작업 능률이 향상된다.

① ㄱ, ㄴ　② ㄱ, ㄷ　③ ㄴ, ㄷ
④ ㄴ, ㄹ　⑤ ㄷ, ㄹ

14. 다음과 같은 인사 관리의 기능을 <보기> 에서 고르면? [3점]

○ 소속된 조직 내에서 직무와 관련하여 업무 수행 상 필요한 능력과 업적 등을 객관적으로 측정하고 평가한다.
○ 성과 지향적인 기업 조직에서 그 구성원에 대하여 평가하고 인사 정보를 획득하여 활용한다.

〈보 기〉
ㄱ. 종업원의 처우 결정을 위한 자료가 된다.
ㄴ. 종업원의 능력 개발을 위한 자료가 된다.
ㄷ. 종업원의 의사 소통을 위한 자료가 된다.
ㄹ. 종업원의 경영 참여를 위한 자료가 된다.

① ㄱ, ㄴ　② ㄱ, ㄷ　③ ㄴ, ㄷ
④ ㄴ, ㄹ　⑤ ㄷ, ㄹ

15. 다음과 같은 제도의 운영 효과를 <보기> 에서 모두 고르면?

오존 농도가 일정 기준 이상 높아질 경우, 호흡계 질환 환자나 노약자, 어린이들에게 알려 그 피해를 최소화하고, 오존 농도를 줄이는 데 시민들의 자발적인 협조를 구하기 위해 실시하는 제도이다.

〈보 기〉
ㄱ. 주민의 환경 의식을 고취할 수 있다.
ㄴ. 대기 오염의 피해를 사전에 예방할 수 있다.
ㄷ. 배출되는 오염 물질을 효과적으로 관리할 수 있다.
ㄹ. 환경 오염에 따른 부담금을 효율적으로 배분할 수 있다.

① ㄱ, ㄴ　② ㄴ, ㄹ　③ ㄷ, ㄹ
④ ㄱ, ㄴ, ㄷ　⑤ ㄱ, ㄷ, ㄹ

4 ( )

16. 다음 대화에서 (가), (나)에 들어갈 내용을 바르게 짝지은 것은?

	(가)	(나)
①	생산 방법	식품 공업
②	생산 방법	철강 공업
③	제품의 용도	섬유 공업
④	제품의 용도	기계 공업
⑤	제품의 용도	조선 공업

17. 다음 내용에 해당하는 수출의 유형은?

> ○기계와 장치를 기술적으로 결합하여 제품을 제조할 수 있는 생산 설비 및 단위 공장 등을 모두 포함하여 수출하는 것이다.
> ○우리나라 기업이 필리핀에 화력 발전소를 착공한 데 이어 중국에 원자력발전소건립을 추진하고있는 것이 대표적인예이다.

① 기업 수출 ② 인력 수출 ③ 상품 수출
④ 자본 수출 ⑤ 플랜트 수출

18. 그림과 같은 보호구 착용 효과를 <보기>에서 고르면?

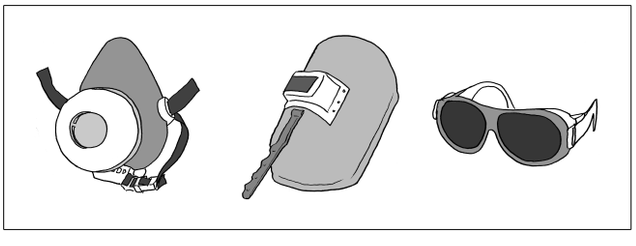

〈보 기〉
ㄱ. 협착과 전도사고를 예방할수 있다.
ㄴ. 충돌과 비래사고를 예방할수 있다.
ㄷ. 호흡기 질환 예방이나 눈을 보호할 수 있다.
ㄹ. 물리적·화학적위험 인자로부터 재해를예방할 수 있다.

① ㄱ, ㄴ ② ㄱ, ㄷ ③ ㄴ, ㄷ
④ ㄴ, ㄹ ⑤ ㄷ, ㄹ

19. 다음 (가), (나)에 해당하는 기업의 생산 방식을 바르게 짝지은 것은? [3점]

> (가) 작업 공정을 여러 단계로 나누고 각 공정별로 일정한 작업 시간을 산정한 뒤, 조립 라인 위에 부품을 차례로 보내면서 조립이 완성되도록 한다.
> (나) 동일한 제품이나 부품을 생산과 품질 관리, 판매 전략에 따라 일정한 수량만 생산한다.

	(가)	(나)
①	일관 생산 방식	주문 생산 방식
②	일관 생산 방식	블록 생산 방식
③	일관 생산 방식	로트 생산 방식
④	독립 생산 방식	연속 생산 방식
⑤	독립 생산 방식	개별 생산 방식

20. 그림은 출자자의 책임 한계에 따라 회사의 유형을 분류한 것이다. (가) 회사에 대한 설명으로 가장 적절한 것은? [3점]

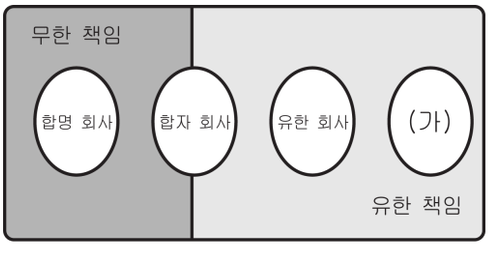

① 다수의 출자자로부터 많은 자본을 조달할 수 있다.
② 출자 의무만 있을 뿐 채무에는 책임을 지지 않는다.
③ 출자자가 출자한 자본은 매매나 양도를 할 수 없다.
④ 출자 금액을 제한하고 출자액 한도 내에서만 책임을 진다.
⑤ 출자액 범위 내에서만 책임을 지는 50인 이내의 사원으로 구성되어 있다.

> ※ **확인사항**
> ○ 문제지와 답안지의 해당란을 정확히 기입(표기) 했는지 확인하시오.